新驾考笔试自学必过宝典

聂其英◎主编

详解考点难点+精讲模拟试题

科目一、科目四笔试全通关

机械工业出版社
CHINA MACHINE PRESS

新驾考笔试自学必过宝典

聂其英　主　编
尹祖德　副主编

机 械 工 业 出 版 社

《新驾考笔试自学必过宝典》紧扣最新驾照考试要求，首先介绍了有关“自学直考”的政策；然后分别对考试科目一、科目四的考点进行解析和归纳，使读者准确掌握知识点；最后将科目一、科目四的考试题进行分类整理，形成模拟试题，与真实考题形式一致，便于应考人员快速掌握应考内容。模拟试题都配有场景图片及标准答案，部分题目还有相应的解析，而且是严格按照考试内容的比例要求进行整理和编写的。

《新驾考笔试自学必过宝典》介绍了机动车驾驶人必须知道的道路交通安全法律、法规和规章，交通信号，安全文明行车常识，机动车驾驶操作基础知识，驾驶职业道德，恶劣气象和复杂道路条件下的驾驶常识，紧急情况下的避险常识，交通事故处理及常见危险化学品处置常识等内容，内容详尽，文字简练，语言生动，通俗易懂，既可供汽车驾驶初学者学习使用，又可供汽车驾驶教练员阅读参考。

图书在版编目（CIP）数据

新驾考笔试自学必过宝典 / 聂其英主编．—3 版．—北京：机械工业出版社，2016.5

ISBN 978-7-111-53859-2

Ⅰ．①新…　Ⅱ．①聂…　Ⅲ．①汽车驾驶员 - 资格考试 - 自学参考资料　Ⅳ．①U471.3

中国版本图书馆 CIP 数据核字（2016）第 113561 号

机械工业出版社（北京市百万庄大街 22 号　邮政编码 100037）

策划编辑：连景岩　杜凡如　责任编辑：连景岩　杜凡如

责任校对：赵　蕊　　封面设计：马精明

责任印制：

印刷厂印刷

2016 年 6 月第 3 版第 1 次印刷

145mm×210mm · 7.5 印张 · 211 千字

0 001—　　册

标准书号：ISBN 978-7-111-53859-2

定价：　　元

凡购本书，如有缺页、倒页、脱页，由本社发行部调换

电话服务　　网络服务

服务咨询热线：010-88361066　机 工 官 网 ：www.cmpbook.com

读者购书热线：010-68326294　机 工 官 博 ：weibo.com/cmp1952

010-88379203　金　书　网 ：www.golden-book.com

封面无防伪标均为盗版　　教育服务网：www.cmpedu.com

前　言

我国汽车工业发展迅猛，汽车产量逐年递增，汽车销量也是一路高歌，2015 年销量为 2459.8 万辆。目前，我国汽车保有量已超过 1.79 亿辆。随着私家车的普及，准备学习汽车驾驶技术、考取机动车驾驶证的人员越来越多。

自 2016 年 4 月 1 日起，全国率先在 16 个城市开展驾照自学直考试点。这一政策的实施对于很多想学车又苦于没有合适时间去驾校学习的人来说，是个大好消息，这样一来可以自行学习并直接考试，省去了必须直面驾校的困惑。为帮助他们学习和掌握汽车理论知识及实际驾驶技能，顺利考取机动车驾驶证，我们组织编写了《新驾考笔试自学必过宝典》一书。

《新驾考笔试自学必过宝典》一书依据《机动车驾驶证申领和使用规定》（公安部 139 号令）和《机动车驾驶人考试内容和方法》（GA 1026—2012）中的有关小型汽车科目一、科目四考试的要求，对内容进行组织和编写。

《新驾考笔试自学必过宝典》一书的宗旨是让应考者通过自学、做题、看题、看解析来记忆，对题目的内容进行理解，不再单纯着眼于试题本身，而是理论联系实际，重在活学活用，不再死记硬背答案。这样更能提高应考者的过关成功率。

《新驾考笔试自学必过宝典》一书主要分为三大部分：介绍了“驾照自学直考”新政，并对其进行解析；全面讲解驾照考试科目一和科目四的基础知识；针对科目一和科目四分别设置了符合考试题型、题数的模拟考试题，并对题目进行详细解析，题量多、内容新。

《新驾考笔试自学必过宝典》内容详尽，文字简练，语言生动，通俗易懂，既适用于汽车驾驶初学者学习使用，又可供汽车驾驶教练员阅读参考。

本书由聂其英主编，参加编写的还有王秀连、李华美、随飞飞、张兰、李由、谢雨林、周山、卢美萍、贾宁、石光洁、陈建斌。由于编者水平有限，不当之处敬请谅解。

编　　者

目录

前言

第一章 驾照“自学直考”新政解读 1

一、新政解读 2
二、试点范围 2
三、自学前流程 2
四、训练路线和时间 3
五、随车指导人员承担交通事故责任 3
六、如何约考？ 4
七、全面取消异地限制 4
八、自学直考有哪些好处？ 4
九、驾照“自学直考”的费用 5
十、驾照“自学直考”的误区 5
十一、“留外”不足 3 个月换证需考全科 5

第二章 科目一考试考点解析 7

第一节 识读交通信号 8

第二节 交通标志 9

一、警告标志 9
二、禁令标志 13
三、指示标志 17
四、指路标志 20
五、作业区标志 27
六、辅助标志 28
七、旅游区标志 29

八、告示标志..... 30

第三节　道路交通标线..... 31

一、指示标线..... 31
二、禁止标线..... 37
三、警告标线..... 39

第四节　交通警察手势信号..... 40

第五节　驾驶证管理..... 42

一、机动车驾驶证种类和准驾车型..... 42
二、驾驶证申请条件..... 43
三、初次申请准驾车型..... 45
四、驾驶证的换证、补证..... 46
五、驾驶证的实习期..... 47
六、驾驶证的审验..... 48
七、驾驶证的注销..... 48
八、驾驶证累积记分..... 49

第六节　机动车管理..... 53

一、机动车登记制度..... 53
二、机动车检验制度..... 55
三、机动车报废制度..... 56

第七节　机动车道路通行规定..... 56

一、灯光、喇叭的使用..... 56
二、道路通行规定..... 58
三、交叉路口通行..... 58
四、机动车限速通行..... 59
五、变更车道规定..... 60
六、跟车和限制超车..... 61
七、会车规定..... 61
八、掉头和倒车规定..... 62
九、铁路道口通行..... 62

十、渡口通行..... 63
十一、受阻路段、路口通行规定..... 63
十二、漫水路、漫水桥通行规定..... 63
十三、人行横道通行规定..... 64
十四、驾驶人的安全行为规定..... 64
十五、装载规定..... 66
十六、牵引故障机动车的规定..... 67
十七、机动车发生故障时的处理规定..... 67

第八节　高速公路管理规定..... 68

一、高速公路行驶规定..... 68
二、驾驶机动车在高速公路上不得有的行为 69
三、驾驶机动车在高速公路上发生故障的处置 69

第九节　道路交通事故处理程序规定..... 70

一、事故现场处置..... 70
二、高速公路事故现场处置..... 70
三、当事人自行解决交通事故..... 70
四、标划现场等候交警处理..... 70
五、立即报警的情形..... 71
六、发生重大交通事故的处理规定..... 71
七、交通事故现场的强制撤离..... 72
八、机动车交通事故责任强制保险..... 72

第十节　道路交通安全法律责任..... 73

一、刑法..... 73
二、行政强制措施..... 73
三、道路交通安全违法行为的行政处罚.... 75
四、部分道路交通安全违法行为的处罚标准 75

第十一节　机动车结构常识..... 78

一、仪表与指示灯..... 78
二、操纵装置..... 81

三、安全装置..... 83
四、各种开关..... 84
五、运行材料..... 84
六、维护和保养..... 85

第十二节　安全行车、文明驾驶基础常识.... 86
一、山区道路安全驾驶常识..... 86
二、跟车、超车、会车和停车..... 87
三、通过桥梁、隧道的安全驾驶知识..... 87
四、夜间安全驾驶知识..... 88
五、恶劣气象和复杂道路条件下的安全驾驶常识 89
六、文明驾驶..... 92

第三章　科目一考试模拟题　93

科目一考试模拟题（一）..... 94
科目一考试模拟题（二）..... 104
科目一考试模拟题（三）..... 115
科目一考试模拟题（四）..... 127
科目一考试模拟题（五）..... 138
科目一考试模拟题（六）..... 148

第四章　科目四（安全文明驾驶常识）考试考点解析　161

第一节　道路驾驶技能..... 162
一、出车前的检查..... 162
二、起步前的调整..... 163
三、安全起步..... 164
四、安全汇入车流..... 164
五、安全跟车距离..... 165

六、安全会车..... 165
七、安全超车、让超车..... 166
八、安全停车..... 167
九、安全掉头..... 167
十、安全倒车..... 167
十一、弯道安全驾驶..... 168
十二、路口安全驾驶..... 168
十三、安全通过人行横道..... 169
十四、安全通过学校区域和居民小区..... 170
十五、安全通过公交车站..... 170
十六、保护乘车人..... 170

第二节　驾驶职业道德和文明驾驶常识..... 171

第三节　恶劣气象和复杂道路条件下的安全行车..... 171

一、通过隧道的安全驾驶..... 171
二、山区道路安全驾驶..... 172
三、夜间安全驾驶..... 173
四、雨天安全驾驶..... 176
五、冰雪道路的安全驾驶..... 177
六、雾天安全驾驶..... 178
七、大风天气的安全驾驶..... 178
八、泥泞、涉水、施工道路的安全驾驶... 179
九、高速公路安全驾驶..... 179

第四节　紧急情况下避险常识..... 182

一、紧急情况通用避险..... 182
二、高速公路紧急避险..... 185

第五节　道路交通事故现场救护及常见危化品处置常识..... 186

一、事故处置..... 186

二、伤员自救、急救..... 186
三、常见危险化学品..... 188

第五章　科目四（安全文明驾驶常识）考试模拟题 191

科目四（安全文明驾驶常识）考试模拟题（一）..... 192
科目四（安全文明驾驶常识）考试模拟题（二）..... 198
科目四（安全文明驾驶常识）考试模拟题（三）..... 205
科目四（安全文明驾驶常识）考试模拟题（四）..... 212
科目四（安全文明驾驶常识）考试模拟题（五）..... 219
参考文献..... 228

第一章

驾照“自学直考”新政解读

自 2016 年 4 月 1 日起，全国率先在 16 个城市开展驾照自学直考试点。这一政策的实施对于很多想学车又苦于没有合适时间去驾校学习的人来说，是个大好消息，这样一来可以自行学习并直接考试，省去了必须直面驾校的困惑。

一、新政解读

我们总结了一下，关于驾照自学直考新政出台后，对于学车者的变化指引，可以归纳成以下几点：

（1）驾照能自学直考，用自己的车也能练。
（2）驾校将计时培训，计时收费。
（3）考试不用长时间排队，将建更多社会考场。
（4）约考不再靠驾校，可自主选择考试时间。

二、试点范围

在天津、包头、长春、南京、宁波、马鞍山、福州、吉安、青岛、安阳、武汉、南宁、成都、黔东南、大理、宝鸡 16 个城市开展自学直考试点。

三、自学前流程

在正式自学之前也有相关流程需要完成，自学人员要经过道路交通安全法律、法规和相关知识考试，合格后应与随车指导人员一起向户籍地或者居住地的地市级车管所领取学习驾驶证明和学车专用标识。练习时则需要携带学习驾驶证明，在限定训练车辆车身前后放置、粘贴学车专用标识，就可按照随车指导人员的指导，在规定路段学习驾驶。各科目考试设置如下：

科目一：笔试　交通法规及相关知识

合格：90 分

科目二：实车场地驾驶

包含内容：倒车入库、侧方位停车、S 弯、直角转弯、坡道定点起步与停车。

合格：90 分

科目三：实车道路驾驶

公路或模拟场地

合格：90 分

科目四：笔试　安全文明驾驶相关知识

合格：90 分

改革变化：公安部将逐步推行科目二、三一次性预约，连续考试。

四、训练路线和时间

在道路上学习驾驶，应按照公安交管部门指定的路线和时间进行，高速公路、城市快速路、学校和医院周边道路不得作为学习驾驶路线，0 时至 5 时、道路交通高峰时段不得作为学习驾驶时间。

五、随车指导人员承担交通事故责任

根据《道路交通安全法》及其实施条例，自学人员在随车指导人员指导下发生交通违法行为的，应对随车指导人员予以处罚。自学人员有未取得学习驾驶证明、学习驾驶证明超过有效期、无具备资格人员随车指导等行为的，按照未取得机动车驾驶证驾驶机动车违法行为，对自学人员予以处罚；属于将机动车交由自学人员驾驶的，对行为人予以处罚。学习驾驶期间发生交通事故的，依法由随车指导人员承担责任，无具备资格人员指导的，自学人员自行承担法律责任。

六、如何约考？

多渠道自由报名考试，驾校不再是唯一通径。提供网络、电话、窗口等多种报考、约考渠道，改变驾校集中包办约考，取消考试名额分配制。同时，公安部部署在福建、广东等 19 个省的 28 个城市试点全国统一约考平台，实现网上报名、网上约考、网上缴费。

七、全面取消异地限制

申领、补办、审验驾驶证，取消地域限制，在居住地即可申请办理。

全面放开所有车型驾驶证异地申请、异地考试，申请人持身份证和居住证即可在居住地申领驾驶证。同时，全面放开驾驶证异地补领、换领、审验，驾驶人持身份证即可在全国范围内办理补 / 换证、审证业务。

八、自学直考有哪些好处？

1. 节约时间成本

考过驾照的人都知道，时间安排上往往与自身工作时间相冲突，牵扯非常大的精力，如果选择自学方式，学车时间可以根据学员自身情况自由选择。预约考试时间，也可以自由选择，最大的变化在于学员手里掌握了时间安排的自主权。

2. 节约金钱成本

在过往，学车是个既花时间又花钱的过程，如果选择自学直考模式，就不需要交给驾校一笔学车费用，至于学车时候租约场地等费用的开销，后文我们会讲到。

3. 选择适合自己的车辆

在驾校学车，学员所驾驶的车辆往往固定，选择性不大。开放自学模式后，只要是通过交管部门认证的车辆，满足上路学习用车型法规，便可以作为训练车型学习使用，如此一来，

学员可以根据日后驾驶车辆种类进行自由选择，做到无缝衔接。

九、驾照“自学直考”的费用

首先，确认一个前提，报名“自学直考”的学员需要先通过科目一法规的考试。由于科目二中包括侧方位停车、坡道起步等内容的限制，不少人还需要到驾校借用场地，目前市场参考价如下：

场地费（150 元 / 小时 ×34 学时）+ 油费 + 科目考试费，补考费用及其他……

如此算下来，费用着实不低，能否节省费用，还要看个人租借场地情况。

十、驾照“自学直考”的误区

关于自学驾照，落实到具体实施阶段，会有不少问题，在这里进行了总结，避免大家碰到误区：

误区 1：自己家的车直接就能充当教练车了吗？

不可以，所有车辆需要经过专业改装，包括副制动踏板、副后视镜等，并且需要通过交管部门的认定，检验合格后方可成为教练用车。

误区 2：直接找陪练就可以了吗？

按照“自学直考”的要求，明确指出随车指导人员不得利用自学用车从事经营性驾驶教学活动，一辆训练车只能签注一个学员、一个指导人员。已经签注过的随车指导人员或者自学用车，需要培训另一名自学人员的，自上次签注之日起三个月后，方可重新领取学车专用标志。这也就意味着，如果驾校教练 / 陪练想单干，三个月才能指导一个人，非常不划算。

误区 3：直接上路练习，算无照驾驶吗？

只要驾驶合规教练车，在公安部门划定的自学道路范围内，且在有教练资格人的陪同下开车，就不会认定为“无证驾驶”。

十一、“留外”不足3个月换证需考全科

境外驾驶证换领我国驾驶证时，公安机关将启动出入境记录核查程序。对长期在国外生活居住的我国内地居民和境外驾驶人，持境外驾驶

证换领国内驾驶证的，应当进行科目一考试，申请大中型客货车驾驶证的，还应当进行科目三考试。此外，我国内地居民取得境外驾驶证时，在核发国家或地区连续居留不足 3 个月的，换领我国驾驶证时，需要参加全部科目考试。

第二章

科目一考试考点解析

第一节 识读交通信号

交通信号灯有红、黄、绿三种颜色，红灯亮表示禁止通行，绿灯亮表示准许通行，黄灯亮表示警示。

交通信号灯分为机动车信号灯、非机动车信号灯、人行横道信号灯、车道信号灯、方向指示信号灯、闪光警告信号灯、道路与铁路平面交叉道口信号灯。

1. 机动车信号灯和非机动车信号灯

（1）绿灯亮时，准许车辆通行，但转弯的车辆不得妨碍被放行的直行车辆、行人通行。

（2）黄灯亮时，已越过停止线的车辆可以继续通行，没有越过停止线的车辆不得进入路口，更不能加速抢行通过路口。

（3）红灯亮时，禁止车辆通行。右转弯的车辆在不妨碍被放行的车辆、行人通行的情况下，可以通行。

2. 人行横道信号灯

（1）绿灯亮时，准许行人通过人行横道。

（2）红灯亮时，禁止行人进入人行横道，但是已经进入人行横道的，可以继续通过或者在道路中心线处停留等候。

3. 车道信号灯

（1）绿色箭头灯亮时，准许本车道车辆按指示方向通行。

（2）红色叉形灯或者箭头灯亮时，禁止本车道车辆通行。

4. 闪光警告信号灯

闪光警告信号灯为持续闪烁的黄灯，提示车辆、行人通行时注意瞭望，确认安全后通过。

5. 方向指示信号灯

方向指示信号灯为绿色箭头灯，灯亮时，允许车辆按照箭头指示方向，分别选择右转弯、直行、左转弯车道行驶。

6. 道路与铁路平面交叉道口信号灯

道路与铁路平面交叉道口有两个红灯交替闪烁或者一个红灯亮时，表示禁止车辆、行人通行；红灯熄灭时，表示允许车辆、行人通行。

第二节　交通标志

交通标志有警告标志、禁令标志、指示标志、指路标志、作业区标志、辅助标志、旅游区标志、告示标志 8 种。

一、警告标志

警告标志是警告车辆、行人注意危险地点的标志，为黄底、黑边、黑图案，形状为等边三角形，顶角向上，驾驶人见到警告标志后，应引起注意，谨慎驾驶，减速慢行。

十字交叉	T形交叉（右侧）	T形交叉（左侧）	T形交叉
除了基本形十字路口外，还有部分变异的十字路口，如：五路交叉路口、变形十字路口、变形五路交叉路口等。五路以上的路口均按十字路口对待。	T形交叉标志原则上设在与交叉路口形状相符的道路上。		

Y形交叉	环形交叉	向左急弯路	向右急弯路
设在Y形路口以前的适当位置。	有的环形交叉路口，由于受地形限制或障碍物阻挡，此标志设在面对来车路口的正面。	向左急弯路标志设在左急转弯的道路前方适当位置。	向右急弯路标志设在右急转弯的道路前方适当位置。
反向弯路	连续弯路	上陡坡	下陡坡
此标志设在两个相邻的方向相反的弯路前适当位置。	警告前方道路是设计车速小于60公里/小时、连续有三个或三个以上的反向弯路的路段，要减速、鸣喇叭、靠右行。	设在纵坡度7%和市区纵坡度大于4%的陡坡道路前适当位置。	
两侧变窄	右侧变窄	左侧变窄	窄桥
车行道两侧变窄主要指沿道路中心线对称缩窄的道路。此标志设在窄路以前适当位置。	表示车行道右侧缩窄。此标志设在窄路以前适当位置。	车行道左侧缩窄。此标志设在窄路以前适当位置。	此标志设在桥面宽度小于路面宽度的窄桥以前适当位置。

双向交通	**注意行人**	**注意儿童**	**注意牲畜**
在双向行驶的道路上，采用天然的或人工的隔离措施，把上下行交通完全分离，由于某种原因（施工、桥、隧道）形成无隔离的双向车道时，须设置此标志。	一般设在郊外道路上划有人行横道的前方。城市道路上因人行横道线较多，可根据实际需要设置。	此标志设在小学、幼儿园、少年宫、儿童游乐场等儿童频繁出入的场所或通道处。	此标志设在经常有牲畜活动的特别是视线不良的路段以前适当位置。
注意信号灯	**注意落石**	**注意落石**	**注意横风**
此标志设在不易发现前方为信号灯控制的路口前适当位置。	此标志设在左侧有落石危险的傍山路段之前适当位置。	此标志设在右侧有落石危险的傍山路段之前适当位置。	此标志设在经常有很强的侧风并有必要引起注意的路段前适当位置。

易滑	**傍山险路**	**堤坝路**
此标志设在路面的摩擦系数不能满足相应行驶速度下要求紧急制动距离的路段前适当位置。行驶至此路段必须减速慢行。	此标志设在山区地势险要路段（道路外侧为陡壁、悬崖危险的路段）以前适当位置。	此标志设在沿水库、湖泊、河流等堤坝路以前适当位置。

村庄	隧道	渡口	驼峰桥
此标志设在不易发现前方有村庄或小城镇的路段以前适当位置。	此标志设在进入隧道前适当位置。	此标志设在汽车渡口以前适当位置。特别是有的渡口地形较为复杂、道路条件较差，使用此标志能提示驾驶人谨慎驾驶、注意安全。	此标志设在注意前方是拱度较大，不易发现对方来车，应靠右侧行驶并应减速慢行路段以前适当位置。
路面不平	过水路面	有人看守铁路道口	无人看守铁路道口
此标志设在路面不平的路段以前适当位置。	此标志设在过水路面或漫水桥路段以前适当位置。	此标志设在不易发现的有人看守铁路道口以前适当位置。	此标志设在无人看守铁路道口以前适当位置。
注意非机动车	事故易发路段	慢行	左右绕行
此标志设在混合行驶的道路并经常有非机动车横穿、出入的地点以前适当位置。	此标志设在交通事故易发路段以前适当位置。	此标志设在前方需要减速慢行的路段以前适当位置。	此标志表示有障碍物，左右侧绕行，放置在路段前适当位置。

左侧绕行	右侧绕行	施工	注意危险
此标志表示有障碍物，左侧绕行，放置在路段前适当位置。	此标志表示有障碍物，右侧绕行，放置在路段前适当位置。	此标志可作为临时标志设在施工路段以前适当位置。	此标志设在以上标志不能包括的其他危险路段以前适当位置。
斜杠符号	斜杠符号	斜杠符号	叉形符号
表示距无人看守铁路道口的距离为50米。	表示距无人看守铁路道口的距离为100米。	表示距无人看守铁路道口的距离为150米。	表示多股铁道与道路交叉，设在无人看守铁路道口标志上端。

二、禁令标志

禁令标志的作用是表示禁止、限制及相应解除的含义，车辆、行人要严格遵守。

禁止通行	禁止驶入	禁止机动车通行	禁止载货汽车通行
表示禁止一切车辆和行人通行。此标志设在禁止通行的道路入口处。	表示禁止车辆驶入。此标志设在禁止驶入的路段入口处。	表示禁止某种机动车通行。此标志设在禁止机动车通行的路段入口处。	表示禁止载货汽车通行。此标志设在载货汽车通行的路段入口处。

禁止三轮机动车通行	禁止大型客车通行	禁止小型客车通行	禁止汽车拖、挂车通行
表示禁止三轮机动车通行。此标志设在禁止三轮机动车通行的路段入口处。	表示禁止大型客车通行。此标志设在禁止大型客车通行的路段入口处。	表示禁止小型客车通行。此标志设在禁止小型客车通行的路段入口处。	表示禁止汽车拖、挂车通行。此标志设在禁止汽车拖、挂车通行的路段入口处。
禁止拖拉机通行	禁止农用运输车通行	禁止摩托车通行	禁止某两种车通行
表示禁止拖拉机通行。此标志设在禁止拖拉机通行的路段入口处。	表示禁止农用运输车通行。此标志设在禁止农用运输车通行的路段入口处。	表示禁止摩托车通行。此标志设在禁止摩托车通行的路段入口处。	表示禁止某两种车通行。此标志设在禁止某两种车通行的路段入口处。
禁止非机动车通行	禁止畜力车通行	禁止人力货运三轮车通行	禁止人力客运三轮车通行
表示禁止非机动车通行。此标志设在禁止非机动车通行的路段入口处。	表示禁止畜力车通行。此标志设在禁止畜力车通行的路段入口处。	表示禁止人力货运三轮车通行。此标志设在禁止人力货运三轮车通行的路段入口处。	表示禁止人力客运三轮车通行。此标志设在禁止人力客运三轮车通行的路段入口处。

禁止人力车通行	**禁止骑自行车下坡**	**禁止骑自行车上坡**	**禁止行人通行**
表示禁止人力车通行。此标志设在禁止人力车通行的路段入口处。	表示禁止骑自行车下坡通行。此标志设在禁止骑自行车下坡通行的路段入口处。	表示禁止骑自行车上坡通行。此标志设在禁止骑自行车上坡通行的路段入口处。	表示禁止行人通行。此标志设在禁止行人通行的路段入口处。
禁止向左转弯	**禁止向右转弯**	**禁止直行**	**禁止向左向右转弯**
表示前方路口禁止一切车辆向左转弯。此标志设在禁止向左转弯的路口前适当位置。	表示前方路口禁止一切车辆向右转弯。此标志设在禁止向右转弯的路口前适当位置。	表示前方路口禁止一切车辆直行。此标志设在禁止直行的路口前适当位置。	表示前方路口禁止一切车辆向左向右转弯。此标志设在禁止向左向右转弯的路口前适当位置。
禁止直行和向左转弯	**禁止直行和向右转弯**	**禁止掉头**	**禁止超车**
表示前方路口禁止一切车辆直行和向左转弯。此标志设在禁止直行和向左转弯的路口前适当位置。	表示前方路口禁止一切车辆直行和向右转弯。此标志设在禁止直行和向右转弯的路口前适当位置。	表示前方路口禁止一切车辆掉头。此标志设在禁止掉头的路口前适当位置。	表示该标志至前方解除禁止超车标志的路段内，不准机动车超车。此标志设在禁止超车的起点。

解除禁止超车	禁止车辆临时或长时停放	禁止车辆长时停放	禁止鸣喇叭
表示禁止超车路段结束。此标志设在禁止超车的终点。	表示在限定的范围内，禁止一切车辆临时或长时停放。此标志设在禁止车辆停放的地方。禁止车辆停放的时间、车种和范围可用辅助标志说明。	禁止车辆长时停放，临时停放不受限制。禁止车辆停放的时间、车种和范围可用辅助标志说明。	表示禁止鸣喇叭。此标志设在需要禁止鸣喇叭的地方。禁止鸣喇叭的时间和范围可用辅助标志说明。
限制宽度	限制高度	限制质量	限制轴重
表示禁止装载宽度超过标志所示数值的车辆通行。此标志设在最大允许宽度受限制的地方。 以图为例：装载宽度不得超过3米。	表示禁止装载高度超过标志所示数值的车辆通行。此标志设在最大允许高度受限制的地方。 以图为例：装载高度不得超过3.5米。	表示禁止总质量超过标志所示数值的车辆通行。此标志设在需要限制车辆质量的桥梁两端。以图为例：装载总质量不得超过10吨。	表示禁止轴重超过标志所示数值的车辆通行。此标志设在需要限制车辆轴重的桥梁两端。以图为例：限制车辆轴重量不得超过7吨。
限制速度	解除限制速度	停车检查	停车让行
表示该标志至前方限制速度标志的路段内，机动车行驶速度不得超过标志所示数值。此标志设在需要限制车辆速度的路段的起点。以图为例：限制行驶速度不得超过40公里/小时。	表示限制速度路段结束。此标志设在限制车辆速度路段的终点。	表示机动车必须停车接受检查。此标志设在关卡将近处，以便要求车辆接受检查或办理缴费等手续。标志中可加注说明检查事项。	表示驾驶人必须在停止线以外停车瞭望，确认安全后，才准许通行。停车让行标志在下列情况下设置：（1）与交通流量较大的干路平交的支路路口；（2）无人看守的铁路道口；（3）其他需要设置的地方。

减速让行	会车让行	禁止运输危险物品车辆驶入标志	海关
表示车辆应减速让行，告示车辆驾驶人必须慢行或停车，观察干路行车情况，在确保干路车辆优先的前提下，认为安全时方可续行。此标志设在视线良好的交叉道路的次要路口。	表示车辆会车时，必须停车让对方车先行。设置在会车有困难的狭窄路段的一端或由于某种原因只能开放一条车道作双向通行路段的一端。	表示禁止运输危险物品车辆驶入。设在禁止运输危险物品车辆驶入路段的入口处。	表示道路前方是海关，所有机动车应停车后方可通过。

三、指示标志

指示标志的作用是指示车辆、行人行进的含义，车辆、行人要遵守。

直行	向左转弯	向右转弯	直行和向左转弯
表示只准一切车辆直行。此标志设在直行的路口以前适当位置。	表示只准一切车辆向左转弯。此标志设在车辆必须向左转弯的路口以前适当位置。	表示只准一切车辆向右转弯。此标志设在车辆必须向右转弯的路口以前适当位置。	表示只准一切车辆直行和向左转弯。此标志设在车辆必须直行和向左转弯的路口以前适当位置。

直行和向右转弯	向左和向右转弯	靠右侧道路行驶	靠左侧道路行驶
表示只准一切车辆直行和向右转弯。此标志设在车辆必须直行和向右转弯的路口以前适当位置。	表示只准一切车辆向左和向右转弯。此标志设在车辆必须向左和向右转弯的路口以前适当位置。	表示只准一切车辆靠右侧道路行驶。此标志设在车辆必须靠右侧行驶的路口以前适当位置。	表示只准一切车辆靠左侧道路行驶。此标志设在车辆必须靠左侧行驶的路口以前适当位置。
立交直行和左转弯行驶	立交直行和右转弯行驶	环岛行驶	步行
表示车辆在立交处可以直行和按图示路线左转弯行驶。此标志设在立交左转弯出口处适当位置。	表示车辆在立交处可以直行和按图示路线右转弯行驶。此标志设在立交右转弯出口处适当位置。	表示只准车辆靠右环行。此标志设在环岛面向路口来车方向适当位置。	表示该街道只供步行。此标志设在步行街的两端。
鸣喇叭	最低限速	单行路标志（向右和向左）	单行路（直行）
表示机动车行至该标志处必须鸣喇叭。此标志设在公路的急转弯处、陡坡等视线不良路段的起点。	表示机动车驶入前方道路之最低速度限制。此标志设在高速公路或其他道路限速路段的起点。	表示只准一切车辆向右和向左单向行驶。此标志设在单行路的入口处适当位置。	表示标志前方的道路为直行单行路，已进入的车辆要依标志指示方向行车。此标志设在单行路的入口处适当位置。

路口优先通行标志	会车先行	人行横道	公交线路专用车道
表示前方交叉路口主要道路上的车辆享有优先通行权。	表示在前方路段会车时享有优先通行权。	表示该处为专供行人横穿马路的通道。此标志设在人行横道的两侧。	表示该车道专供本线路行驶的公交车辆行驶。此标志设在进入该车道的起点及各交叉路口入口处以前适当位置。
			
直行车道	直行和右转合用车道	分向行驶车道	右转车道
表示车道的行驶方向。此标志设在导向车道以前适当位置。			
机动车行驶	机动车车道	非机动车行驶	非机动车车道
表示机动车行驶。此标志设在道路或车道的起点及交叉路口入口处前适当位置。	表示该车道专供机动车行驶。此标志设在车道的起点及交叉路口入口处前适当位置。	表示非机动车行驶。此标志设在道路或车道的起点及交叉路口入口处前适当位置。	表示该车道专供非机动车行驶。此标志设在车道的起点及交叉路口入口处前适当位置。

允许掉头	快速公交系统专用车道	多成员车辆专用车道	地点距离
表示允许掉头。此标志设在允许机动车掉头路段的起点和路口以前适当位置。	快速公交系统，英文简称为BRT，享受专用车道的优先权利。	多成员指除驾驶人以外还有其他人乘坐，如果标明“+3”则表明车上乘坐的人数为3人或3人以上。	遇到地点距离标志时，可根据标志指示前方所要经过的公路编号、道路名、地名和距离信息选择行使路线。

四、指路标志

指路标志是传递道路方向、地点、距离信息的标志。形状为长方形，一般道路指路标志为蓝底、白色图案，高速公路指路标志为绿底、白色图案。

指路标志的作用是指引道路信息，为驾驶人传递道路方向、地点、距离信息。

1. 一般道路指路标志

地名	著名地点	行政区划分界	道路管理分界
国道编号	省道编号	县道编号	乡道编号

香河 崔黄口　下仓 前方 500m	长椿街　宣武门　前门 前方 300m	贵阳 天龙　织金	阜成门 新街口 白石桥
互通式立交预告	交叉路口预告	十字交叉路口	十字交叉路口
长陵 5km 南口 10km　顺义 30km	息烽县 25 Km 修文县 18 Km 扎佐镇 14 Km	西单　平安里	王府井 美术馆
十字交叉路口	十字交叉路口	丁字交叉路口	丁字交叉路口
镇宁 火车站　南华路	中央门 挹江门　太平门 草场门	香河 北京　天津	黄果树 惠水　六枝
环形交叉路口	环形交叉路口	互通式立交	互通式立交
马驹桥 廊坊　大羊坊	关岭 黄果树　朗岱	珠海　南沙	横沥　3km 中山 35km 珠海 65km
互通式立交	互通式立交	分岔处	地点距离
火车站	轮渡	地铁站	餐饮
地点识别标志	地点识别标志	地点识别标志	地点识别标志
加油站	飞机场	长途汽车站	急救站
地点识别标志	地点识别标志	地点识别标志	地点识别标志
路滑慢行	3.8%　陡坡慢行	慢　多雾路段	软基路段
告示牌	告示牌	告示牌	告示牌
注意横风	事故易发点	连续下坡	金鸡关隧道 长500m
告示牌	告示牌	告示牌	告示牌

停车场	停车场	停车场	错车道
		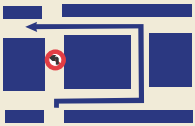	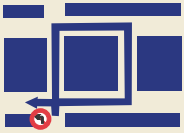
人行天桥	人行地下通道	绕行标志	绕行标志
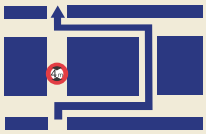			
绕行标志	此路不通	残疾人专用设施	车道数变少
车道数增加	交通监控设备	隧道出口距离预告	应急避难场所
观景台	休息区	室内停车场	

2. 高速公路指路标志

入口预告	入口预告	入口预告	入口预告
1公里前预告高速公路入口	500米前预告高速公路入口	200米前预告高速公路入口	通过互通立交进入高速公路的入口预告标志
入口预告	入口预告	入口预告	入口预告
从省道进入高速公路的入口预告标志	通向高速公路两个方向的入口预告	高速公路入口的地点方向	通向高速公路某方向的入口预告
入口	起点	终点预告	终点提示
终点	下一出口预告	下一个出口预告	出口编号预告
出口预告	出口预告	出口预告	右侧出口预告

珠 海 ZHUHAI ↓ 14B 出口 EXIT	南 沙 NANSHA ↗ 14A 出口 EXIT	珠 海 ZHUHAI ↗ 14B 出口 EXIT	出口 EXIT ↗
出口预告	出口预告	出口预告	出口
车辆需走直行车道，由“14B”出口	车辆需走减速车道，由“14A”出口		
出口 EXIT ↗ 南 沙 NANSHA	出口 EXIT ↗ 14 南 沙 NANSHA	↖ 石家庄 SHIJIAZHUANG	天津 TIANJIN ↓
出口	出口	地点方向	地点方向
↗ 太原 TAIYUAN	S203 ↗	G105 ↗	↑ 广州 GUANGZHOU 珠 海 ZHUHAI 南 沙 NANSHA ↗
地点方向	地点方向	地点方向	地点方向
↑ 乳源 RUYUAN ← S203 G105 →	横沥 HENGLI 7 km 坦尾 TANWEI 12 km 虎门 HUMEN 28 km	收费站 TOLL GATE 2 km	收费站 TOLL GATE 1 km
地点方向	地点距离	不设电子不停车收费（ETC）车道的收费站预告	不设电子不停车收费（ETC）车道的收费站预告

收费站500m减速 TOLL GATE SLOW DOWN	收费站 TOLL GATE		400m
收费站预告	收费站	紧急电话	电话位置指示
300m			宜兴埠 YIXINGBU 2km
电话位置指示	加油站	紧急停车带	服务区预告
宜兴埠 YIXINGBU 1km	宜兴埠 YIXINGBU	宜兴埠 YIXINGBU 服务区 SERVICE AREA	浪 网 LANGWANG 1km
服务区预告	服务区预告	服务区预告	停车区预告
浪 网 LANGWANG	浪 网 LANGWANG 停车区 REST AREA	南 口 NANKOU	南 口 NANKOU P PARKING AREA
停车区预告	停车区预告	停车场预告	停车场预告
P	大型车辆 爬 坡 车 道 CLIMBING LANE	大型车辆 爬 坡 车 道 CLIMBING LANE	爬 坡 车 道 CLIMBING LANE
停车场	爬坡车道	爬坡车道	爬坡车道

爬坡车道	车距确认	车距确认	车距确认
车距确认	车距确认	道路交通信息	道路交通信息
		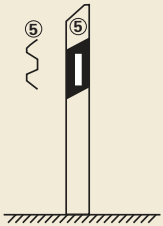	
道路交通信息	里程牌	百米牌	分流
			
合流	线形诱导标基本单元	线形诱导标基本单元	ETC车道指示

基本单元组合使用	基本单元组合使用	基本单元组合使用	右侧通行
左侧通行	两侧通行	特殊天气建议速度	停车领卡

五、作业区标志

作业区标志的作用是通告道路交通阻断、绕行等情况。

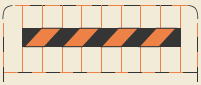			
施工路栏	施工路栏	锥形交通标	锥形交通标
			
道口标柱	前方施工	前方施工	道路施工

道路封闭	道路封闭	道路封闭	右道封闭
右道封闭	右道封闭	左道封闭	左道封闭
左道封闭	中间封闭	中间封闭	中间封闭
车辆慢行	向左行驶	向右行驶	向左改道
			
向右改道	移动型施工标志		

六、辅助标志

凡主标志无法完整表达或指示某内容时，为维护行车安全和交通畅通，设置辅助标志。辅助标志底色为白色，黑边框，形状为长方形。辅助标志的作用是附设在主标志的下方进行辅助说明。

7:30-10:00	7:30-9:30 16:00-18:30	除公共 汽车外	
时间范围	时间范围	除公共汽车外	机动车
	货车 拖拉机	200m	100m
货车	货车、拖拉机	距离某地200米	向左100米
50m 50m	100m	二环路 区域内	学校
向左、向右各50米	向右100米	某区域内	学校
海关	事故	塌方	
海关	事故	塌方	公共汽车
100m 7:30-18:30			TAXI
组合辅助	无轨电车	租赁车	出租车

七、旅游区标志

旅游区标志是提供旅游景点方向、距离的标志。为吸引和指示人们从高速公路或其他道路上前往邻近的旅游区，在通往旅游景点的道路上设置一系列旅游标志，使旅游者能方便地识别通往旅游区的方向和距离。旅游区标志底色为棕色，白色字符图案，形状为长方形和正方形，包括指引标志和旅游符号。

旅游区方向	旅游区距离	问询处	徒步	索道
野营地	营火	游戏场	骑马	钓鱼
高尔夫球	潜水	游泳	划船	冬季游览区
滑雪		滑冰		

八、告示标志

严禁酒后驾车标志	严禁乱扔弃物标志	急弯减速慢行标志	

急弯下坡减速慢行标志	系安全带标志	大型车靠右标志 驾驶时禁用手机标志	校车停靠站点标志

第三节　道路交通标线

道路交通标线按功能可分为指示标线、禁止标线、警告标线三大类。

一、指示标线

指示标线是用以指示车行道、行车方向、路面边缘、人行道等设施的标线。

	
可跨越对向车行道分界线	可跨越同向车行道分界线
黄色虚线，用于分隔对向行驶的交通流。一般设在车行道中线上，但不限于一定设在道路的几何中心线上。在保证安全的情况下，允许车辆越线超车或向左转弯。	白色虚线，用来分隔同向行驶的交通流，设在同向行驶的车行道分界线上。在保证安全的情况下，允许车辆越线变换车道行驶。

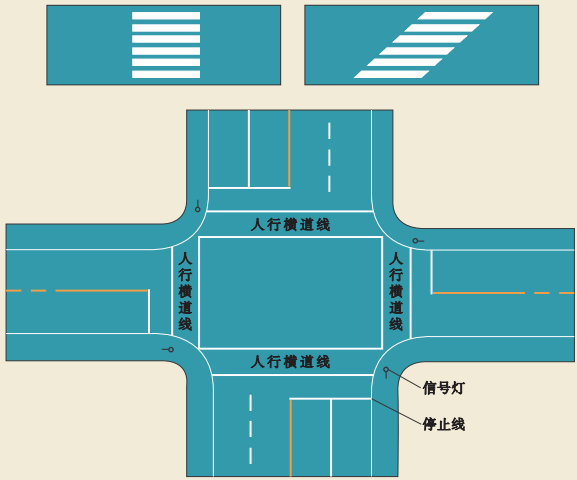

人行横道线

（1）人行横道线有正交和斜交线，为白色平行粗实线（斑马线），表示准许行人横穿车行道的标线。

（2）信号灯控制路口的人行横道线，采用两条平行粗实线划出人行横道线的范围，可不施划斑马线。

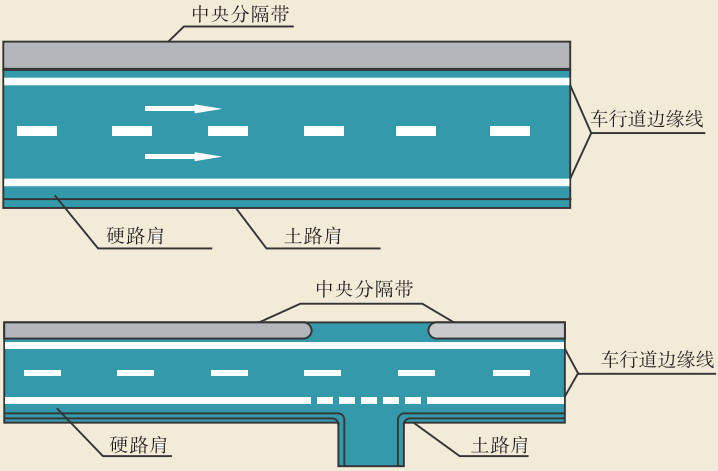

车行道边缘线

车行道边缘线为白色实线，用来指示机动车道的边缘，或用来划分机动车道与非机动车道的分界。

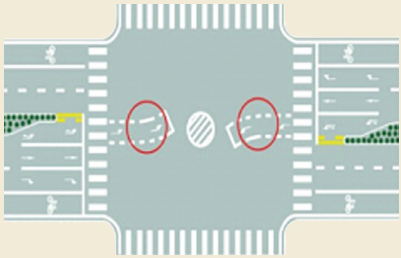

左弯待转区线

左弯待转区线为白色虚线，它用来指示左转车辆可在直行时段进入待转区，等待左转。左转时段终止，禁止车辆在待转区停留。

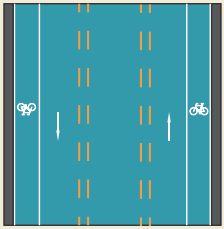

潮汐车道线

潮汐式可变车道线为黄色双虚线，用以指示行车方向随时间改变之可变车道。

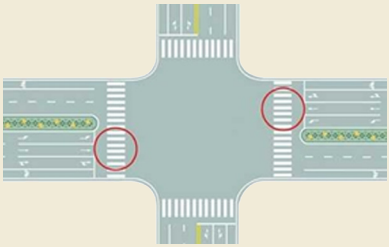

与道路中心垂直的人行横道线

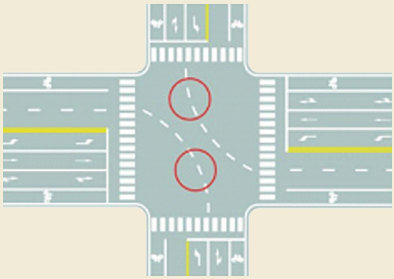

路口导向线一

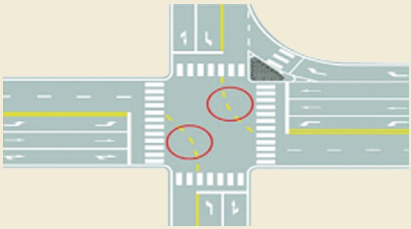

路口导向线二

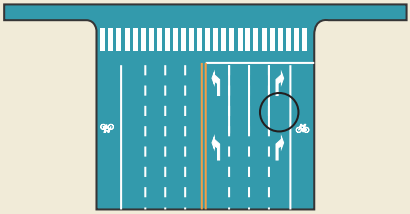

路口导向线

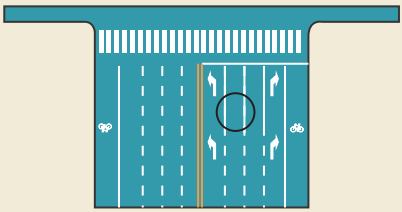

可变导向车道线

人行横道预告标识线

可变导向车道线为白色齿形线，设置在需要变化行车方向的路口导向车道内，导向车道内不设置导向箭头。

人行横道预告标识线为白色菱形图案。城镇地区需在路段中间设置人行横道线时，应在到达人行横道线前的路面上设置预告标示，用来提示前方接近人行横道，必须注意行人横穿马路。

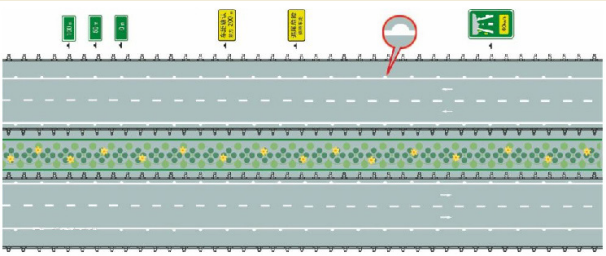

白色半圆状车距确认线

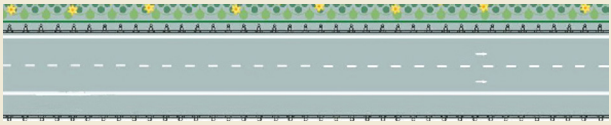

白色平行粗实线车距确认线

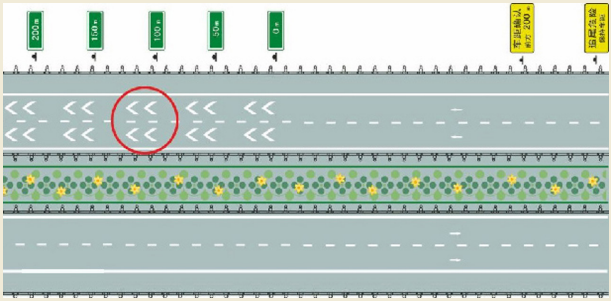

白色折线车距确认线

高速公路车距确认标线为白色平行粗实线、白色折线或白色半圆，用以提供车辆驾驶人保持行车安全距离的参考。

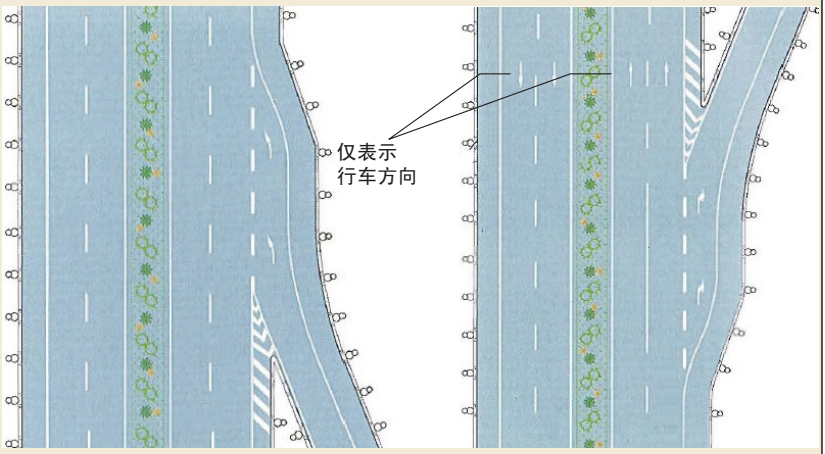

出入口标线

设置于主辅路之间或立交桥匝道位置出入口的几种标线的总称。包括导流带线、禁止变换车道线、白色虚线，并根据实际情况配合使用导向箭头、出口路面指示文字标记、减速让行线或停车让行线。

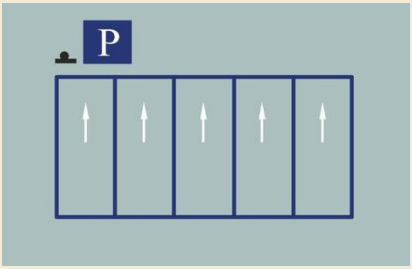

固定停车方向停车位标线

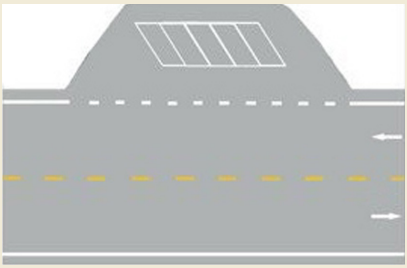

倾斜式停车位标线



平行式停车位标线

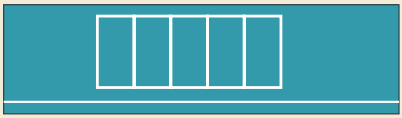

垂直式停车位标线

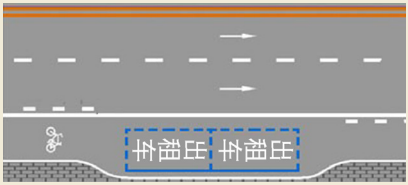

出租车专用待客停车位标线

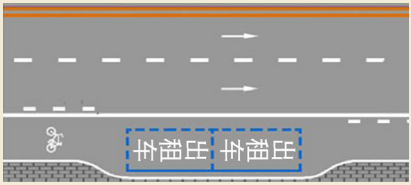

出租车专用上下客停车位标线

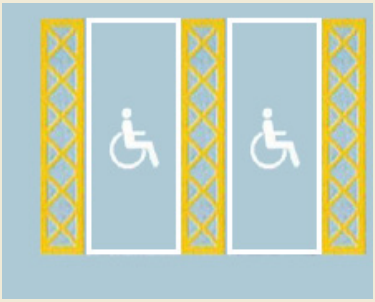

残疾人专用车辆停车位



非机动车专用停车位

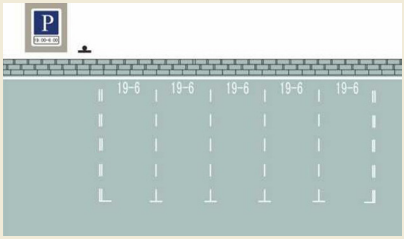

垂直式机动车限时停车位标线

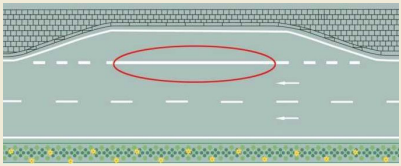

港湾式停靠站标线

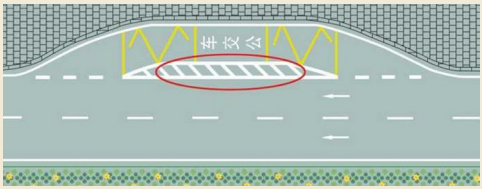

车种专用港湾式停靠站标线

				
直行	直行或左转	直行或右转	左转	右转
				
掉头	直行或掉头	左转或掉头	左右转弯	非机动车路面标志
左弯或需向左合流	右弯或需向右合流	速度限制标志（最低限速数字颜色为白色，最高限速数字颜色为黄色）		

二、禁止标线

禁止标线是用以告示道路交通的遵行、禁止、限制等特殊规定，车辆驾驶人及行人需严格遵守的标线。

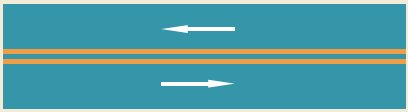	
中心黄色双实线	中心黄色虚实线
双黄实线表示严格禁止车辆越线超车或轧线行驶，用以划分上下方向各有两条或两条以上机动车而没有设置中央分隔带的道路。	中心黄色虚实线为一条实线和一条与其平行的虚线组成的标线，表示实线一侧禁止车辆越线超车向左转弯，虚线一侧准许车辆越线超车或向左转弯。

禁止跨越同向车行道分界线

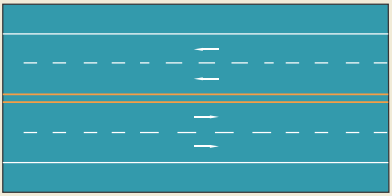

禁止跨越对向车行道分界线

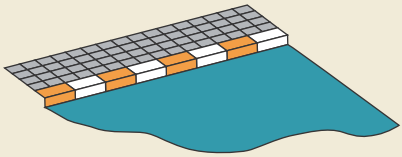

禁止长时停车线

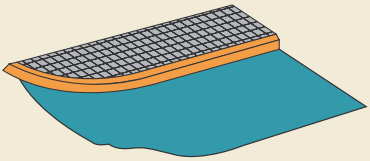

禁止停车线

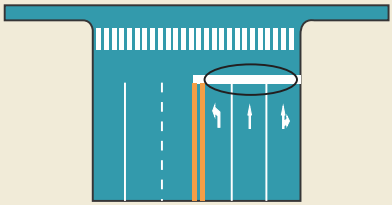

停止线

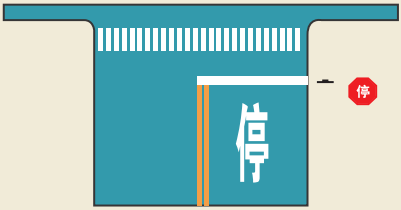

停车让行线

停止线为白色实线，表示车辆等候放行信号的停车位置。施划于有交通信号控制的交叉路口、铁路平交道口及左弯待转区的前端。

停车让行线为两条平行白色实线和一个白色“停”字，表示车辆在此路口必须停车让干道车辆先行。

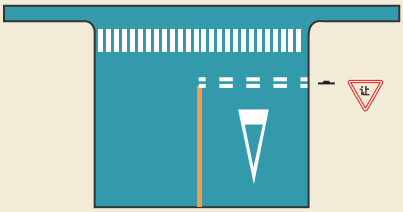

减速让行线



导流线

减速让行线为两条平行的虚线和一个倒三角形，颜色为白色，表示车辆在此路口必须减速让干道车辆先行。

导流线的颜色为白色，表示车辆需按规定的路线行驶，不得轧线或越线行驶。

中心圈	网状线
中心圈颜色为白色，设在平面交叉路口的中心，用以区分车辆大、小转弯及交叉口车辆左右转弯的指示，车辆不得轧线行驶。	网状线为黄色，用于告示行驶人禁止在设置本标线之交叉路口（或其他出入口处）临时停车，防止交通阻塞。

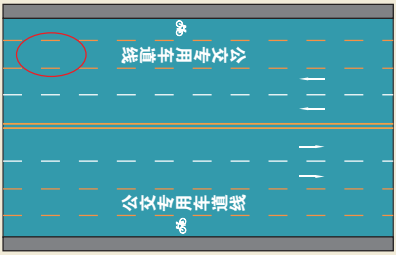



公交专用车道线	禁止掉头标记
公交专用车道标线由两条平行黄色虚线及文字组成，用以指示仅限于公交车行驶之专用车道，其他车种及行人不得进入。	禁止掉头标记为黄色，用于禁止车辆掉头的路口或区间。

三、警告标线

警告标线是用以促使车辆驾驶人及行人了解道路上的特殊情况，提高警觉，准备防范应变措施的标线。

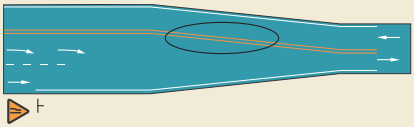

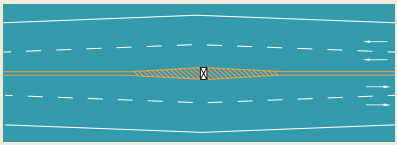

路面（车行道）宽度渐变段标线	接近障碍物标线
车行道宽度渐变段标线用以警告车辆驾驶人路宽缩减或车道数减少，应谨慎行车，并禁止超车。	用以指示路面有固定性障碍物，警告车辆驾驶人谨慎行车，绕过路面。

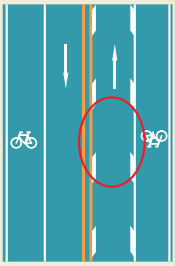

车行道纵向减速标线渐变段

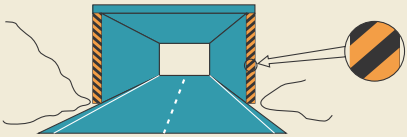

立面标记

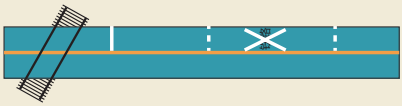

铁路平交道口标线

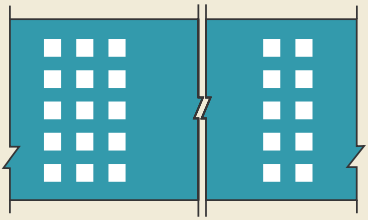

收费广场减速标线

四车道缩减为双车道

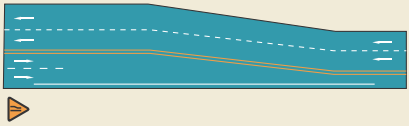

四车道缩减为三车道

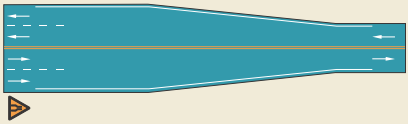

四车道缩减为两车道

三车道斑马线过渡

第四节 交通警察手势信号

交通警察手势信号分为 8 种，分别是停止、直行、左转弯、左转弯待转、右转弯、减速慢行、变道和示意车辆靠边停车。

停止信号	直行信号
交警面向来车，左臂由前方向上直伸，掌心向前，不准前方车辆通行。	交警侧对来车，左臂向左平伸，掌心向前，右臂向右平伸，向左摆动，即准许右方直行的车辆通行。反之亦然。
左转弯信号	左转弯待转信号
交警侧对来车，右臂向前平伸，掌心向前；左臂与手掌平直向前方摆动，掌心向右，准许车辆左转弯，在不妨碍被放行车辆通行的情况下可以掉头。	交警侧对来车，左臂向左平伸，掌心向下，左臂与手掌平直向下方摆动，准许交警左方左转弯的车辆进入路口，沿左转弯行驶方向靠近路口中心，等候左转弯信号。
右转弯信号	减速慢行信号
交警侧对来车，左臂向前平伸，掌心向前，右臂与手掌平直向左前方摆动，手掌向左，准许交警右方的车辆右转弯。	交警面对来车，右臂向右前方平伸，掌心向下，右臂与手掌平直向下摆动，示意车辆应减慢速度行驶。

变道信号	靠边停车信号
交警面对来车，右臂向前平伸，掌心向左，示意车辆由正在行驶的车道里改变到交警指定的车道里，减速慢行。	交警面对来车，左臂向前上方平伸，掌心向前；右臂向前下方平伸，掌心向左，右臂向左水平摆动。车辆应当靠边停车。

第五节 驾驶证管理

一、机动车驾驶证种类和准驾车型

准驾车型	代号	准驾的车辆	准予驾驶的其他准驾车型
大型客车	A1	大型载客汽车	A3、B1、B2、C1、C2、C3、C4、M
牵引车	A2	重型、中型全挂、半挂汽车列车	B1、B2、C1、C2、C3、C4、M
城市公交车	A3	核载10人以上的城市公共汽车	C1、C2、C3、C4
中型客车	B1	中型载客汽车（含核载10人以上、19人以下的城市公共汽车）	C1、C2、C3、C4、M
大型货车	B2	重型、中型载货汽车；大、重、中型专项作业车	C1、C2、C3、C4、M
小型汽车	C1	小型、微型载客汽车以及轻型、微型载货汽车；轻型、微型专项作业车	C2、C3、C4

（续）

准驾车型	代号	准驾的车辆	准予驾驶的其他准驾车型
小型自动挡汽车	C2	小型、微型自动挡载客汽车以及轻型、微型自动挡载货汽车	—
低速载货汽车	C3	低速载货汽车	C4
三轮汽车	C4	三轮汽车	—
残疾人专用小型自动挡载客汽车	C5	残疾人专用小型、微型自动挡载客汽车（只允许右下肢或者双下肢残疾人驾驶）	—
普通三轮摩托车	D	发动机排量大于50升或者最大设计车速大于50公里/小时的三轮摩托车	E、F
普通二轮摩托车	E	发动机排量大于50升或者最大设计车速大于50公里/小时的二轮摩托车	F
轻便摩托车	F	发动机排量小于等于50升，最大设计车速小于等于50公里/小时的摩托车	—
轮式自行机械车	M	轮式自行机械车	—
无轨电车	N	无轨电车	—
有轨电车	P	有轨电车	—

二、驾驶证申请条件

申请机动车驾驶证的人，应当符合下列规定：

1. 年龄条件

（1）申请小型汽车（C1）、小型自动挡汽车（C2）、残疾人专用小型自动挡载客汽车（C5）、轻便摩托车（F）准驾车型的，在 18 周岁以上，70 周岁以下。

（2）申请低速载货汽车（C3）、三轮汽车（C4）、普通三轮摩托车（D）、普通二轮摩托车（E）或者轮式自行机械车准驾车型的，在 18 周岁以上，60 周岁以下。

（3）申请城市公交车（A3）、大型货车（B2）、无轨电车（N）或者有轨电车（P）准驾车型的，在 20 周岁以上，50 周岁以下。

（4）申请中型客车（B1）准驾车型的，在 21 周岁以上，50 周岁以下。

（5）申请牵引车（A2）准驾车型的，在 24 周岁以上，50 周岁以下。

（6）申请大型客车（A1）准驾车型的，在 26 周岁以上，50 周岁以下。

2. 身体条件

（1）身高：申请大型客车、牵引车、城市公交车、大型货车、无轨电车准驾车型的，身高为 155 厘米以上。申请中型客车准驾车型的，身高为 150 厘米以上。

（2）视力：申请大型客车、牵引车、城市公交车、中型客车、大型货车、无轨电车或者有轨电车准驾车型的，两眼裸视力或者矫正视力达到对数视力表 5.0 以上。申请其他准驾车型的，两眼裸视力或者矫正视力达到对数视力表 4.9 以上。单眼视力障碍，优眼裸视力或者矫正视力达到对数视力表 5.0 以上，且水平视野达到 150 度的，可以申请小型汽车、小型自动挡汽车、低速载货汽车、三轮汽车、残疾人专用小型自动挡载客汽车准驾车型的机动车驾驶证。

（3）辨色力：无红绿色盲。

（4）听力：两耳分别距音叉 50 厘米能辨别声源方向。有听力障碍但佩戴助听设备能够达到以上条件的，可以申请小型汽车、小型自动挡汽车准驾车型的机动车驾驶证。

（5）上肢：双手拇指健全，每只手其他手指必须有三指健全，肢体和手指运动功能正常。但手指末节残缺或者左手有三指健全，且双手手掌完整的，可以申请小型汽车、小型自动挡汽车、低速载货汽车、三轮汽车准驾车型的机动车驾驶证。

（6）下肢：双下肢健全且运动功能正常，不等长度不得大于 5 厘米。但左下肢缺失或者丧失运动功能的，可以申请小型自动挡汽车准驾车型的机动车驾驶证。

（7）躯干、颈部：无运动功能障碍。

（8）右下肢、双下肢缺失或者丧失运动功能但能够自主坐立，且上肢符合第（5）条规定的，可以申请残疾人专用小型自动挡载客汽车准驾车型的机动车驾驶证。一只手掌缺失，另一只手拇指健全，其他手指有两指健全，上肢和手指运动功能正常，且下肢符合第（6）条规定的，可以申请残疾人专用小型自动挡载客汽车准驾车型的机动车驾驶证。

3. 禁止申请条件

有下列情形之一的，不得申请机动车驾驶证：

（1）有器质性心脏病、癫痫病、美尼尔氏症、眩晕症、癔病、震颤麻痹、精神病、痴呆以及影响肢体活动的神经系统疾病等妨碍安全驾驶疾病的。

（2）三年内有吸食、注射毒品行为或者解除强制隔离戒毒措施未满三年，或者长期服用依赖性精神药品成瘾尚未戒除的。

（3）造成交通事故后逃逸构成犯罪的。

（4）饮酒后或者醉酒驾驶机动车发生重大交通事故构成犯罪的。

（5）醉酒驾驶机动车或者饮酒后驾驶营运机动车依法被吊销机动车驾驶证未满五年的。

（6）醉酒驾驶营运机动车依法被吊销机动车驾驶证未满十年的。

（7）因其他情形依法被吊销机动车驾驶证未满两年的。

（8）驾驶许可依法被撤销未满三年的。

（9）法律、行政法规规定的其他情形。

三、初次申请准驾车型

初次申领机动车驾驶证的，可以申请准驾车型为城市公交车、大型货车、小型汽车、小型自动挡汽车、低速载货汽车、三轮汽车、残疾人专用小型自动挡载客汽车、普通三轮摩托车、普通二轮摩托车、轻便摩托车、轮式自行机械车、无轨电车、有轨电车的机动车驾驶证。

在暂住地初次申领机动车驾驶证的，可以申请准驾车型为小型汽车、小型自动挡汽车、低速载货汽车、三轮汽车、残疾人专用小型自动挡载客汽车、普通三轮摩托车、普通二轮摩托车、轻便摩托车的机动车驾驶证。

四、驾驶证的换证、补证

1. 换证

机动车驾驶证上注有驾驶证的有效期，分为六年、十年、长期有效三种，机动车驾驶人应当在驾驶证的有效期内驾驶机动车。

机动车驾驶人在机动车驾驶证的六年有效期内，每个记分周期均未记满 12 分的，换发十年有效期的机动车驾驶证；在机动车驾驶证的十年有效期内，每个记分周期均未记满 12 分的，换发长期有效的机动车驾驶证。

机动车驾驶人应当于机动车驾驶证有效期满前九十日内，向机动车驾驶证核发地车辆管理所申请换证。

机动车驾驶人自愿降低准驾车型的，应当填写申请表，并提交机动车驾驶人的身份证明和机动车驾驶证。

具有下列情形之一的，机动车驾驶人应当在三十日内到机动车驾驶证核发地车辆管理所申请换证：

（1）在车辆管理所管辖区域内，机动车驾驶证记载的机动车驾驶人信息发生变化的。

（2）机动车驾驶证损毁无法辨认的。

申请时应当填写申请表，并提交机动车驾驶人的身份证明和机动车驾驶证。

机动车驾驶人因服兵役、出国（境）等原因，无法在规定时间内办理驾驶证期满换证、审验、提交身体条件证明的，可以向机动车驾驶证核发地车辆管理所申请延期办理。申请时应当填写申请表，并提交机动车驾驶人的身份证明、机动车驾驶证和延期事由证明。

延期期限最长不超过三年。延期期间机动车驾驶人不得驾驶机动车。

2. 补证

机动车驾驶证遗失的，机动车驾驶人应当向机动车驾驶证核发地车辆管理所申请补发。机动车驾驶人补领机动车驾驶证后，原机动车驾驶证作废，不得继续使用。

机动车驾驶证被依法扣押、扣留或者暂扣期间，机动车驾驶人不得

申请补发。

隐瞒有关情况或者提供虚假材料申领机动车驾驶证的，申请人在一年内不得再次申领机动车驾驶证。

申请人在考试过程中有贿赂、舞弊行为的，取消考试资格，已经通过考试的其他科目成绩无效；申请人在一年内不得再次申领机动车驾驶证。

申请人以欺骗、贿赂等不正当手段取得机动车驾驶证的，公安机关交通管理部门收缴机动车驾驶证，撤销机动车驾驶许可；申请人在三年内不得再次申领机动车驾驶证。

五、驾驶证的实习期

机动车驾驶人初次申领机动车驾驶证后的 12 个月为实习期。在实习期内驾驶机动车的，应当在车身后部粘贴或者悬挂统一式样的实习标志。

机动车驾驶人在实习期内不得驾驶公共汽车、营运客车或者执行任务的警车、消防车、救护车、工程救险车以及载有爆炸物品、易燃易爆化学物品、剧毒或者放射性等危险物品的机动车；驾驶的机动车不得牵引挂车。

驾驶人在实习期内驾驶机动车上高速公路行驶，应当由持相应或者更高准驾车型驾驶证三年以上的驾驶人陪同。其中，驾驶残疾人专用小型自动挡载客汽车的，可以由持有小型自动挡载客汽车以上准驾车型驾驶证的驾驶人陪同。

在增加准驾车型后的实习期内，驾驶原准驾车型的机动车时不受上述限制。

机动车驾驶人在实习期内有记满 12 分记录的，注销其实习的准驾车型驾驶资格。被注销的驾驶资格不属于最高准驾车型的，注销其最高准驾车型驾驶资格。

新取得大型客车、牵引车、城市公交车、中型客车、大型货车驾驶证的，实习期结束后三十日内应当参加道路交通安全法律法规、交通安全文明驾驶、应急处置等知识考试，并接受不少于半小时的交通事故案例警示教育。

持有大型客车、牵引车、城市公交车、中型客车、大型货车驾驶证的驾驶人在一年实习期内记 6 分以上但未达到 12 分的，实习期限延长

一年。在延长的实习期内再次记 6 分以上但未达到 12 分的，注销其实习的准驾车型驾驶资格。

六、驾驶证的审验

持有大型客车、牵引车、城市公交车、中型客车、大型货车驾驶证的驾驶人，应当在每个记分周期结束后三十日内到公安机关交通管理部门接受审验。但在一个记分周期内没有记分记录的，免予本记分周期审验。

除以上之外准驾车型驾驶证的驾驶人，发生交通事故造成人员死亡承担同等以上责任未被吊销机动车驾驶证的，应当在本记分周期结束后三十日内到公安机关交通管理部门接受审验。

在异地从事营运的机动车驾驶人，向营运地车辆管理所备案登记一年后，可以直接在营运地参加审验。

发生交通事故造成人员死亡承担同等以上责任未被吊销机动车驾驶证的驾驶人，在记分周期结束后三十日内到公安机关交通管理部门接受审验。接受审验时要参加不少于三小时的道路交通安全法律法规、交通安全文明驾驶、应急处置等知识学习，并接受交通事故案例警示教育。

七、驾驶证的注销

机动车驾驶人具有下列情形之一的，车辆管理所应当注销其机动车驾驶证。

(1) 死亡的。
(2) 提出注销申请的。
(3) 丧失民事行为能力，监护人提出注销申请的。
(4) 身体条件不适合驾驶机动车的。
(5) 有器质性心脏病、癫痫病、美尼尔氏症、眩晕症、癔病、震颤麻痹、精神病、痴呆以及影响肢体活动的神经系统疾病等妨碍安全驾驶疾病的。
(6) 被查获有吸食、注射毒品后驾驶机动车行为，正在执行社区戒毒、强制隔离戒毒、社区康复措施，或者长期服用依赖性精神药品成瘾尚未戒除的。

(7) 超过机动车驾驶证有效期一年以上未换证的。

(8) 年龄在 60 周岁以上，在一个记分周期结束后一年内未提交身体条件证明的；或者持有残疾人专用小型自动挡载客汽车准驾车型，在三个记分周期结束后一年内未提交身体条件证明的。

(9) 年龄在 60 周岁以上，所持机动车驾驶证只具有无轨电车或者有轨电车准驾车型，或者年龄在 70 周岁以上，所持机动车驾驶证只具有低速载货汽车、三轮汽车、轮式自行机械车准驾车型的。

(10) 机动车驾驶证依法被吊销或者驾驶许可依法被撤销的。

八、驾驶证累积记分

公安交通管理部门对驾驶人的交通违法行为除依法给予行政处罚外，还实行累积记分制度。道路交通安全违法行为累积记分，从机动车驾驶证初次领取之日起计算，一个周期（即记分周期）为 12 个月，满分为 12 分。一次有两个以上违法行为记分的，分别计算，累加分值。

一个记分周期内记分未达到 12 分，所处罚款已经缴纳的，记分予以清除；记分虽未达到 12 分，但尚有罚款未缴纳的，记分转入下一记分周期。

驾驶人在一个记分周期内累积记分达到 12 分的，公安机关交通管理部门依法扣留机动车驾驶证。

驾驶人在一个记分周期内累积记分达到 12 分的，在十五日内到驾驶证核发地或者违法行为地公安机关交通管理部门参加为期七日的道路交通安全法律法规和相关知识学习并重新考试。机动车驾驶人参加学习后，车辆管理所应当在二十日内对其进行道路交通安全法律、法规和相关知识考试，考试合格后，记分予以清除，发还机动车驾驶证；考试不合格，继续参加学习和考试。拒不参加学习，也不接受考试的驾驶人，公安机关交通管理部门将公告其机动车驾驶证停止使用。

驾驶人在一个记分周期内有两次以上达到 12 分或者累积记分达到 24 分以上时，车辆管理所在驾驶人道路交通安全法律、法规和相关知识考试合格后十日内，按照驾驶证载明的最高准驾车型对其进行道路驾驶技能考试。

1. 机动车驾驶人有下列违法行为之一，一次记 12 分

（1）驾驶与准驾车型不符的机动车的。

（2）饮酒后驾驶机动车的。

（3）驾驶营运客车（不包括公共汽车）、校车载人超过核定人数 20%以上的。

（4）造成交通事故后逃逸，尚不构成犯罪的。

（5）上道路行驶的机动车未悬挂机动车号牌的，或者故意遮挡、污损、不按规定安装机动车号牌的。

（6）使用伪造、变造的机动车号牌、行驶证、驾驶证、校车标牌或者使用其他机动车号牌、行驶证的。

（7）驾驶机动车在高速公路上倒车、逆行、穿越中央分隔带掉头的。

（8）驾驶营运客车在高速公路车道内停车的。

（9）驾驶中型以上载客载货汽车、校车、危险物品运输车辆在高速公路、城市快速路上行驶超过规定时速 20%以上或者在高速公路、城市快速路以外的道路上行驶超过规定速度 50%以上，以及驾驶其他机动车行驶超过规定时速 50% 以上的。

（10）连续驾驶中型以上载客汽车、危险物品运输车辆超过 4 小时未停车休息或者停车休息时间少于 20 分钟的。

（11）未取得校车驾驶资格驾驶校车的。

2. 机动车驾驶人有下列违法行为之一，一次记 6 分

（1）机动车驾驶证被暂扣期间驾驶机动车的。

（2）驾驶机动车违反道路交通信号灯通行的。

（3）驾驶营运客车（不包括公共汽车）、校车载人超过核定人数未达 20%的，或者驾驶其他载客汽车载人超过核定人数 20%以上的。

（4）驾驶中型以上载客载货汽车、校车、危险物品运输车辆在高速公路、城市快速路上行驶超过规定时速未达 20%的。

（5）驾驶中型以上载客载货汽车、校车、危险物品运输车辆在高速公路、城市快速路以外的道路上行驶或者驾驶其他机动车行驶超过规定时速 20% 以上未达到 50% 的。

（6）驾驶货车载物超过核定载质量 30% 以上或者违反规定载客的。

（7）驾驶营运客车以外的机动车在高速公路车道内停车的。

（8）驾驶机动车在高速公路或者城市快速路上违法占用应急车道行驶的。

（9）低能见度气象条件下，驾驶机动车在高速公路上不按规定行驶的。

（10）驾驶机动车运载超限的不可解体的物品，未按指定的时间、路线、速度行驶或者未悬挂明显标志的。

（11）驾驶机动车载运爆炸物品、易燃易爆化学物品以及剧毒、放射性等危险物品，未按指定的时间、路线、速度行驶或者未悬挂警示标志并采取必要的安全措施的。

（12）以隐瞒、欺骗手段补领机动车驾驶证的。

（13）连续驾驶中型以上载客汽车、危险物品运输车辆以外的机动车超过 4 小时未停车休息或者停车休息时间少于 20 分钟的。

（14）驾驶机动车不按照规定避让校车的。

3. 机动车驾驶人有下列违法行为之一，一次记 3 分

（1）驾驶营运客车（不包括公共汽车）、校车以外的载客汽车载人超过核定人数未达 20% 的。

（2）驾驶中型以上载客载货汽车、危险物品运输车辆在高速公路、城市快速路以外的道路上行驶或者驾驶其他机动车行驶超过规定时速未达 20% 的。

（3）驾驶货车载物超过核定载质量未达 30% 的。

（4）驾驶机动车在高速公路上行驶低于规定最低时速的。

（5）驾驶禁止驶入高速公路的机动车驶入高速公路的。

（6）驾驶机动车在高速公路或者城市快速路上不按规定车道行驶的。

（7）驾驶机动车行经人行横道，不按规定减速、停车、避让行人的。

（8）驾驶机动车违反禁令标志、禁止 标线指示的。

（9）驾驶机动车不按规定超车、让行的，或者逆向行驶的。

（10）驾驶机动车违反规定牵引挂车的。

（11）在道路上车辆发生故障、事故停车后，不按规定使用灯光和设置警告标志的。

（12）上道路行驶的机动车未按规定定期进行安全技术检验的。

4. 机动车驾驶人有下列违法行为之一，一次记 2 分

（1）驾驶机动车行经交叉路口不按规定行车或者停车的。

（2）驾驶机动车有拨打、接听手持电话等妨碍安全驾驶的行为的。

（3）驾驶二轮摩托车，不戴安全头盔的。

（4）驾驶机动车在高速公路或者城市快速路上行驶时，驾驶人未按规定系安全带的。

（5）驾驶机动车遇前方机动车停车排队或者缓慢行驶时，借道超车或者占用对面车道、穿插等候车辆的。

（6）不按照规定为校车配备安全设备，或者不按照规定对校车进行安全维护的。

（7）驾驶校车运载学生，不按照规定放置校车标牌、开启校车标志灯，或者不按照经审核确定的线路行驶的。

（8）校车上下学生，不按照规定在校车停靠站点停靠的。

（9）校车未运载学生上道路行驶，使用校车标牌、校车标志灯和停车指示标志的。

（10）驾驶校车上道路行驶前，未对校车车况是否符合安全技术要求进行检查，或者驾驶存在安全隐患的校车上道路行驶的。

（11）在校车载有学生时给车辆加油，或者在校车发动机熄灭前离开驾驶座位的。

5. 机动车驾驶人有下列违法行为之一，一次记 1 分

（1）驾驶机动车不按规定使用灯光的。

（2）驾驶机动车不按规定会车的。

（3）驾驶机动车载货长度、宽度、高度超过规定的。

（4）上道路行驶的机动车未放置检验合格标志、保险标志，未随车携带行驶证、机动车驾驶证的。

第六节　机动车管理

一、机动车登记制度

1. 注册登记

初次申领机动车号牌、行驶证的，机动车所有人应当向住所地的车辆管理所申请注册登记。机动车所有人应当到机动车安全技术检验机构对机动车进行安全技术检验，取得机动车安全技术检验合格证明后申请注册登记，但经海关进口的机动车和国务院机动车产品主管部门认定免予安全技术检验的机动车除外。

免予安全技术检验的机动车有下列情形之一的，应当进行安全技术检验：

（1）国产机动车出厂后两年内未申请注册登记的。

（2）经海关进口的机动车进口后两年内未申请注册登记的。

（3）申请注册登记前发生交通事故的。

专用校车办理注册登记前，应当按照专用校车国家安全技术标准进行安全技术检验。

2. 变更登记

已注册登记的机动车有下列情形之一的，机动车所有人应当向登记地车辆管理所申请变更登记：

（1）改变车身颜色的。

（2）更换发动机的。

（3）更换车身或者车架的。

（4）因质量问题更换整车的。

（5）营运机动车改为非营运机动车或者非营运机动车改为营运机动车等使用性质改变的。

（6）机动车所有人的住所迁出或者迁入车辆管理所管辖区域的。

机动车所有人为两人以上，需要将登记的所有人姓名变更为其他所有人姓名的，可以向登记地车辆管理所申请变更登记。

小型、微型客车加装防撞装置的可以自行变更。

3. 转移登记

已注册登记的机动车所有权发生转移的，现机动车所有人应当自机动车交付之日起三十日内向登记地车辆管理所申请转移登记。

机动车所有人申请转移登记前，应当将涉及该车的道路交通安全违法行为和交通事故处理完毕。

有下列情形之一的，不予办理转移登记：

（1）机动车与该车档案记载内容不一致的。

（2）属于海关监管的机动车，海关未解除监管或者批准转让的。

（3）机动车在抵押登记、质押备案期间的。

（4）机动车所有人提交的证明、凭证无效的；机动车来历证明被涂改或者机动车来历证明记载的机动车所有人与身份证明不符的；机动车达到国家规定的强制报废标准的；机动车被人民法院、人民检察院、行政执法部门依法查封、扣押的；机动车属于被盗抢的。

4. 抵押登记

机动车所有人将机动车作为抵押物抵押的，应当向登记地车辆管理所申请抵押登记；抵押权消灭的，应当向登记地车辆管理所申请解除抵押登记。

有下列情形之一的，不予办理抵押登记：

（1）机动车所有人提交的证明、凭证无效的。

（2）机动车达到国家规定的强制报废标准的。

（3）机动车被人民法院、人民检察院、行政执法部门依法查封、扣押的。

（4）机动车属于被盗抢的。

（5）属于海关监管的机动车，海关未解除监管或者批准转让的。

5. 注销登记

已注册登记的机动车达到国家规定的强制报废标准的，机动车灭失、机动车因故不在我国境内使用的等机动车所有人应依法办理注销手续。逾期不办理注销登记的，公安机关交通管理部门将公告该机动车登记证书、号牌、行驶证作废。

因申请注销登记的，机动车所有人应当向公安机关交通管理部门提交身份证明，交回机动车登记证书。

二、机动车检验制度

机动车应当从注册登记之日起，按照下列期限进行安全技术检验：

(1) 营运载客汽车 5 年以内每年检验 1 次；超过 5 年的，每 6 个月检验 1 次。

(2) 载货汽车和大型、中型非营运载客汽车 10 年以内每年检验 1 次；超过 10 年的，每 6 个月检验 1 次。

(3) 小型、微型非营运载客汽车 6 年以内每 2 年检验 1 次；超过 6 年的，每年检验 1 次；超过 15 年的，每 6 个月检验 1 次。

(4) 摩托车 4 年以内每 2 年检验 1 次；超过 4 年的，每年检验 1 次。

(5) 拖拉机和其他机动车每年检验 1 次。

三、机动车报废制度

我国实行机动车强制报废制度，根据机动车的安全技术状况和用途，规定不同的报废标准。

2013 年 5 月 1 日《机动车强制报废标准规定》（简称《规定》）正式施行。《规定》称，国家将根据机动车使用和安全技术、排放检验状况等，对达到报废标准的机动车实施强制报废。小、微型私家车无使用年限的限制。

根据《规定》，已注册机动车应当强制报废的情况包括：达到规定使用年限的；经修理和调整仍不符合机动车安全技术国家标准对在用车有关要求的；经修理和调整或者采用控制技术后，向大气排放污染物或者噪声仍不符合国家标准对在用车有关要求的；在检验有效期届满后，连续 3 个机动车检验周期内未取得机动车检验合格标志的。

《规定》还明确了各类机动车的“退休”年限，其中小、微型出租客运汽车使用 8 年，中型出租客运汽车使用 10 年，大型出租客运汽车使用 12 年；公交客运汽车使用 13 年等。小、微型非营运载客汽车、大型非营运轿车、轮式专用机械车等无使用年限限制，但根据《规定》，国家会对达到一定行驶里程的机动车引导报废，其中小、微型非营运载客汽车的行驶“上限”为 60 万公里。

达到报废标准的机动车，机动车所有人须在报废期满前将机动车交售给机动车回收企业办理注销登记，不得上道路行驶。部分报废车辆应当在公安机关交通管理部门的监督下解体。

第七节　机动车道路通行规定

一、灯光、喇叭的使用

灯光包括转向灯、前照灯、后位灯、示廓灯、制动灯等，驾驶人必须保证车辆灯光装置齐全、有效，并按照道路交通安全法规的要求正确使用。

1. 灯光的使用

（1）车辆起步、准备超车、向左变更车道、左转弯、掉头时，应当提前开启左转向灯。

（2）右转弯、向右变更车道、超车完毕驶回原车道、靠边停车时，开启右转向灯。

（3）前照灯、示廓灯和后位灯开启的情形：雨、雪、沙尘和冰雹等低能见度路况行驶时。**同向行驶，前后两车距离较近时，后车不得开启远光灯。**

（4）雾灯、危险报警闪光灯、前照灯、示廓灯和后位灯开启的情形：雾天行驶时。**同向行驶，前后两车距离较近时，后车不得开启远光灯。**

（5）远光灯、示廓灯和后位灯开启的情形：夜间驾驶机动车、没有路灯照明不良的道路上。**同向行驶且两车距离较近时，后车不得开启远光灯。对面有来车时，关闭远光灯。**

（6）远、近灯交替使用的情形：在夜间通过人行横道、坡道、急弯路段、拱桥、超车以及没有交通信号灯控制的路口时，交替使用远、近光灯，提醒路人和其他车辆。在窄路、窄桥会车，遇行人和非机动车时，使用近光灯。

（7）危险报警闪光灯开启的情形：在道路上行驶的车辆发生故障，或者发生交通事故，妨碍交通但是难以移动时，开启危险报警闪光灯，同时，在车后 50 ～ 100 米处设置警告标志，但是在高速路上需要在事故车 150 米开外设置警告标志。夜间还应开启示廓灯和后位灯。

（8）驾驶机动车从匝道驶入高速公路：开启左转向灯，确保与左侧车道后方来车保持安全距离时，汇入加速车道。

（9）驾驶机动车离开高速公路时：开启右转向灯，确保与右侧车道后方来车保持安全距离时，减速驶入匝道。

2. 喇叭的使用

使用喇叭的情形：急弯、坡道顶部等影响安全视距的路段；打算超车或者遇到前车坠物等紧急情况时，减速慢行，并鸣喇叭示意。

二、道路通行规定

1. 有划分车道的道路通行

（1）道路划分为机动车道、非机动车道和人行道的路段，机动车、非机动车和行人实行分道行驶。

（2）在道路同方向划有 2 条以上机动车道的，左侧为快速车道，右侧为慢速车道。

（3）在快速车道行驶的机动车应当按照快速车道规定的速度行驶，未达到快速车道规定的行驶速度的，应当在慢速车道行驶。摩托车应当在最右侧车道行驶。

（4）有交通标志标明行驶速度的，按照标明的行驶速度行驶。慢速车道内的机动车超越前车时，可以借用快速车道行驶。

（5）在道路同方向划有 2 条以上机动车道的，变更车道的机动车不得影响相关车道内行驶的机动车的正常行驶。

（6）道路上划设专用车道标线的路段，在专用车道内，只允许规定的车辆行驶。其他车辆不准进入。

2. 无划分车道的道路通行

在没有划分机动车道、非机动车道和人行道的道路，机动车在道路中间通行，非机动车和行人在道路两侧通行。

三、交叉路口通行

交叉路口分为有交通信号控制和无交通信号控制两种。

1. 有交通信号控制的路口

（1）在划有导向车道的路口，按所需行进方向驶入导向车道。

（2）机动车通过环形路口，应当按照导向箭头所示方向行驶。进环形路口的机动车应当让已在路口内环行或者出环行路口的机动车先行。

（3）向左转弯时，靠路口中心点左侧转弯。转弯时开启转向灯，夜间行驶开启近光灯。

（4）遇有放行信号时，依次通行。

（5）遇有停止信号时，依次停在停止线以外。没有停止线的，停在路口以外。

（6）向右转弯遇有同车道前车正在等候放行信号时，依次停车等候。

（7）在没有方向指示信号灯的交叉路口，转弯的机动车让直行的车辆、行人先行。相对方向行驶的右转弯机动车让左转弯车辆先行。

2. 无交通信号控制的路口

通过没有交通信号灯控制也没有交通警察指挥的交叉路口，应当减速慢行，并让行人和优先通行的车辆先行。

（1）有交通标志、标线控制的，让优先通行的一方先行。

（2）没有交通标志、标线控制的，在进入路口前停车瞭望，让右方道路的来车先行。

（3）转弯的机动车让直行的车辆先行。

（4）相对方向行驶的右转弯的机动车让左转弯的车辆先行。

四、机动车限速通行

机动车上路不得超过限速标志、标线标明的速度。在没有限速标志、标线的路段，保持安全车速行驶。车速超过规定车速 50%，处 200 元以上 2000 元以下罚款，记 12 分并吊销机动车驾驶证。

(1) 城市中，在没有限速标志、标线和道路中心线的道路上行驶，最高速度为 30 公里 / 小时。

(2) 城市中，在没有限速标志、标线，且同方向只有一条机动车道的道路上行驶时，最高速度为 50 公里 / 小时。

(3) 乡村中，在没有限速标志、标线和道路中心线的公路上行驶，最高速度为 40 公里 / 小时。

(4) 乡村中，在没有限速标志、标线，且同方向只有一条机动车道的公路上行驶时，最高速度为 70 公里 / 小时。

(5) 高速路上，机动车车速在 60 ～ 120 公里 / 小时，当限速标志标明的车速与车道行驶速度的规定不一致时，按照限速标志标明的车速行驶。

(6) 高速路上，小型载客汽车的最高车速不应超过 120 公里 / 小时，其他机动车不得超过 100 公里 / 小时。

(7) 高速路上，在同方向有两条车道的左侧车道行驶时，车速不得低于 100 公里 / 小时。

(8) 高速路上，在同方向有三条以上车道的左侧车道行驶时，车速不得低于 110 公里 / 小时；在中间车道行驶时车速不得低于 90 公里 / 小时。

(9) 驾驶机动车进出非机动车道，通过铁路道口、急弯路、窄路、窄桥、冰雪和泥泞道路，以及掉头、转弯、下陡坡时，最高速度不得超过 30 公里 / 小时。

(10) 在雾、雨、雪、沙尘、冰雹和结冰天气中行驶，降低车速，能见度低于 50 米时，最高速度不得超过 30 公里 / 小时。

(11) 在雨天经过积水路面时，一定要减速行驶，行经两侧有行人和非机动车且有积水的路面，要减速慢行。

五、变更车道规定

驾驶车辆在道路上变更车道，不得影响车道内行驶的车辆、行人的正常通行。

(1) 让所借道内行驶的车辆或者行人先行。

(2) 按顺序依次行驶，不得频繁变更机动车道。

(3) 在道路同方向划有两条以上机动车车道的，不得一次连续变更两条以上机动车道。

(4) 左右两侧车道的车辆向同一车道变更时，左侧的车辆让右侧车道的车辆先行。

六、跟车和限制超车

跟车原则：与前车保持紧急制动措施下的安全距离。

超车时，提前打左转向灯，变换使用远、近光灯或者鸣喇叭提示前车，在确保安全距离的情况下，迅速从左侧超车。超越前车之后，在保持安全距离的情况下，打右转向灯，驶回原车道，完成超车。

在没有道路中心线，或者同方向只有一条机动车道的道路上，遇后车发出超车信号时，在道路条件许可的情况下，降低速度，靠右让路。

不得超车的情形如下：

(1) 铁路道口、交叉路口、窄桥、弯道、陡坡、隧道、人行横道、市区车流量大的路段。

(2) 同车道前方有执行紧急任务的警车、消防车、救护车、工程抢险车时。

(3) 从左侧超车，无法保持与正常行驶前车的横向安全间距，或发现对面来车有会车可能时。

七、会车规定

(1) 在没有中心隔离设施或者没有中心线的道路上行驶，遇对面来车时，本车减速靠右行驶，同时注意自己的右侧，与非机动车辆和行人保持安全距离。

(2) 在有障碍路段遇对面来车时，有障碍一方让无障碍一方先行；但有障碍一方已经驶入障碍路段而无障碍一方未驶入时，有障碍一方先行。

(3) 在狭窄的坡路遇对面来车时，上坡的一方先行，但下坡一方已行至中途而上坡一方未上坡时，下坡一方先行。

(4) 在没有道路中心线的狭窄山路会车，不靠山体的一方先行。

(5) 夜晚会车，两车相向而行，车距在 150 米之外时改为近光灯；窄路、窄桥与非机动车会车时，使用近光灯。

(6) 机动车通过有交通信号灯控制的交叉路口，遇到放行信号时，应当让先于本放行信号放行的车辆先行。

(7) 道路养护车辆、工程作业车辆进行作业时，在不影响过往车辆通行的前提下，其行驶路线和方向不受交通标志、标线限制，过往车辆和人员应当注意避让。

八、掉头和倒车规定

驾驶机动车在有禁止掉头或者禁止左转弯标志、标线的地点，以及在铁路道口、人行横道、桥梁、急弯、陡坡、隧道或者容易发生危险的路段，不得掉头。

驾驶机动车掉头时，不得妨碍正常行驶的其他车辆和行人的通行。

机动车在有掉头标志、标线或者未设置禁止左转弯、禁止掉头标志、标线的路口、路段，可以掉头。掉头时，应当提前进入导向车道或者在距掉头地点 150 米至 50 米处驶入最左侧车道，并不得妨碍行人和其他车辆正常通行。

机动车倒车时，应当查明车后情况，确认安全后倒车。不得在铁路道口、交叉路口、单行路、桥梁、急弯、陡坡或者隧道中倒车。

九、铁路道口通行

(1) 在驾车通过有交通信号或管理人员的铁路道口时，按照交通信号或管理人员的指挥通行。

(2) 在驾车通过没有交通信号或管理人员的铁路道口时，要减速或者停车瞭望，确认安全后以不超过 30 公里 / 小时的速度通过。

(3) 驾车通过道路与铁路的平面交叉道口时，有两个红灯交替闪烁或者一个红灯亮起时，要将车停在停止线以外等待，红灯熄灭时通过。没有停止线的铁路道口，要停在距离道口 50 米以外。

十、渡口通行

(1) 驾驶机动车过轮渡时，应当服从渡口管理人员指挥，按照指定地点依次待渡。

(2) 机动车上下渡船时，应当低速慢行。

十一、受阻路段、路口通行规定

1. 受阻路段

（1）机动车遇有前方车辆停车排队等候、缓慢行驶时，应当停车等候或者依次行驶。

（2）不得借道超车或者占用对面车道，不得穿插等候的车辆。

（3）不得进入非机动车道、人行道行驶，不得鸣喇叭催促车辆、行人。

2. 受阻路口

（1）前方交叉路口交通阻塞时，应当依次排队停在路口以外等候。

（2）不得进入路口或从前方车辆两侧穿插或者超越行驶，严禁在人行横道、网状线区域停车等候。

3. 交替通行

机动车在车道减少的路段、路口，遇有前方机动车停车排队等候或者缓慢行驶的，应当每车道一辆依次交替驶入车道减少后的路口、路段。

十二、漫水路、漫水桥通行规定

路面、桥面被水覆盖，车辆的附着力降低，同时水的流动冲击力使车辆容易发生侧滑，所以机动车行经漫水路或者漫水桥时，应当停车查明水情，确认安全后，低速通过。

十三、人行横道通行规定

(1) 通过没有交通信号灯、交通标志、交通标线或者交通警察指挥的交叉路口时，要减速慢行，让行人和非机动车先行。在没有方向指示信号灯的交叉路口转弯时，要让直行的人和非机动车先行。

(2) 驾驶机动车行经人行横道时，要减速行驶；遇行人正在通过人行横道时，要停车让行人先行；不得在人行横道区域内停车等候。

(3) 驾车在没有交通信号灯和交通标志、交通标线的道路遇行人横过道路时，要及时减速或停车让行。

(4) 驾车在居民居住区、单位院内，要低速行驶，注意避让行人；有限速标志时，按照限速标志行驶。

十四、驾驶人的安全行为规定

1. 驾驶人不得有以下行为

（1）在车门、车厢没有关好时行车。

（2）在机动车驾驶室的前后窗范围内悬挂、放置妨碍安全驾驶的物品。

（3）拨打接听手持电话、观看电视等妨碍安全驾驶的行为。

（4）下陡坡时熄火或者空挡滑行。

（5）向道路上抛撒物品。

（6）驾驶摩托车手离车把或者在车把上悬挂物品。

（7）连续驾驶机动车超过 4 小时不停车休息或者停车休息时间少于 20 分钟。

（8）在禁止鸣喇叭的区域或路段鸣喇叭。

2. 驾驶人对所驾车辆应负的安全责任

（1）机动车上路行驶前，应当对机动车的安全技术性能进行认真检查；不得驾驶安全设施不全或者机件不符合技术标准等具有安全隐患的机动车。

（2）上道路行驶的机动车，应当悬挂机动车号牌，随车携带机动车行驶证、粘贴检验合格标志、保险标志、环保标志。机动车号牌应当按照规定悬挂并保持清晰、完整，不得故意遮挡、污损。

（3）严格遵守道路交通安全法规对车辆报废的规定，应当报废的机动车必须及时办理注销登记。达到报废标准的机动车不得上道路行驶。驾驶拼装车上路行驶处 200 元以上 2000 元以下罚款，并吊销机动车驾驶证。

3. 避让特种车辆

特种车辆是指警车、消防车、救护车、工程救险车。它们在执行紧急任务时享有优先通行权，在确保安全的前提下，不受行驶路线、行驶方向、行驶速度和交通信号灯的限制，其他车辆和行人应当让行。

4. 停车规定

（1）机动车的停放。机动车的停放是指驾驶人离开车辆，长时间地停留。

1）机动车应当在停车场或者交通标志、标线规定的道路停车泊位内停放。

2）在施划停车泊位的地点停放时，按顺行方向停放，车身不得超出停车泊位，并做到关闭电路，锁好车门。

3）借道进出停车场或者道路停车泊位的，不得妨碍其他车辆或者行人正常通行。

4）禁止在人行道上停放机动车。

（2）临时停车。临时停车是指车辆在非禁止停车的路段，在驾驶人不离开车辆的情况下，靠道路右边按顺行方向的短暂停留。在道路上临时停车时，不得妨碍其他车辆和行人通行并应当遵守下列规定：

1）车身右侧紧靠道路边缘，不得超过 30 厘米，同时开启危险报警闪光灯。

2）在设有禁停标志、标线的路段，在机动车道与非机动车道、人行道之间设有隔离设施的路段以及人行横道、施工地段，不得停车。

3）交叉路口、铁路道口、急弯路、宽度不足 4 米的窄路、桥梁、陡坡、隧道以及距离上述地点 50 米以内的路段，不得停车。

4）公共汽车站、急救站、加油站、消防栓或者消防队（站）门前以及距离上述地点 30 米以内的路段，除使用上述设施的机动车外，不得停车。

5）车辆没有停稳前，不得开车门和上下乘员，开关车门不得妨碍其他车辆和行人通行。

6）路边停车应当紧靠道路右侧，机动车驾驶人不得离车，上下人员或者装卸物品后，立即驶离。

7）城市公共汽车不得在站点以外的路段停车上下乘客。

8）夜间或者遇风、雨、雪、雾等低能见度气象条件时，开启示廓灯、后位灯、雾灯。

十五、装载规定

1. 载物

机动车载物不得超过核定的载质量。核定载质量是指机动车除自身质量外最大限度的载物质量。装载货物不准超载，不得遗洒、飘散载运物，载物长度、宽度不得超出车厢。

机动车运载超限的不可解体的物品，影响交通安全的，应当按照公安机关交通管理部门制定的时间、路线、速度行驶，悬挂明显标志。

禁止货运机动车载客。货运机动车需要附载作业人员的，应当设置保护作业人员的安全措施。

2. 载人

机动车载人不得超过核定的人数。为保证驾驶人和乘坐人员的安全，机动车载人应当遵守下列规定：

（1）公路载客汽车不得超过核定的载客人数，但按照规定免票的儿童除外。在载客人数已满的情况下，按照规定免票的儿童不得超过核定载客人数的 10%。

（2）载货汽车车厢不得载客。在城市道路上，货运机动车在留有安全位置的情况下，车厢内可以附载临时作业人员 1~5 人；载物高度超过车厢栏板时，货物上不得载人。

（3）摩托车后座不得乘坐未满 12 岁的未成年人，轻便摩托车不得载人。

（4）客运汽车不得违反规定载货。

（5）机动车在行驶中，乘车人不得将身体任何部分伸出车外，不得跳车。

十六、牵引故障机动车的规定

(1) 被牵引的机动车除驾驶人外不得载人，不得拖带挂车。

(2) 被牵引的机动车宽度不得大于牵引车的宽度。

(3) 使用软连接牵引装置时，牵引车与被牵引车之间的安全距离应当大于 4 米小于 10 米。

(4) 对制动失效的被牵引车，应当使用硬连接牵引装置牵引。

(5) 牵引和被牵引的机动车均应当开启危险报警闪光灯。

汽车吊车和轮式专用机械车不得牵引车辆。摩托车不得牵引车辆或者被其他车辆牵引。转向或者照明、信号装置失效的故障车，应当使用专用清障车拖曳。

十七、机动车发生故障时的处理规定

机动车在道路上发生故障，需要停车排除故障时，驾驶人应当立即开启危险报警闪光灯，将机动车移至不妨碍交通的地方停放；机动车在道路上发生故障或者发生交通事故后，难以移动至不妨碍交通的地方的，应当持续开启危险报警闪光灯，白天在车后 50 米以外，夜间应在 100 米以外设置警告标志，以达到扩大警示范围的目的，还应当同时开启示廓灯和后位灯，必要时报警。

第八节 高速公路管理规定

一、高速公路行驶规定

1. 行驶速度的规定

高速公路应当标明车道的行驶速度，最高车速不得超过 120 公里 / 小时，最低车速不得低于 60 公里 / 小时。

在高速公路上行驶的小型载客汽车最高车速不得超过 120 公里 / 小时，其他机动车不得超过 100 公里 / 小时，摩托车不得超过 80 公里 / 小时。

同方向有 2 条车道的，左侧车道的最低车速为 100 公里 / 小时；同方向有 3 条以上车道的，最左侧车道的最低车速为 110 公里 / 小时，中间车道的最低车速为 90 公里 / 小时。道路限速标志标明的车速与上述车道行驶车速的规定不一致的，按照道路限速标志标明的车速行驶。

2. 进出高速公路规定

机动车从匝道入口进入高速公路，应当开启左转向灯，在不影响正常行驶的车辆的情况下经加速车道将车速提到 60 公里 / 小时以上驶入行车道。驶出高速公路时应开右转向灯经减速车道降速后驶出。

3. 安全行驶距离

机动车在高速公路上行驶，车速为 100 公里 / 小时时，应当与同车道前车保持 100 米以上的距离，车速低于 100 公里 / 小时时，与同车道前车的距离可以适当缩短，但最小距离不得少于 50 米。

遇有雾、雪、沙尘、冰雹等低能见度或者路面结冰、积雪时，应当遵守下列规定：

（1）能见度小于 200 米时，应当开启雾灯、近光灯、示廓灯和前后位灯，车速不得超过 60 公里 / 小时，与同车道前车保持 100 米以上的距离。

（2）能见度小于 100 米时，应当开启雾灯、近光灯、示廓灯、前后位灯和危险报警闪光灯，车速不得超过 40 公里 / 小时，与同车道前车保持 50 米以上的距离。

（3）能见度小于 50 米时，应当开启雾灯、近光灯、示廓灯、前后位灯和危险报警闪光灯，车速不得超过 20 公里 / 小时，并从最近的出口尽快驶离高速公路。

遇有前款规定情形时，请注意高速公路管理部门通过显示屏警示等方式发布的速度限制、保持车距等提示信息。

二、驾驶机动车在高速公路上不得有的行为

(1) 倒车、逆行、穿越中央分隔带掉头或者在行车道内停车。
(2) 在匝道、加速车道或者减速车道上超车。
(3) 骑、轧车行道分界线或者在路肩上行驶。
(4) 非紧急情况时在应急车道行驶或者停车。
(5) 试车或者学习驾驶机动车。

三、驾驶机动车在高速公路上发生故障的处置

驾驶机动车在高速公路上发生故障时，迅速将车移至不妨碍交通的地方停放。故障车难以移动的，要立即开启危险报警闪光灯，在故障车来车方向 150 米以外设置警告标志，夜间还应同时开启示廓灯和后位灯。车上人员应当迅速转移到右侧路肩上或者应急车道内，并且迅速报警。

机动车在高速公路上发生故障或者交通事故，无法正常行驶的，应当由救援车、清障车拖曳、牵引。

第九节 道路交通事故处理程序规定

一、事故现场处置

在道路上发生交通事故，车辆驾驶人应当立即停车，保护现场；在确保安全的原则下，立即组织车上人员疏散到路外安全地点，避免发生次生事故。

造成人身伤亡的，车辆驾驶人应当立即抢救受伤人员，并迅速报告执勤的交通警察或者公安机关交通管理部门。因抢救受伤人员变动现场的，应当标明位置。

二、高速公路事故现场处置

机动车在高速公路上发生故障时，驾驶人应当立即开启危险报警闪光灯，将机动车移至不妨碍交通的地方停放；难以移动的，应当持续开启危险报警闪光灯，并在来车方向 150 米以外设置警告标志，车上人员应当迅速转移到右侧路肩上或者应急车道内，并且迅速报警。

三、当事人自行解决交通事故

（1）当事人自行解决交通事故的范围及要求。在道路上发生仅造成车物损失或者人员轻微伤，且车辆能移动的交通事故，当事人应当自行撤离现场协商解决。

驾驶人应当立即停车，开启危险报警闪光灯，夜间还须开启示廓灯和后位灯，相互记下车牌号和联系方式后，在确保安全的情况下，迅速将车辆移至不妨碍交通的地点协商解决。

（2）交通事故现场标划。对需要标划现场的事故，当事人在固定机动车停车位置时，可用石笔或粉笔在车辆的每个车轮外侧沿中心划 T 形线。如果是多车轮车辆，只需标划前后四个车轮即可。

四、标划现场等候交警处理

有下列情形之一的，驾驶人应标划现场，迅速将车辆移至不妨碍交

通的地点报警，等候交通警察处理。

(1) 碰撞建筑物、公共设施及其他设施的。
(2) 无检验合格标志的。
(3) 无交强险标志的。
(4) 未在本市投保交强险的。
(5) 一方逃逸的。

五、立即报警的情形

有下列情形之一的，驾驶人应立即报警，在现场等候交通警察处理：①**车辆无号牌的**。②**驾驶人无驾驶证的**。③**驾驶人饮酒的**。

机动车发生单方交通事故仅造成自身车辆损坏的情形，驾驶人应迅速将车辆移至不妨碍交通的地点向保险公司报案，等候保险公司处理。

六、发生重大交通事故的处理规定

发生交通事故造成人员重伤死亡的，车辆驾驶人应采取下列措施：

(1) 不得移动肇事车辆及现场与事故相关的散落物。造成人员伤亡的（包括乘车人），应当立即抢救受伤人员并及时拨打 120 或 999 急救电话，请专业医护人员进行救护。因抢救受伤人员变动现场的，应当标明位置。
(2) 迅速报告执勤的交通警察或拨打 122 报警电话，等候交通警察处置现场。
(3) 为了防止再次发生事故，驾驶人须及时开启危险报警闪光灯，白天在车后 50 米处设置警告标志，夜间还应同时开启示廓灯和后位灯，并在车后 100 米处设置警告标志。

在高速公路上发生交通事故的，除在来车方向 150 米以外设置故障车警告标志和持续开启危险报警闪光灯外，还应当同时开启示廓灯和后位灯。车辆不能行驶的，应当由救援车、清障车拖曳、牵引。

(4) 驾驶人和乘车人除采取上述措施外，应立即离开车辆，转移至右侧路肩、车行道以外或其他安全的位置。转移过程中要注意避让行驶中的车辆，防止再次发生事故。

(5) 已投保机动车保险的车辆，驾驶人或车主还应及时通知保险公司。

七、交通事故现场的强制撤离

交通警察适用简易程序处理道路交通事故时，应当在固定现场证据后，责令当事人撤离现场，恢复交通。造成交通堵塞的，对驾驶人处以200元罚款。

八、机动车交通事故责任强制保险

自行处理交通事故的双方车辆均在当地投保了机动车交通事故责任强制保险（以下简称交强险）的，当事人应相互查验驾驶证和保险凭证，自行确定赔偿责任，并向各自保险公司报案，在获得保险公司报案号后，填写“机动车交通事故快速处理协议书”，签字后协商办理理赔手续。

被保险机动车没有发生道路交通安全违法行为和道路交通事故的，保险公司应当在下一年度降低其保险费率；在此后的年度内，被保险机动车仍然没有发生道路交通安全违法行为和道路交通事故的，保险公司应当继续降低保险费率，直至最低标准。被保险机动车发生道路交通安全违法行为或者道路交通事故的，保险公司应当在下一年度提高其保险费率。多次发生道路交通安全违法行为、道路交通事故，或者发生重大道路交通事故的，保险公司应当加大提高其保险费率的幅度。在道路交通事故中被保险人没有过错的，不提高其保险费率。

有下列情形之一的，保险公司在机动车交通事故责任强制保险责任限额范围内垫付抢救费用，并有权向致害人追偿：①驾驶人未取得驾驶资格或者醉酒的。②被保险机动车被盗抢期间肇事的。③被保险人故意制造道路交通事故的。

有前款所列情形之一发生道路交通事故的，造成受害人的财产损失，

保险公司不承担赔偿责任。被保险人与保险公司对赔偿有争议的，可以依法申请仲裁或者向人民法院提起诉讼。

第十节　道路交通安全法律责任

一、刑法

驾驶人驾驶机动车违反交通安全法律、法规，发生重大事故，致人重伤、死亡或者使公私财产遭受重大损失的，处三年以下有期徒刑或者拘役；交通运输肇事后逃逸或者有其他特别恶劣情节的，处三年以上七年以下有期徒刑；因逃逸致人死亡的，处七年以上有期徒刑。

注意

驾驶人驾驶机动车违反交通安全法律、法规，发生重大事故，构成犯罪的，除依法追究刑事责任外，还要吊销机动车驾驶证。造成事故后逃逸的，吊销机动车驾驶证，且终生不得重新取得机动车驾驶证。

二、行政强制措施

行政强制措施是指行政执法主体为了预防或制止可能发生或正在发生的违法行为，或者为了保全证据，确保案件查处工作的顺利进行，对行政管理相对人的人身自由及财产、证件强行限制的具体行政行为。

行政强制措施的种类有以下几种。

1. 扣留车辆

有下列情形之一的扣留车辆。

（1）未悬挂机动车号牌，未放置检验合格标志、保险标志，或者未携带行驶证、机动车驾驶证的。

（2）具有伪造、变造或使用伪造、变造及其他车辆的机动车登记证书、号牌、行驶证、检验合格标志、保险标志的。

（3）未按照规定投保机动车第三者责任强制保险的。
（4）机动车属于拼装或者已达到报废标准或有被盗抢嫌疑的。

2. 扣留机动车驾驶证

有下列情形之一的，公安机关交通管理部门及其交通警察可以扣留机动车驾驶证。

（1）饮酒后驾驶机动车的。
（2）机动车行驶超过规定时速 50%的。
（3）机动车驾驶人将机动车交由未取得机动车驾驶证或者机动车驾驶证被吊销、暂扣的人驾驶的。
（4）驾驶拼装或者已达到报废标准的机动车的。
（5）在一个记分周期内累积记分达到 12 分的。
（6）发生重大交通事故，构成犯罪的。

3. 拖移机动车

违反机动车停放、临时停车规定，除依据《北京市实施（中华人民共和国道路交通安全法）办法》对机动车驾驶人处以 200 元罚款外，驾驶人不在现场或者虽在现场但拒绝立即驶离，妨碍其他车辆、行人通行的，公安机关交通管理部门及交通警察可以将机动车拖移至不妨碍交通的地点或者指定的地点。驾驶人可以通过电话查询的方式（拨打 122）查询接受处理的地点、期限和被拖移机动车的停放地点。

4. 收缴非法牌证、装置及拼装或报废的机动车

机动车有以下情形的，应当收缴非法装置。

（1）非法安装警报器、标志灯具的。
（2）加装其他与注册登记项目不符且影响车辆安全的装置的。

对收缴的非法装置除作为证据保存外，经县级以上公安机关交通管

理部门批准后，予以销毁。

5. 检验体内酒精，国家管制的精神药品、麻醉药品含量

（1）对酒精呼吸测试的酒精含量有异议的。

（2）酒后驾驶车辆发生交通事故的。

（3）经呼吸测试超过醉酒临界值的。

（4）涉嫌服用国家管制的精神药品、麻醉品后驾驶机动车的。

三、道路交通安全违法行为的行政处罚

道路交通安全违法行为的行政处罚种类包括警告、罚款、暂扣或者吊销驾驶证、行政拘留。

四、部分道路交通安全违法行为的处罚标准

1. 机动车驾驶人违法行为的处罚

（1）机动车驾驶人有下列行为之一的，由公安机关交通管理部门处 20 元以上 200 元以下罚款。

1）机动车驾驶人补领机动车驾驶证后，继续使用原机动车驾驶证的。

2）在实习期内不按规定驾驶机动车的。

3）驾驶机动车未按规定粘贴、悬挂实习标志或者残疾人机动车专用标志的。

（2）机动车驾驶人有下列行为之一的，由公安机关交通管理部门处以 200 元以上 500 元以下罚款。

1）机动车驾驶证被依法扣押、扣留或者暂扣期间，采用隐瞒、欺骗手段补领机动车驾驶证的。

2）机动车驾驶人身体条件发生变化不适合驾驶机动车，仍驾驶机动车的。

3）逾期不参加审验仍驾驶机动车的。

2. 伪造、变造或者使用伪造、变造的机动车驾驶证

伪造、变造或者使用伪造、变造的机动车驾驶证的，由公安机关交通管理部门予以收缴，依法拘留，并处 200 元以上 5000 元以下罚款；构成犯罪的，依法追究刑事责任。

未取得机动车驾驶证、机动车驾驶证被吊销或者被暂扣期间驾驶机动车的，公安机关交通管理部门依法处以 200 元以上 2000 元以下罚款并处 15 日以下拘留。

将机动车交由未取得机动车驾驶证或者机动车驾驶证被暂扣、吊销的人驾驶的，公安机关交通管理部门依法处以 200 元以上 2000 元以下罚款，并吊销机动车驾驶证。

3. 醉后、醉酒违法行为的处罚

机动车驾驶人有饮酒、醉酒、服用国家管制的精神药品或麻醉药品嫌疑的，必须接受测试、检验。

饮酒后驾驶机动车的，处暂扣 6 个月机动车驾驶证，并处 1000 元以上 2000 元以下罚款。因饮酒驾驶机动车被处罚，再次饮酒后驾驶机动车的，处 10 日以下拘留，并处 1000 元以上 2000 元以下罚款，吊销机动车驾驶证。

醉酒驾驶机动车的，由公安机关交通管理部门约束至酒醒，吊销机动车驾驶证，依法追究刑事责任，五年内不得重新取得机动车驾驶证。

饮酒后驾驶营运机动车的，处 15 日拘留，并处 5000 元罚款，吊销机动车驾驶证，五年内不得重新取得机动车驾驶证。

醉酒驾驶营运机动车的，由公安机关交通管理部门约束至酒醒，吊销机动车驾驶证，依法追究刑事责任；十年内不得重新取得机动车驾驶证，重新取得机动车驾驶证后，不得驾驶营运机动车。

饮酒后或者醉酒驾驶机动车发生重大交通事故，构成犯罪的，依法追究刑事责任，并由公安机关交通管理部门吊销机动车驾驶证，终生不得重新取得机动车驾驶证。

4. 有下列行为之一的，由公安交通管理部门处 200 元以上 2000 元以下罚款

（1）未取得机动车驾驶证、机动车驾驶证被吊销或者机动车驾驶证被暂扣期间驾驶机动车的。

（2）将机动车交由未取得机动车驾驶证或者机动车驾驶证被吊销、暂扣的人驾驶的。

（3）造成交通事故后逃逸，尚不构成犯罪的。

（4）机动车行驶超过规定时速 50%的。

（5）强迫机动车驾驶人违反道路交通安全法律、法规和机动车安全驾驶要求驾驶机动车，造成道路交通事故，尚不构成罪的。

（6）违反交通管制的规定强行通行，不听劝阻的。

（7）故意损毁、移动、涂改交通设施，造成危害后果，尚不构成犯罪的。

（8）非法拦截、扣留机动车辆，不听劝阻，造成交通严重阻塞或者较大财产损失的。

5. 驾驶拼装或报废机动车的处罚

（1）驾驶拼装的机动车或者已达到报废标准的机动车上道路行驶的，公安交通管理部门应当予以收缴，强制报废。所谓强制报废是指对于拼装的机动车和已达到国家报废标准的机动车，由国家予以收缴，强制回收拆解，防止被非法拼装、组装重新上道路行驶，妨碍交通安全。

（2）驾驶拼装的机动车或者已达到报废标准的机动车上道路行驶的驾驶人，处 200 元以上 2000 元以下罚款，并吊销机动车驾驶证。

6. 其他违法行为

（1）违反道路交通安全法律、法规的规定，发生重大交通事故，构成犯罪的，依法追究刑事责任，并由公安交通管理部门吊销机动车驾驶证。

（2）造成交通事故后逃逸的，由公安交通管理部门吊销机动车驾驶证，终生不得重新取得机动车驾驶证。

（3）驾驶人被处以吊销驾驶证处罚的，吊销机动车驾驶证后，两年内不得重新申请领取机动车驾驶证。

（4）以欺骗、贿赂等不正当手段取得机动车登记或者驾驶许可的，收缴机动车登记证书、号牌、行驶证或者机动车驾驶证，撤销机动车登记或者机动车驾驶许可；申请人在三年内不得申请机动车登记或者机动车驾驶许可。

第十一节　机动车结构常识

汽车由发动机、底盘、车身和电气设备组成。

一、仪表与指示灯

汽车仪表种类较多，最基本和常用的有发动机转速表、车速表、里程表、燃油表和冷却温度表（水温表）等。

1. 汽车仪表

		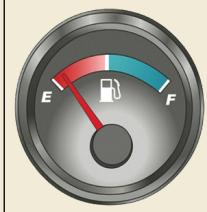	
1.发动机转速表	2.车速里程表	3.燃油表	4.冷却液温度表
显示发动机转速，表盘标有单位1000转/分（r/min），刻度范围一般为0～8，表上标有红色警戒区，表示发动机转速不得超过红色区域。	包括速度表和里程表，速度表表示当前行驶速度，单位为公里/小时（km/h），刻度范围一般为0～240，里程表显示累计行驶里程，单位为公里（km）。	指示油箱的存油量，表盘上标有E或0、1/2、F或1，分别表示空、一半、满。当燃油量过低时，燃油量指示灯会立即点亮报警，以引起驾驶人的注意。	监控发动机工作温度的装置。驾驶汽车时观察冷却液温度表是最基本的要求之一。冷却液温度表上，C表示温度低，H表示温度高，指针进入红色区域表示冷却液温度过高。

2. 指示标志

1.ABS指示灯	2.安全带指示灯	3.充电电路或发电机故障警示灯
该指示灯用来显示车辆ABS的工作状况。当打开点火开关后，车辆自检开始时，ABS指示灯会点亮数秒，随后自动熄灭。如果ABS指示灯未闪亮或者车辆起动后仍不熄灭，表明该车ABS出现故障。	该指示灯用来显示安全带是否处于锁止状态，当该灯点亮时，说明安全带没有及时扣紧。有些车型会有相应的提示音。当安全带被及时扣紧后，该指示灯自动熄灭。	车辆开始自检时，该灯点亮，起动后自动熄灭。如果该灯常亮，说明蓄电池出现了问题，需要更换。
4.机油指示灯	5.燃油量指示灯	6.车门指示灯
该指示灯用来显示发动机内机油的压力状况。打开点火开关，车辆开始自检时，指示灯点亮，起动后熄灭。该指示灯常亮，说明该车发动机机油压力低于规定标准，需要维修。	该指示灯用来显示车辆内储油量的多少，当点火开关打开，车辆进行自检时，该指示灯会短时间点亮，随后熄灭。如起动后该指示灯点亮，则说明车内燃油量已不足。	该指示灯用来显示车辆各车门状况，任意车门未关上，或者未关好，点亮相应的车门指示灯，提示车主车门未关好，当车门关闭或关好时，相应车门指示灯熄灭。
7.气囊指示灯	8.制动盘指示灯	9.制动系统故障警示灯
该指示灯用来显示安全气囊的工作状态，当打开钥匙门，车辆开始自检时，该指示灯自动点亮数秒后熄灭，如果常亮，则说明安全气囊出现故障。	该指示灯用来显示车辆制动盘磨损的状况。一般该指示灯为熄灭状态，当制动盘出现故障或磨损过度时，该指示灯亮，修复后熄灭。	机动车仪表板上的该警示灯亮，表示行车制动系统可能出现了故障。

（续）

10.危险报警闪光灯 车内指示灯	11.发动机指示灯	12.转向灯指示灯
该灯颜色为红色，若该灯点亮说明危险报警闪光灯开启。	该指示灯用来显示车辆发动机的工作状况，当打开点火开关后，车辆自检时，该指示灯点亮后自动熄灭，如常亮则说明车辆的发动机出现了故障，需要维修。	该指示灯是用来显示车辆转向灯所在的位置，通常为熄灭状态。当车主点亮转向灯时，会同时点亮相应方向的转向指示灯，转向灯熄灭后，该指示灯自动熄灭。
13. 远光指示灯	14.近光指示灯	15.玻璃清洗液指示灯
该指示灯用来显示车辆远光灯的状态。通常的情况下该指示灯为熄灭状态。当车主点亮远光灯时，该指示灯会同时点亮，以提示车主车辆的远光灯处于开启状态。	该指示灯用来显示车辆近光灯的状态。当近光灯开启时，该指示灯就会点亮以提示车主车辆的近光灯处于开启状态。	该指示灯是用来显示车辆所装玻璃清洁液的多少，平时为熄灭状态，该指示灯点亮时，说明车辆所装载玻璃清洁液已不足，需添加玻璃清洁液。添加玻璃清洁液后，指示灯熄灭。
16.雾灯指示灯	17.示宽指示灯	18.内循环指示灯
该指示灯用来显示前后雾灯的工作状况，当前后雾灯点亮时，该指示灯相应的标志就会点亮。关闭雾灯后，相应的指示灯熄灭。	该指示灯用来显示车辆示宽灯的工作状态，平时为熄灭状态，当示宽灯打开时，该指示灯随即点亮。当示宽灯关闭或者关闭示宽灯打开前照灯时，该指示灯自动熄灭。	该指示灯用来显示车辆空调系统的工作状态，平时为熄灭状态。当按下内循环按钮，车辆关闭外循环，空调系统进入内循环状态时，该指示灯自动点亮，内循环关闭时熄灭。

（续）

		
19.冷却液温度指示灯	20.驻车制动器指示灯	21.冷却液指示灯
该指示灯用来显示发动机内冷却液的温度，点火开关打开，车辆自检时，会点亮数秒，然后自动熄灭。该指示灯常亮，说明冷却液温度超过规定值，需立刻暂停行驶，冷却液温度正常后熄灭。	若该指示灯在行驶中一直点亮，应检查驻车制动器操纵杆是否处于拉紧状态，并及时松开，以避免制动器遭受更大的磨损和过热。如果在松开驻车制动器操纵杆时该指示灯还是没有熄灭，则有可能出现了制动故障。	该指示灯用来显示冷却液的存量，平时为熄灭状态。该指示灯亮，说明冷却液不足；添加冷却液后，该指示灯熄灭。
22. 儿童安全锁指示灯		
儿童安全锁是保护儿童的专用安全装置。安全锁在锁止位置时从驾驶室内无法打开车门。		

二、操纵装置

1. 转向盘

转向盘用以控制车辆的行驶方向。其正确的握法：双手由外向里，分别握住转向盘轮缘左右两侧，右手握在时钟 2 ～ 3 点位置，左手握在时钟 9 ～ 10 点位置。

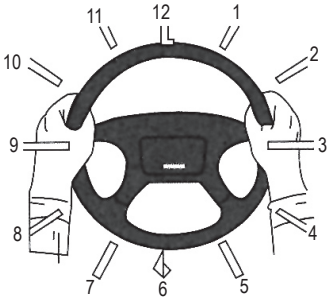

2. 离合器踏板

手动挡汽车换挡时需踩下离合器踏板。目前，自动挡汽车越来越普及，自动挡汽车没有离合器，操纵简单。

3. 制动踏板

制动踏板是行车制动器的操纵装置，驾驶人可根据行驶情况控制制动踏板，用以减速或者停车。

4. 加速踏板

加速踏板是控制发动机节气门或喷油泵柱塞的装置，用以控制发动机的转速。驾驶人踏动加速踏板，可改变向气缸内的喷油量，从而调整发动机的转速和转矩，使汽车达到加速或减速的目的。

5. 变速杆

变速杆是变速器的操纵装置，用于改变车辆的行驶速度、转矩和方向。

6. 驻车制动器操纵杆

驻车制动的操纵主要有手拉式或脚踏式两种，停车时拉上驻车制动器操纵杆以避免溜车。



三、安全装置

1. 安全气囊

安全气囊属于被动安全装置，只有和安全带配合使用才能获得更好的安全保护效果，所以驾乘人员在汽车行驶中必须系好安全带。

2. 安全带

驾乘人员在汽车行驶中必须系好安全带。要养成上车即系安全带的习惯。在发生严重的撞击事故时，可以对驾驶人的身体起到固定作用，防止驾驶人前胸因顶上转向盘而受伤，也可确保前排客不至于从前风窗玻璃飞出去。对于后排乘客而言，如系好安全带，万一车辆发生翻滚，不致被甩出车外，遭受二次伤害。因此，系好安全带是非常重要的，它会在关键时刻显身手，救人于危难。

3. 安全枕

长时间驾车，会使驾驶人颈部酸疼，驾驶人可以将头部靠在安全头枕上，以缓解疲劳。更重要的是，假如发生严重的追尾事故，安全头枕可对驾驶人颈椎起到保护作用。

4. 防抱死制动系统（ABS）

ABS 既有普通制动系统的制动功能，又可有效防止紧急制动时车轮抱死，使汽车在制动状态下仍能转向，保证汽车制动时的方向稳定性，防止产生侧滑和跑偏。驾驶安装了 ABS 的车辆，遇到紧急情况时，应用力踩下制动踏板，只有这样，ABS 才能发挥作用。

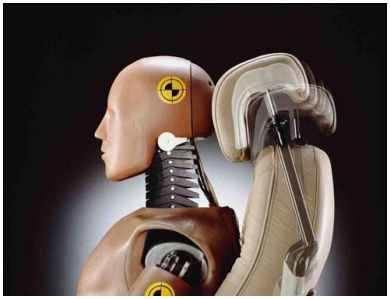

四、各种开关

1.风窗刮水器开关

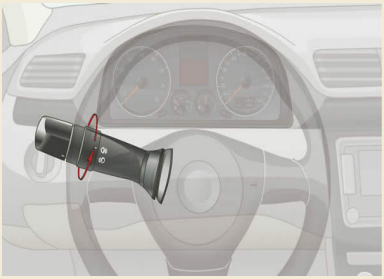

2.灯光信号组合开关

3. 转向灯开关

4. 点火开关

5. 除雾器开关

五、运行材料

1. 汽油

2012 年 5 月 31 日起，北京市第五阶段《车用汽油》《车用柴油》地方标准正式实施。此次调整后的标准总体严于国 V 建议指标，与欧洲同阶段标准基本接轨，将在减少机动车污染物排放的同时控制 PM2.5，力促首都空气质量改善。新标准下汽油的牌号变更为 89 号（即 90 号）、92 号（即 93 号）和 95 号（即 97 号），可有效降低机动车排放污染。汽油牌号越高，其抗爆性能越好。

2. 柴油

柴油标号表示抗冻性，冬季需要加 -10 号甚至 -30 号柴油，夏季 0 号足矣。

3. 冷却液

现代汽车发动机冷却液是由乙二醇、丙二醇、乙醇等化学物质分别与水按一定比例混合而成，并加入防腐剂、清洁剂、防垢剂和着色剂等添加剂的混合液，一般呈蓝绿色或黄色。

（1）按照汽车使用说明书的要求选用发动机冷却液。

（2）冷却液要定期更换，根据当地冬季最低气温选用适当牌号的冷却液，冰点应低于最低气温 10℃左右。

（3）不同厂家、不同类型、不同牌号的发动机冷却液不能混用。

4. 风窗玻璃清洗液

风窗玻璃清洗液主要由水、清洁剂和酒精配制而成，分为夏季用和冬季用两种。应根据气温情况选用合适的风窗玻璃清洗液，尽量避免混用不同牌号的清洗液。

六、维护和保养

汽车的维护和保养包括出车前、行车中和收车后的检查。

（1）外观检查：在出车前环视汽车，看看灯光装置有没有损坏，车身有没有倾斜，有没有漏油、漏水等泄漏情况；检查轮胎的外表情况；检查车门、发动机舱盖、行李箱盖和玻璃清洗液的状况。

（2）信号装置检查：应在打开点火开关（不起动发动机）时进行，检查各指示灯的点亮情况，起动发动机查看应熄灭的各指示灯是否正常熄灭。

（3）燃油检查：查看油量表的指示，补充燃油。

（4）轮胎气压检查：包括调整轮胎气压、查看侧面的磨损标记和清理轮胎上的杂物。**不要忘记对备胎的检查。**

（5）发动机检查：检查发动机各部件的固定情况，查看发动机各接合面有没有漏油、漏水的情况。**注意要清洁散热器外表。**

（6）检查调整风扇传动带张紧度：按压风扇传动带时，挠度在10～15毫米，若不符合要求要及时调整，若传动带有损伤要及时更换。

（7）检查补充机油：发动机起动前拔出油尺检查机油高度，要在上限（MAX）和下限（MIN）之间。**低于下限需要添加机油时注意使用指定的机油**。

（8）检查补充冷却液：冷却液液面高度要在上限和下限之间，低于下限时需要添加指定的冷却液。

（9）检查补充蓄电池电解液：观察蓄电池电解液的液面高度，液面过低时需要更换蓄电池。

（10）检查制动液：制动液液面高度要在上限和下限之间，**制动液明显减少时，应检查液压管路是否有泄漏**。

（11）检查刮水器和洗涤器：打开储液罐盖观察清洗液液面高度，需要添加时**注意防止杂质混入**。

第十二节 安全行车、文明驾驶基础常识

一、山区道路安全驾驶常识

山区道路的特点：坡多、路窄、弯急、情况复杂。

（1）上坡路：通常是在坡底先加速，就是往上冲坡的时候加速，到坡顶时收加速踏板（俗称收油），然后减速。**特别注意的是，在坡顶切勿加速，否则车辆有可能因速度过快而出现下冲失控的危险。上坡要保持低挡位，坡度越陡，挡位越低**。

（2）下坡路：如果长时间下坡，也要使用低挡位，用发动机的牵阻作用来降低车速，避免长时间使用制动，经常踩制动踏板，会降低制动的灵敏度，甚至可能导致制动失灵。

（3）下陡坡：应断续制动，用发动机的牵阻作用来降低车速，避免长时间使用制动，**经常踩制动踏板（俗称刹车），容易导致制动不灵甚至失灵**。

（4）坡路临时停车：踩制动踏板要比在平路时提前，停稳后熄火，将变速杆挂入倒挡。必要时应用楔木固定车轮以防溜车。

二、跟车、超车、会车和停车

（1）坡路跟车或遇上坡中途停车时，应适当加大与前车的安全距离，防止前车起步倒溜。

（2）超车应选择宽阔路段，提前打开左转向灯，鸣喇叭，确认安全后超车；下陡坡时不得超车。超车通常讲“远看其形、近看其线”。远看其形，比如它装载的货物是不是整齐、捆扎得是不是结实、有没有可能散落，另外，有的车因为超载导致车辆是倾斜的，这都是需要驾驶人防范的。近看其线，指看前方车辆在行车当中的路线有没有明显的变化，特别是看前车车轮是不是在本车道内行驶，有的车忽左忽右，很有可能是驾驶人疲劳驾驶或者要并线和转弯，要予以充分重视。下陡坡不得超车。

（3）山区会车：要提前减速并选择安全的地方避让。要主动避让车辆和行人，**做到“减速、鸣喇叭、靠右行”，应该做到“右转转小弯，左转转大弯”**。

（4）山区险路：谨慎驾驶、避免停车；遇有经常塌方、泥石流路段，应尽快驶离，不能停车。

三、通过桥梁、隧道的安全驾驶知识

1. 桥梁

（1）路段中的桥梁：按标志选路线，注意观察桥面情况，减速通过；车辆载重超过限制质量标志的规定时，不可通过。

（2）立交桥：应减速行驶，按交通标志和交通标线的引导行驶。

（3）互通式立交桥：右转弯时，应在进入桥区前进入匝道；左转弯时，应驶过桥后向右转弯进入匝道，再向右转弯完成。如行进路

线错误，应继续前行，找下一个路口掉头。切忌原地掉头或倒车更改路线。

驾驶机动车通过立交桥转弯时，要距出口 50~100 米降低车速，开启右转向灯。

2. 隧道

（1）驶入隧道前应在距隧道入口 50 米左右，开启前照灯、示廓灯、尾灯。选择点亮绿色信号灯的隧道口作为入口，并按照隧道口标志上规定的速度调整车速，同时注意车辆的装载高度是否在标志限定的高度之内。

（2）进入隧道后，应将注视点放到隧道前方的远处，控制好车速，**注意保持足够的安全行车间距**。严禁在隧道内变更车道、超车和随意停车，不宜在隧道内鸣喇叭，双向行驶的隧道内禁止使用远光灯。

（3）驶出隧道前，应通过车速表确认行车速度，握稳转向盘，以防隧道口处的横向风引起车辆偏离行驶路线，驶出隧道后，勿盲目加速，以免因视力瞬时下降不适应而造成危险。

四、夜间安全驾驶知识

夜间驾驶车辆主要是靠灯光来获取信息，要特别留意其照明设施是否齐全有效。

（1）夜间驾驶车辆起步前，应当先开近光灯。

（2）通过没有照明的路段时，车速低于 30 公里 / 小时，可使用近光灯；车速高于 30 公里 / 小时，应使用远光灯，但同方向行驶的后车不得使用远光灯。

（3）照明良好，用近光灯；无照明，用远光灯，但同方向行驶的后车不得使用远光灯。

（4）夜间行车中，应注意观察灯光变化。

①当车辆灯光投射距离由远变近的时候，表示车辆驶近或驶入上

坡路面。

②当车辆灯光投射距离由近变远的时候，表示车辆下坡或由陡坡进入平缓路面。

③当车辆灯光投射区域离开路面的时候，表示前方出现急弯、车辆已经上了坡顶或前方有大坑。

④当车辆灯光投射区域在路两侧游移时，表示前方出现连续性 S 形弯道。

⑤当对方车灯的投射区域较短的时候，表示来车即将接近坡道。

⑥当对方车灯的投射区域脱离路基时，表示来车即将脱离坡顶。

⑦灯光波动表示路面不平。

⑧地面颜色反映路面状况：一般来说白色是积水，黑色是坑洼，正常路面多为灰色。通常走灰不走白，遇黑暗慢下来。

⑨当车辆灯光投射区域由中间移向一侧时，表示前方出现一般性弯道。

五、恶劣气象和复杂道路条件下的安全驾驶常识

1. 雨天行车

（1）涉水前

①涉水前，必须仔细查看水的深度，判断是否能安全地通过。如果水深超过车轮的 2/3 时，则不宜冒险行驶。水况不明必须下车探路，观察前车行驶轨迹，不可盲目涉水。

②关闭空调，选用最低挡，中途不可松开加速踏板，保持加速踏板稳定。

（2）涉水中

①挂低速挡平稳驶入水中，避免猛冲，防止水花溅入发动机而熄火。行驶中要稳住加速踏板，使车辆有足够而稳定的动力，一次通过，避免中途停车、换挡或急转弯。

②多车涉水时，不要同时下水，待前车到达彼岸，后车再下水，防止前车因故障停车，迫使后车也停在水中。车辆在涉水中如车轮打

滑空转，应立即停车，不要强行进退，更不可猛踩加速踏板，以防越陷越深。

（3）车辆涉水后，应保持低速行驶，间断轻踏制动踏板，以尽快恢复制动效果。

在大暴雨或特大暴雨时，应选择安全地点停车，并开启示宽灯示意来往车辆；当刮水器无法刮净雨水时，应当立即减速靠边停车。应选择地势高、地面坚硬的地方停车。注意不要停在大树或高压线下面，更不能在立交桥下避雨或停留。

连续降雨天气，山区公路可能会出现路肩疏松和堤坡坍塌现象，行车时应选择道路中间坚实的路面，避免靠近路边行驶。

暴雨后道路损毁严重，遇有危险路段，不要冒险通过。在傍山险路遇有塌方、泥石流等要绕行。

2. 雪天行车

（1）雪天行车时，为预防车轮侧滑或与其他车辆发生剐碰，应减速行驶并保持安全距离，利用发动机制动进行减速，不得空挡滑行。

（2）冰雪路面起步要平稳，行车中严禁猛抬离合器踏板、急加速、急制动（忌急）。

（3）雪天行车中，在有车辙的路段应循车辙行驶。

（4）必要时，在驱动轮上安装防滑链。

（5）车辆在山区低等级冰雪道路遇坡道时，上坡车应当让下坡车。

（6）在结冰的道路上会车时，应提前减速，稳住转向盘，靠右缓慢行驶。

（7）在山区冰雪道路上行车，遇有前车正在爬坡时，后车应选择适当地点停车等前车通过后再爬坡。

3. 雾天行车

（1）雾天行车，能见度低，应及时开启雾灯和危险报警闪光灯。

（2）雾天行车时，因视线不良，应随时注意行人与其他车辆的动态，低速行驶。可适当多使用喇叭引起对方注意；听到对方车辆鸣喇叭，也应鸣喇叭回应。

（3）行车中遇有浓雾或特大雾天、能见度过低、行车困难时，应选择安全地点停车。

4. 大风天气行车

大风天气对安全行车影响大。大风天气行车，由于风速和风向往往不断地发生变化，当感到转向盘突然“被夺”时，一定要双手稳握转向盘并减速。

顺风时，非机动车速度加快，不要与之争道抢行。

逆风时，非机动车驾驶人一般低头猛骑，机动车需靠边停车时应注意避让。

5. 复杂道路条件下的安全驾驶知识

（1）汽车通过傍山险路等危险路段，应低速行驶，双手把稳转向盘，谨慎驾驶。

（2）车辆通过较大坑洼或沟槽应减速驶入，挂低速挡通过。

（3）车辆行至泥泞或翻浆路段时。应停车观察，选择平整、坚实或有车辙的路段通过。

（4）在泥泞路段行车，应选用适当挡位，用加速踏板控制速度，匀速一次性通过。

（5）车辆在泥泞路行驶，前轮发生侧滑时，要冷静清醒，在抬加速踏板的同时，向相反的方向打转向盘进行修正。发生后轮侧滑时，要向后轮侧滑一方缓慢转动转向盘进行修正。

（6）在泥泞路段行车，遇车轮空转打滑时，应挖去泥浆铺上砂石草木。

六、文明驾驶

(1) 遇机动车抢行时，应减速让行。

(2) 车辆在交叉路口有优先通行权的，遇有车辆抢行时，应减速避让，必要时停车让行。

(3) 车辆在较窄的山路上行驶时，如果靠山体的一方不让行，应提前减速或停车避让。

(4) 车辆驶近人行横道时应先减速注意观察行人、非机动车动态，确认安全后再通过。

(5) 驶近没有人行横道的交叉路口时，发现有人横穿道路，应减速或停车让行。

(6) 车辆行至交叉路口，遇有转弯的车辆抢行，停车避让。

(7) 行车中遇列队横过道路的学生时，应停车让行。

(8) 当驾驶车辆行经两侧有非机动车行驶且有积水路面时，应减速慢行。

(9) 行驶车道绿灯亮时，但车辆前方人行横道仍有行人行走，应等行人通过后再起步。

(10) 行车中，发现行人突然横过道路时，应迅速减速避让。

(11) 通过交叉路口遇行人正在通过时应减速慢行。

(12) 车辆临时靠边停车后准备起步时，应先观察周围交通情况，确认安全后再起步。

(13) 变更车道时不可在开启转向灯后，立即迅速转向驶入相应的行车道。

(14) 驾驶车辆通过人行横道线时，应注意礼让行人。

第三章

科目一考试模拟题

科目一考试模拟题（一）

一、判断题

1. 驾驶人驾驶证丢失、损毁，不得驾驶机动车。 答案：3

2. 驾驶机动车在路口看到这种信号灯亮时，要加速通过。 答案：7

解析：交通信号灯有红、黄、绿三种颜色，红灯亮表示禁止通行，绿灯亮表示准许通行，黄灯亮表示警示。

3. 驾驶机动车在道路上违反道路通行规定应当接受相应的处罚。 答案：3

4. 驾驶机动车遇到这种信号灯亮时，如果已越过停止线，不可以继续通行。 答案：7



解析：黄灯亮时，已越过停止线的车辆可以继续通行，没有越过停止线的车辆不得进入路口，更不能加速抢行通过路口。

5. 遇到这种情况时，中间车道不允许车辆通行。 答案：3

6. 驾驶机动车要选择绿色箭头灯亮的车道行驶。 答案：3

7. 驾驶机动车在这种情况下不能左转弯。 答案：3

8. 车辆通过学校和小区时，应注意观察标志标线，低速行驶，不要鸣喇叭。 答案：3

9. 车辆长时间停放时，应选择停车场停车。 答案：3

10. 车辆行至急转弯处时，应减速并靠右侧行驶，防止与越过弯道中心线的对方车辆相撞。 答案：3

11. 车辆行至交叉路口时，左转弯车辆在任何时段都可以进入左转弯待

转区。　　答案：7

解析：在没有方向指示信号灯的交叉路口，转弯的机动车让直行的车辆、行人先行。相对方向行驶的右转弯机动车让左转弯车辆先行。

12. 机动车在环形路口内行驶，遇有其他车辆强行驶入时，只要有优先权就可以不避让。　　答案：7

解析：机动车通过环形路口，应当按照导向箭头所示方向行驶。驾驶机动车通过路口时，应注意避让正在通行的车辆和行人，做好随时停车的准备。即使有优先通行权，也不能忽视对面来车抢先左转弯或左右车道车辆抢行所带来的危险。

13. 行车中前方遇自行车影响通行时，可鸣喇叭提示，加速绕行。

答案：7

解析：

（1）机动车遇有前方车辆停车排队等候、缓慢行驶时，应当停车等候或者依次行驶。

（2）不得借道超车或者占用对面车道，不得穿插等候的车辆。

（3）不得进入非机动车道、人行道行驶，不得鸣喇叭催促车辆、行人。

14. 设有安全带装置的车辆，应要求车内乘员系安全带。　　答案：3

15. 行车中遇残疾人影响通行时，应主动减速礼让。　　答案：3

16. 掉头过程中，应严格控制车速，仔细观察道路前后方情况，确认安全后方可前进或倒车。　　答案：3

17. 车辆在交叉路口绿灯亮后，遇非机动车抢道行驶时，可以不让行。

答案：7

解析：驾驶机动车在交叉路口遇到绿色信号灯亮时，准许车辆直行、向左转弯、向右转弯通行。要在确保安全的前提下，尽快通行，转弯车辆不能妨碍被放行的直行车辆、行人通行。

遇到有方向指示信号灯的路口，绿色箭头灯亮时，允许车辆按箭头指示方向分别选择左转弯、直行、右转弯车道行驶。

18. 行车中，发现行人突然横过道路时，应迅速减速避让。　　答案：3

19. 车辆通过铁道路口时，应用低速挡安全通过，中途不得换挡，以避免发动机熄火。　　答案：3

20. 高速公路因发生事故造成堵塞时，可在右侧紧急停车带或路肩行驶。　　答案：7

解析：在高速公路遇到车道堵塞：驾驶机动车遇前方道路上有障碍、因事故前方车道堵塞、道路施工占道及自然灾害造成前方路段损坏需变更车道时，应注意观察道路上的标志或警示牌，按照标志或警示牌要求行驶。

21. 路中心黄色虚线属于指示标线。

答案：3

22. 这个仪表是行驶速度表。

答案：7

解析：这个仪表是发动机转速表。

23. 机动车仪表板上如图所示的符号表示行李箱开启。 答案：7



解析：前盖为发动机舱，后边为行李箱。

24. 这个问号部位是制动踏板，俗称刹车。

答案：3

25. 机动车仪表板上如图所示的指示灯亮时表示已开启前照灯近光。

答案：7

解析：远光灯的灯光走向是直的。近光灯的灯光走向是朝下的。图中表示的已开启前照灯远光。

26. 机动车仪表板上如图所示的指示灯亮表示前后雾灯开启。 答案：7

解析：机动车仪表板的这个指示灯亮表示前后位置灯开启。

27. 旋转开关这一挡控制机动车的前后雾灯。 答案：3

28. 这个符号的开关控制后风窗玻璃除霜或除雾装置。 答案：7

解析：这个符号的开关控制后风窗玻璃刮水器及洗涤器。

29. 雾天对安全行车的主要影响是能见度低，视线不清。 答案：3

30. 这个符号的开关控制儿童安全锁装置。

答案：3

31. 路口最前端的双白虚线是停车让行线。 答案：7

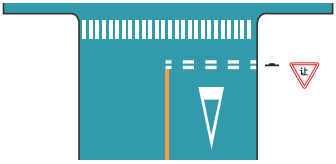

解析：应该是减速让行线。

32. 路面上的黄色标线是车行道变多标线。 答案：7

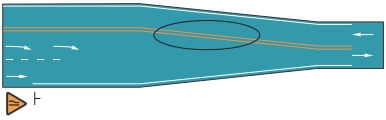

解析：路面上的黄色标线是路面宽度渐变标线。

33. 这一组交通警察手势是靠边停车信号。

答案：7

解析：这一组交通警察手势是停

止信号。

34. 路面上的黄色标记是禁止掉头。

答案：7

解析：路面上的黄色标记是禁止右转。

35. 这属于告示标志。

答案：7

解析：这属于旅游区标志。

36. 图中圈内三角填充区域是导流线。

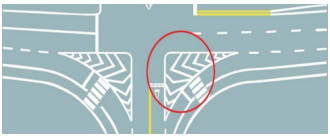

答案：3

37. 路口最前端的双白实线是停车让行线。

答案：3

38. 路缘石上的黄色虚线是禁止长时停车。

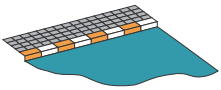

答案：3

39. 路缘石上的黄色实线是禁止停放车辆。

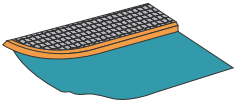

答案：3

40. 路中心白色实线是禁止跨越同向车行道分界线。　答案：3

二、选择题

1. 驾驶机动车在道路上违反道路交通安全法的行为，属于什么行为？

A. 过失行为　　B. 违规行为

C. 违章行为　　D. 违法行为

答案：D

解析：道路交通安全法是国家法律。

2. 机动车驾驶人违法驾驶造成重大交通事故构成犯罪的，依法追究什么责任？

A. 刑事责任　　B. 民事责任

C. 直接责任　　D. 经济责任

答案：A

3. 机动车驾驶人造成事故后逃逸构成犯罪的，吊销驾驶证且多长时间不得重新取得驾驶证？

A. 5 年内　　B. 10 年内

C. 20 年内　　D. 终身

答案：D

解析：驾驶人驾驶机动车违反交通安全法律、法规，发生重大事故，构成犯罪的，除依法追究刑事责任外，还要吊销机动车驾驶证。造成事故后逃逸的，吊销机动车驾驶证，且终生不得重新取得机动车驾驶证。

4. 未取得驾驶证的学员在道路上学习驾驶技能，下列哪种做法是正确的？

A. 使用所学车型的教练车由教练员随车指导

B. 使用所学车型的教练车单独驾驶学习

C. 使用所学车型的教练车由非教练员的驾驶人随车指导

D. 使用所学车型的教练车由非教练员的驾驶人随车指导

答案：A

解析：在道路上学习驾驶技能，要使用教练车，由教练员随车指导，按照公安机关交通管理部门制定的路线、时间进行，与教学无关的人员不得乘坐教练车。

5. 机动车驾驶人初次申领驾驶证后的实习期是多长时间？

A. 18 个月　　B. 16 个月

C. 12 个月　　D. 6 个月

答案：C

解析：机动车驾驶人初次申领机动车驾驶证后的 12 个月为实习期。

6. 在实习期内驾驶机动车的，应当在车身后部粘贴或者悬挂哪种标志？

A. 注意避让标志

B. 注意新手标志

C. 统一式样的实习标志

D. 注意车距标志

答案：C

解析：在实习期内驾驶机动车的，应当在车身后部粘贴或者悬挂统一式样的实习标志。

7. 以欺骗、贿赂等不正当手段取得驾驶证被依法撤销驾驶许可的，多长时间不得重新申请驾驶许可？

A. 3 年内　　B. 终身

C. 1 年内　　D. 5 年内

答案：A

8. 驾驶机动车上路应当随身携带哪种证件？

A. 职业资格证　　B. 身份证

C. 驾驶证　　D. 工作证

答案：C

解析：上道路行驶的机动车，应当悬挂机动车号牌，随车携带机动车行驶证、粘贴检验合格标志、保险标志、环保标志。

9. 驾驶拼装机动车上路行驶的驾驶人，除按规定接受罚款外，还要受到哪种处理？

A. 暂扣驾驶证

B. 吊销驾驶证

C. 追究刑事责任

D. 处 10 日以下拘留

答案：B

解析：驾驶拼装车上路行驶处 200 元以上 2000 元以下罚款，并吊销机动车驾驶证。

10. 驾驶报废机动车上路行驶的驾驶人，除按规定罚款外，还要受到哪

种处理？

A. 收缴驾驶证　B. 撤销驾驶许可

C. 强制恢复车况　D. 吊销驾驶证

答案：D

解析：驾驶拼装的机动车或者已达到报废标准的机动车上道路行驶的驾驶人，处 200 元以上 2000 元以下罚款，并吊销机动车驾驶证。

11. 对驾驶已达到报废标准的机动车上路行驶的驾驶人，会受到下列哪种处罚？

A. 处 20 元以上 200 元以下罚款

B. 追究刑事责任

C. 处 15 日以下拘留

D. 吊销机动车驾驶证

答案：D

解析：与第 10 题解析相同。

12. 对驾驶拼装机动车上路行驶的驾驶人，会受到下列哪种处罚？

A. 依法追究刑事责任

B. 处 200 元以上 2000 元以下罚款

C. 吊销机动车行驶证

D. 处 15 日以下拘留

答案：B

解析：与第 10 题解析相同。

13. 下列哪种证件是驾驶机动车上路行驶时应当随车携带的？

A. 机动车保险单

B. 机动车行驶证

C. 出厂合格证明

D. 机动车登记证

答案：B

解析：与第 8 题解析相同。

14. 驾驶这种机动车上路行驶属于什么行为？

A. 未按规定悬挂号牌

B. 故意遮挡号牌

C. 占用非机动车道

D. 逆向行驶

答案：B

15. 这样在路边临时停放机动车有什么违法行为？

A. 在非机动车道停车

B. 停车占用机动车道

C. 距离路边超过 30 厘米

D. 在有禁停标线路段停车

答案：D

16. 下列哪种标志是驾驶机动车上路行驶应当在车上放置的标志？

A. 保持车距标志

B. 提醒危险标志

C. 产品合格标志

D. 检验合格标志

答案：D

解析：与第 8 题解析相同。

17. 驾驶人在下列哪种情况下不能驾驶机动车？

A. 喝咖啡后　B. 喝牛奶后

C. 饮酒后　D. 喝茶后

答案：C

18. 公安交通管理部门对驾驶人的交

通违法行为除依法给予行政处罚外，实行下列哪种制度？

A. 违法登记制度

B. 奖励里程制度

C. 强制报废制度

D. 累积记分制度

答案：D

解析：公安交通管理部门对驾驶人的交通违法行为除依法给予行政处罚外，实行累积记分制度。

19. 道路交通安全违法行为累积记分的周期是多长时间？

A. 12 个月　　B. 24 个月

C. 3 个月　　D. 6 个月

答案：A

解析：道路交通安全违法行为累积记分，从机动车驾驶证初次领取之日起计算，一个周期（即记分周期）为 12 个月，满分为 12 分。

20. 公安机关交通管理部门对累积记分达到 12 分的驾驶人怎样处理？

A. 处 15 日以下拘留

B. 终生禁驾

C. 进行法律法规教育，重新考试

D. 依法追究刑事责任

答案：C

解析：驾驶人在一个记分周期内累积记分达到 12 分的，在 15 日内到驾驶证核发地或者违法行为地公安机关交通管理部门参加为期 7 日的道路交通安全法律法规和相关知识学习并重新考试。

21. 驾驶机动车在路口直行遇到这种信号灯应该怎样行驶？

A. 进入路口等待

B. 左转弯行驶

C. 加速直行通过

D. 不得越过停止线

答案：D

解析：有交通信号控制的路口，遇有停止信号时，依次停在停止线以外。没有停止线的，停在路口以外。

22. 驾驶机动车在路口遇到这种信号灯表示什么意思？

A. 禁止右转

B. 路口警示

C. 准许直行

D. 加速通过

答案：B

解析：交通信号灯有红、黄、绿三种颜色，红灯亮表示禁止通行，绿灯亮表示准许通行，黄灯亮表示警示。

23. 遇到这种情况时怎样行驶？

A. 加速进入两侧车道行驶

B. 进入右侧车道行驶
C. 减速进入两侧车道行驶
D. 禁止车辆在两侧车道通行

答案：D

24. 这个路口允许车辆怎样行驶？

A. 直行或向右转弯
B. 向左转弯
C. 直行或向左转弯
D. 向左、向右转弯

答案：A

25. 这个路口允许车辆怎样行驶？

A. 直行或向右转弯
B. 向右转弯
C. 向左转弯
D. 直行

答案：C

26. 这个路口允许车辆怎样行驶？

A. 直行
B. 向右转弯
C. 向左转弯
D. 直行或向左转弯

答案：B

27. 这个标志是何含义？

A. 十字交叉路口
B. 环行交叉路口
C. T 形交叉路口
D. Y 形交叉路口

答案：A

28. 这个标志是何含义？

A. Y 形交叉路口
B. T 形交叉路口
C. 十字交叉路口
D. 环行交叉路口

答案：B

29. 这个标志是何含义？

A. 向右急转弯
B. 向右绕行
C. 连续弯路
D. 向左急转弯

答案：A

30. 这个标志是何含义？

A. 向左绕行
B. 连续弯路
C. 向左急转弯
D. 向右急转弯

答案：C

31. 这个标志是何含义？

A. 连续弯路
B. 反向弯路
C. 急转弯路
D. N 形弯路

答案：B

32. 这个标志是何含义？

A. 堤坝路

B. 上陡坡

C. 连续上坡

D. 下陡坡

答案：D

33. 这个标志是何含义？

A. 连续下坡

B. 下陡坡

C. 上陡坡

D. 连续上坡

答案：A

34. 这个标志是何含义？

A. 两侧变窄

B. 右侧变窄

C. 左侧变窄

D. 宽度变窄

答案：A

35. 这个标志是何含义？

A. 左侧变窄

B. 窄桥

C. 窄路

D. 右侧变窄

答案：B

36. 这个标志是何含义？

A. 减速让行

B. 潮汐车道

C. 分离式道路

D. 双向交通

答案：D

37. 这个标志是何含义？

A. 注意行人

B. 注意儿童

C. 学校区域

D. 人行横道

答案：A

38. 这个标志是何含义？

A. 学校区域

B. 注意儿童

C. 人行横道

D. 注意行人

答案：B

39. 这个标志是何含义？

A. 注意牲畜

B. 注意野生动物

C. 野生动物保护区

D. 大型畜牧场

答案：A

40. 这个标志是何含义？

A. 注意野生动物

B. 注意牲畜

C. 动物公园

D. 开放的牧区

答案：A

41. 这个标志是何含义？

A. 人行横道灯

B. 注意行人

C. 注意信号灯

D. 交叉路口

答案：C

42. 这个标志是何含义？

A. 傍山险路

B. 悬崖路段

C. 注意落石

D. 危险路段

答案：C

43. 这个标志是何含义？

A. 隧道入口
B. 气象台
C. 注意横风
D. 风向标

答案：C

44. 这个标志是何含义？

A. 易滑路段
B. 急转弯路
C. 试车路段
D. 曲线路段

答案：A

45. 这个标志是何含义？

A. 堤坝路
B. 傍山险路
C. 落石路
D. 临崖路

答案：B

46. 这个标志是何含义？

A. 堤坝路
B. 临崖路
C. 傍水路
D. 易滑路

答案：A

47. 这个标志是哪类标志？

A. 禁令标志
B. 指示标志
C. 指路标志
D. 警告标志

答案：A

48. 这个标志是何含义？

A. 禁止各种车辆通行
B. 禁止小型客车通行
C. 禁止中型客车通行
D. 禁止小型货车通行

答案：B

49. 这个标志是何含义？

A. 禁止车辆掉头
B. 禁止向左变道
C. 禁止向左转弯
D. 禁止驶入左车道

答案：C

50. 这个标志是何含义？

A. 禁止驶入路口
B. 禁止向右转弯
C. 禁止变更车道
D. 禁止车辆掉头

答案：B

51. 这个标志是何含义？

A. 禁止向右转弯
B. 禁止掉头
C. 禁止直行
D. 禁止向左转弯

答案：C

52. 这个标志是何含义？

A. 禁止在路口掉头
B. 禁止向左向右变道
C. 禁止向左向右转弯
D. 禁止车辆直行

答案：C

53. 这个标志是何含义？

A. 禁止通行

B. 减速行驶

C. 限时进入

D. 禁止驶入

答案：A

54. 这个标志是何含义？

A. 禁止临时停车

B. 禁止长时停车

C. 禁止停放车辆

D. 允许长时停车

答案：B

55. 这个标志是何含义？

A. 预告宽度为 3 米

B. 限制宽度为 3 米

C. 解除 3 米限宽

D. 限制高度为 3 米

答案：B

56. 这个标志是何含义？

A. 40 米减速行驶路段

B. 最低车速 40 公里 / 小时

C. 最高车速 40 公里 / 小时

D. 解除车速 40 公里 / 小时限制

答案：D

57. 这个标志是何含义？

A. 海关检查

B. 停车检查

C. 边防检查

D. 禁止通行

答案：B

58. 这个标志是哪类标志？

A. 指路标志

B. 指示标志

C. 禁令标志

D. 警告标志

答案：B

59. 这个标志是何含义？

A. 直行车道

B. 只准直行

C. 单行路

D. 禁止直行

答案：B

60. 雨天对安全行车的主要影响是什么？

A. 路面湿滑，视线受阻

B. 发动机易熄火

C. 行驶阻力增大

D. 电器设备易受潮短路

答案：A

解析：雨天影响行驶安全的主要因素有：(1) 雨水洒落在前风窗玻璃上，造成视线受阻。(2) 潮湿路面的光线反射。(3) 路面湿滑，制动距离增加。(4) 久雨天气，路基疏松可能出现坍塌现象。

科目一考试模拟题（二）

一、判断题

1. 驾驶机动车行驶到这个位置时，如果车前轮已越过停止线可以继续通过。 答案：7

解析：有交通信号控制的路口，

遇有停止信号时，依次停在停止线以外。没有停止线的，停在路口以外。

2. 驾驶机动车在这种信号灯亮的路口，可以右转弯。　答案：3



3. 驾驶机动车在路口遇到这种信号灯可以通行。

答案：3

4. 绿灯亮表示前方路口允许机动车通行。　答案：3

5. 驾驶机动车在这种情况下可以右转弯。



答案：7

解析：可以向左转弯。

6. 驾驶机动车在路口遇到这种信号灯亮时，要在停止线前停车瞭望。

答案：7

解析：遇到绿灯信号灯要正常通行。

7. 驾驶机动车在路口遇到这种信号灯亮时，能右转弯。　答案：3

8. 驾驶机动车在前方路口能右转弯。

答案：3

9. 驾驶机动车在这种情况下不能左转弯。

答案：3

10. 驾驶机动车在这种情况下不能直行和左转弯。

答案：3

11. 在铁路道口遇到两个红灯交替闪烁时要停车等待。　答案：3

12. 驾驶人要按照驾驶证载明的准驾车型驾驶车辆。 答案：3

13. 对违法驾驶发生重大交通事故且构成犯罪的，不追究其刑事责任。

答案：7

解析：驾驶人驾驶机动车违反交通安全法律、法规，发生重大事故，构成犯罪的，除依法追究刑事责任外，还要吊销机动车驾驶证。造成事故后逃逸的，吊销机动车驾驶证，且终生不得重新取得机动车驾驶证。

14. 上路行驶的机动车未随车携带身份证的，交通警察可依法扣留机动车。 答案：7

解析：上道路行驶的机动车，应当悬挂机动车号牌，随车携带机动车行驶证、粘贴检验合格标志、保险标志、环保标志。机动车号牌应当按照规定悬挂并保持清晰、完整，不得故意遮挡、污损。

15. 上路行驶的机动车未放置检验合格标志的， 交通警察可依法扣留机动车。 答案：3

16. 机动车驾驶人在实习期内驾驶机动车不得牵引挂车。 答案：3

17. 驾驶机动车上路前应当检查车辆安全技术性能。 答案：3

18. 不得驾驶具有安全隐患的机动车上道路行驶。 答案：3

19. 拼装的机动车只要认为安全就可以上路行驶。 答案：7

解析：达到报废标准的机动车不得上道路行驶。驾驶拼装车上路行驶处 200 元以上 2000 元以下罚款，并吊销机动车驾驶证。

20. 驾驶机动车上路行驶应当按规定悬挂号牌。 答案：3

21. 驾驶这种机动车上路行驶的做法，是一种轻微的违规行为。

答案：7

解析：上道路行驶的机动车未悬挂机动车号牌的，或者故意遮挡、污损、不按规定安装机动车号牌的是严重违规行为，一次记 12 分。

22. 交通信号包括交通信号灯、交通标志、交通标线和交通警察的指挥。

答案：3

23. 打开前雾灯开关，如图所示的指示灯亮起。

答案：7

解析：打开后雾灯开关，如图所示的指示灯亮起。

24. 机动车仪表板上如图所示的指示灯亮表示发动机机油量可能不足。 答案：3

25. 驾驶车辆汇入车流时，应提前开启转向灯，保持直线行驶，通过后视镜观察左右情况，确认安全后汇入合流。 答案：3

26. 机动车仪表板上如图所示的指示灯亮时，防抱死制动系统处于打开状态。

答案：3

27. 机动车仪表板上如图所示的指示

灯亮时，表示驻车制动器处于制动状态。

答案：3

28. 机动车仪表板上如图所示的指示灯亮时，提醒发动机需要补充机油。

解析：表示油箱内燃油已到最低液面。

答案：7

29. 一个合格的驾驶人，不仅表现在技术的娴熟上，更重要的是应该具有良好的驾驶行为习惯和道德修养。答案：3

30. 驾驶车辆在道路上行驶时，应当按照规定的速度安全行驶。　答案：3

31. 驾驶人一边驾车，一边打手持电话是违法行为。　答案：3

32. 在道路上超车时，应尽量加大横向距离，必要时可越实线超车。

答案：7

解析：若超车条件不具备，应等待时机再超车，不可以越过中心实线。

33. 在道路上跟车行驶时，跟车距离不是主要的，只需保持与前车相等的速度，即可防止发生追尾事故。

答案：7

解析：安全跟车距离是指无论在什么条件下跟车行驶，都能保证在前车突然紧急制动时，后车随之制动而不与前车相撞的安全停车距离。

34. 谨慎驾驶的三原则是集中注意力、仔细观察和提前预防。　答案：3

35. 遇到路口情况复杂时，应做到“宁停三分，不抢一秒”。　答案：3

36. 行车中要文明驾驶，礼让行车，做到不开英雄车、冒险车、赌气车和带病车。　答案：3

37. 驾驶人在观察后方无来车的情况下，未开转向灯就变更车道也是合理的。　答案：7

解析：驾驶机动车向左转弯、向左变更车道、准备超车、驶离停车地点或者掉头时，应提前开启左转向灯。

38. 女驾驶人穿高跟鞋驾驶车辆，不利于安全行车。　答案：3

39. 驾驶车辆时，长时间左臂搭在车门窗上，或者长时间右手抓住变速杆，是一种驾驶陋习。　答案：3

40. 驾驶人一边驾车，一边吸烟对安全行车无影响。　答案：7

二、选择题

1. 这个标志是何含义？

A. 向左绕行

B. 连续弯路

C. 向左急转弯

D. 向右急转弯

答案：C

2. 这个标志是何含义？

A. 连续弯路

B. 反向弯路

C. 急转弯路

D. N 形弯路

答案：B

3. 这个标志是何含义？

A. 急转弯路

B. 反向弯路

C. 连续弯路

D. N 形弯路

答案：C

4. 这个标志是何含义？

A. 下陡坡

B. 连续上坡

C. 上陡坡

D. 堤坝路

答案：C

5. 这个标志是何含义？

A. 注意行人

B. 有人行横道

C. 村庄或集镇

D. 有小学校

答案：C

6. 这个标志是何含义？

A. 水渠

B. 桥梁

C. 隧道

D. 涵洞

答案：C

7. 这个标志是何含义？

A. 漫水桥

B. 渡口

C. 船用码头

D. 过水路面

答案：B

8. 这个标志是何含义？

A. 驼峰桥

B. 路面高突

C. 路面低洼

D. 不平路面

答案：A

9. 这个标志是何含义？

A. 路面低洼

B. 驼峰桥

C. 路面不平

D. 路面高突

答案：C

10. 这个标志是何含义？

A. 路面不平

B. 路面高突

C. 路面低洼

D. 驼峰桥

答案：B

11. 驾驶机动车遇到这种信号灯不断闪烁时怎样行驶？

A. 尽快加速通过

B. 靠边停车等待

C. 禁止通行

D. 注意瞭望安全通过

答案：D

12. 驾驶机动车在铁路道口看到这种信号灯时怎样行驶？

A. 在火车到来前通过

B. 不得越过停止线

C. 边观察边缓慢通过

D. 不换挡加速通过

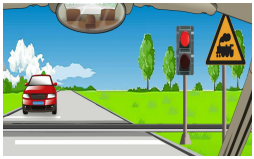

答案：B

解析：驾车通过道路与铁路的平面交叉道口时，有两个红灯交替闪烁或者一个红灯亮起时，要将车停在停止线以外等待，红灯熄灭时通过。没有停止线的铁路道口，要停在距离道口 50 米以外。

13. 这个标志是何含义？

A. 允许临时停车

B. 允许长时停车

C. 禁止长时停车

D. 禁止停放车辆

答案：D

14. 这个标志是何含义？

A. 解除禁止超车

B. 准许变道行驶

C. 解除禁止变道

D. 解除禁止借道

答案：A

15. 这个标志是何含义？

A. 国界　　B. 边防

C. 边界　　D. 海关

答案：D

16. 这个标志是何含义？

A. 向左转弯

B. 禁止直行

C. 直行车道

D. 单行路

答案：A

17. 这个标志是何含义？

A. 直行和向左转弯

B. 直行和向右转弯

C. 禁止直行和向右转弯

D. 只准向左和向右转弯

答案：B

18. 这个标志是何含义？

A. 禁止向左转弯

B. 向左和向右转弯

C. 禁止向左右转弯

D. 禁止向右转弯

答案：B

19. 这个标志是何含义？

A. 靠道路左侧停车

B. 左侧是下坡路段

C. 只准向左转弯

D. 靠左侧道路行驶

答案：D

20. 这属于哪一类标志？

A. 指路标志

B. 指示标志

C. 禁令标志

D. 警告标志

答案：A

21. 指示标志的作用是什么？

A. 告知方向信息

B. 警告前方危险

C. 限制车辆、行人通行

D. 指示车辆、行人行进

答案：D

解析：指示标志的作用是指示车辆、行人行进的含义，车辆、行人要遵守。

22. 指路标志的作用是什么？

A. 限制车辆通行　B. 提示限速信息

C. 提供方向信息　D. 警告前方危险

答案：C

解析：指路标志的作用是指引道路信息，为驾车人传递道路方向、地点、距离信息。

23. 这个标志是何含义？

A. 十字交叉路口预告

B. 互通立体交叉预告

C. Y 形交叉路口预告

D. 环行交叉路口预告

答案：D

24. 这个标志是何含义？

A. 乡道编号

B. 县道编号

C. 省道编号

D. 国道编号

答案：D

25. 这个标志是何含义？

A. 省道编号

B. 国道编号

C. 县道编号

D. 乡道编号

答案：A

26. 这个标志是何含义？

A. 省道编号

B. 国道编号

C. 县道编号

D. 乡道编号

答案：C

27. 这个标志是何含义？

A. 省道编号

B. 县道编号

C. 乡道编号

D. 国道编号

答案：C

28. 这个标志是何含义？

A. 内部停车场

B. 专用停车场

C. 露天停车场

D. 室内停车场

答案：C

29. 这个标志是何含义？

A. 专用停车场

B. 露天停车场

C. 室内停车场

D. 内部停车场

答案：C

30. 这个标志是何含义？

A. 两侧通行

B. 不准通行

C. 左侧通行

D. 右侧通行

答案：A

31. 这个标志是何含义？

A. 两侧通行

B. 右侧通行

C. 左侧通行

D. 不准通行

答案：C

32. 这个标志是何含义？

A. 高速公路入口预告
B. 高速公路终点预告
C. 高速公路起点预告
D. 高速公路出口预告

答案：A

33. 这个标志是何含义？

A. 高速公路右侧出口预告
B. 高速公路下一出口预告
C. 高速公路地点、方向预告
D. 高速公路左侧出口预告

答案：C

34. 这个标志是何含义？

A. 高速公路救援电话号码
B. 高速公路服务电话号码
C. 高速公路报警电话号码
D. 高速公路交通广播频率

答案：D

35. 这个标志是何含义？

A. 高速公路收费处
B. 高速公路检查站
C. 设有 ETC 的收费站
D. 高速公路领卡处

答案：C

36. 前方路口这种信号灯亮表示什么意思？

A. 准许通行　　B. 提醒注意
C. 路口警示　　D. 禁止通行

答案：D

37. 前方路口这种信号灯亮表示什么意思？

A. 加速左转　　B. 禁止右转
C. 路口警示　　D. 加速直行

答案：C

解析：交通信号灯有红、黄、绿三种颜色，红灯亮表示禁止通行，绿灯亮表示准许通行，黄灯亮表示警示。

38. 前方路口这种信号灯亮表示什么意思？



A. 路口警示　　B. 禁止通行
C. 提醒注意　　D. 准许通行

答案：D

39. 驾驶机动车在这种道路上如何通行？

A. 在道路中间通行
B. 在道路两边通行
C. 实行分道通行
D. 可随意通行

答案：A

解析：在没有划分机动车道、非机动车道和人行道的道路，机动车在道路中间通行，非机动车和行人在道路两侧通行。

40. 道路上划设这种标线的车道内允许下列哪类车辆通行？

A. 公交车　　B. 私家车
C. 出租车　　D. 公务用车

答案：A

41. 驾驶机动车在路口遇到这种情况如何行驶？

A. 停车等待
B. 遵守交通信号灯
C. 靠右侧直行
D. 可以向右转弯

答案：A

解析：行人在路口遇到交通警察指挥手势与信号灯不一致时，应该按照交通警察的指挥通行。

42. 有这种信号灯的路口允许机动车如何行驶？

A. 向右转弯　　B. 停车等待
C. 向左转弯　　D. 直行通过

答案：A

43. 遇到这种情况的路口怎样通过？

A. 确认安全后通过
B. 右转弯加速通过
C. 加速直行通过
D. 左转弯加速通过

答案：A

解析：闪光警告信号灯为持续闪烁的黄灯，提示车辆、行人通行时注意瞭望，确认安全后通过。

44. 这段道路红车所在车道是什么车道？

A. 快速车道　　B. 慢速车道
C. 应急车道　　D. 专用车道

答案：A

解析：在道路同方向有 2 条以上

机动车道的，左侧为快速车道，右侧为慢速车道。

45. 这个仪表是何含义？

A. 速度和里程表

B. 发动机转速表

C. 最高车速值表

D. 百公里油耗表

答案：A

46. 这个仪表是何含义？

A. 水温表

B. 燃油表

C. 电流表

D. 压力表



答案：A

47. 机动车仪表板上如图所示的指示灯亮表示什么？

A. 后雾灯打开

B. 前照灯近光打开

C. 前照灯远光打开

D. 前雾灯打开

答案：D

48. 机动车仪表板上如图所示的指示灯亮表示什么？

A. 后雾灯打开

B. 前照灯近光打开

C. 前照灯远光打开

D. 前雾灯打开

答案：A

49. 机动车仪表板上如图所示的指示灯亮表示什么？

A. 驻车制动解除

B. 行车制动器失效

C. 制动系统出现异常

D. 制动踏板没回位

答案：C

50. 驶入高速公路的收费口时，应选择怎样的入口？

A. 车辆多　　B. 红灯亮

C. 绿灯亮　　D. 暂停服务

答案：C

解析：驾驶机动车驶近高速公路收费站时，要严格遵守限速规定，选择通道上方亮绿灯且车辆较少的收费口通行，依次排队通过，切勿争道抢行。

51. 驾驶车辆进入高速公路加速车道后，应尽快将车速提高到多少公里／小时以上？

A. 50　　B. 60

C. 30　　D. 40

答案：B

解析：进出高速公路规定：机动车从匝道入口进入高速公路，应当开启左转向灯，在不影响正常行驶的车辆情况下经加速车道将车速提到 60 公里／小时以上驶入行车道。驶出高速公路时应开右转向灯经减速车道降速后驶出。

52. 高速公路上行车，如果因疏忽驶过出口，应怎样做？

A. 立即停车

B. 在原地掉头

C. 在原地倒车驶回

D. 继续向前行驶，寻找下一个出口

答案：D

解析：如果误驶过出口，只能继续向前行驶至立体交叉桥掉头，或

者在下一出口驶离。严禁在高速公路紧急制动、停车、倒车、掉头、逆行、穿越中心隔离带供紧急情况使用的缺口。

53. 车辆因故障必须在高速公路停车时，应在车后方至少多少米处设置故障警告标志，夜间还需开启示廓灯和后位灯？

A. 150　　B. 200

C. 100　　D. 50

答案：A

解析：驾驶机动车在高速公路上发生故障时，迅速将车移至不妨碍交通的地方停放。故障车难以移动的，要立即开启危险报警闪光灯，在故障车来车方向 150 米以外设置警告标志，夜间还应同时开启示廓灯和后位灯。车上人员应当迅速转移到右侧路肩上或者应急车道内，并且迅速报警。

54. 在标志、标线齐全的高速公路上行车，应当按照什么规定的车道和车速行驶？

A. 标志或标线

B.《道路交通安全法》

C. 车辆说明书

D. 地方法规

答案：A

55. 机动车在高速公路行驶，下列做法正确的是？

A. 非紧急情况时不得在应急车道行驶或者停车

B. 可在减速车道或加速车道上超车、停车

C. 可在紧急停车带停车装卸货物

D. 可在路肩停车上下人员

答案：A

56. 在同向 4 车道高速公路上行车，车速高于 110 公里 / 小时的车辆应在哪条车道上行驶？

A. 最左侧　　B. 第二条

C. 最右侧　　D. 第三条

答案：A

解析：高速公路上，在同方向有三条以上车道的左侧车道行驶时，车速不得低于 110 公里 / 小时；在中间车道行驶时车速不得低于 90 公里 / 小时。

57. 车辆在山区道路跟车行驶时，应怎样做？

A. 适当加大安全距离

B. 紧随前车之后

C. 适当减小安全距离

D. 尽可能寻找超车机会

答案：A

解析：在山路上跟车行驶时或遇上坡中途停车时，要适当加大与前车的安全距离，防止前车在起步时溜车。

58. 在山区道路超车时，应怎样超越？

A. 抓住任何机会尽量超车

B. 选择宽阔的缓上坡路段

C. 选择较长的下坡路

D. 选择较缓的下坡路

答案：B

解析：在山路上超车时，应选择在宽阔的路段进行，在超车前要提前开启左转向灯，鸣喇叭，确认安全后超车。

59. 在山区道路遇对向来车时，应怎样会车？

A. 紧靠道路中心

B. 不减速

C. 加速

D. 减速或停车让行

答案：D

解析：驾驶机动车在山区道路遇对向来车时，选择安全路段减速或停车交会，对面来车占路面较大时，要减速靠右行驶，不得加速或紧靠道路中心会车，以防发生剐碰事故。

60. 下长坡时，控制车速除了制动以外还有什么有效的辅助方法？

A. 挂入空挡滑行

B. 利用发动机制动

C. 关闭发动机熄火滑行

D. 踏下离合器踏板滑行

答案：B

解析：下坡时，汽车重心前移，惯性力变成下坡的驱动力，汽车行驶速度自行加快。坡越陡、越长，车越重，车速就越快。所以下长坡要尽量利用发动机的牵阻作用控制车速。经常使用行车制动，不仅会加剧制动蹄片与制动鼓的磨损，还会使车轮制动器内的温度升高，造成制动效能降低，严重时会使制动失灵；同时会造成制动气压急剧下降，影响车辆制动性能，下坡的尽头如果有桥梁，应提前减速，使车辆平稳地以低速通过。

科目一考试模拟题（三）

一、判断题

1. 服用国家管制的精神药品可以短途驾驶机动车。　　答案：7

解析：服用国家管制的精神药品、麻醉品后不能驾驶机动车。

2. 饮酒后只要不影响驾驶操作可以短距离驾驶机动车。　　答案：7

解析：饮酒后驾驶机动车的，处暂扣六个月机动车驾驶证，并处1000元以上2000元以下罚款。因饮酒后驾驶机动车被处罚，再次饮酒后驾驶机动车的，处10日以下拘留，并处1000元以上2000元以下罚款，吊销机动车驾驶证。

3. 驾驶人在驾驶证丢失后3个月内还可以驾驶机动车。　　答案：7

解析：机动车驾驶证遗失的，机动车驾驶人要向机动车驾驶证核发地车辆管理所申请补发。

4. 驾驶人持超过有效期的驾驶证可以在1年内驾驶机动车。　　答案：7

解析：驾驶人在机动车驾驶证有效期满前90日内，向机动车驾驶证核发地车辆管理所申请换证。超过机动车驾驶证有效期一年以上未换证的，车辆管理所应当注销其机动车驾驶证。

5. 驾驶人的驾驶证损毁后不得驾驶机动车。　　答案：3

6. 记分满12分的驾驶人拒不参加学习和考试的将被公告驾驶证停止使用。　　答案：3

7. 驾驶人的机动车驾驶证被依法扣留、暂扣的情况下不得驾驶机动车。　　答案：3

8. 交通标志和交通标线不属于交通信号。　　答案：7

解析：交通标志和交通标线属于交通信号。

9. 交通信号灯由红灯、绿灯和黄灯组成。 答案：3

10. 道路交通标线分为指示标线、警告标线、禁止标线。 答案：3

11. 驾驶机动车在这种情况下可以右转弯。



答案：7

解析：可以向左转弯。

12. 路口黄灯持续闪烁，警示驾驶人要注意瞭望，确认安全后再通过。

答案：3

13. 黄灯持续闪烁，表示机动车可以加速通过。 答案：7

解析：黄灯亮时，已越过停止线的车辆可以继续通行，没有越过停止线的车辆不得进入路口，更不能加速抢行通过路口。

14. 在道路与铁路道口遇到一个红灯亮时要尽快通过道口。 答案：7



解析：道路与铁路平面交叉道口有两个红灯交替闪烁或者一个红灯亮时，表示禁止车辆、行人通行；红灯熄灭时，表示允许车辆、行人通行。

15. 这个标志是停车缴费。

解析：这个标志是停车领卡。

答案：7

16. 这个标志是高速公路 ETC 车道。

答案：3

17. 这个标志是高速公路特殊天气最低速度。

解析：这个标志是高速公路特殊天气建议速度。

答案：7

18. 这个标志是高速公路紧急电话。

答案：3

19. 这个标志是旅游区符号。

解析：这个标志是旅游区距离。

答案：7

20. 这个标志是旅游区方向。

答案：3

21. 指示标线的作用是警告提醒。

答案：7

解析：指示标线的作用是指示通行。

22. 路中白色虚线是禁止跨越对向车道中心线。 答案：7

解析：路中白色虚线是可跨越同向车道中心线。

23. 路中黄色分界线的作用是允许在左侧车道行驶。　　答案：7

解析：路中黄色分界线的作用是分隔对向行驶的交通流。

24. 路中两条双黄色虚线是双向分道线。　　答案：7

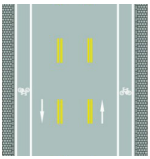

解析：路中两条双黄色虚线是潮汐车道线。

25. 路两侧的车行道边缘白色实线表示机动车可临时跨越。　　答案：7

解析：路两侧的车行道边缘白色实线表示禁止车辆跨越。

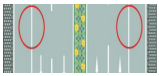

26. 路右侧车行道边缘白色虚线表示车辆可临时越线行驶。

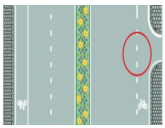

答案：3

27. 图中圈内两条白色虚线是左弯待转区线。

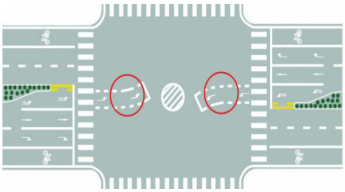

答案：3

28. 图中圈内白色虚线是非机动车引导线。

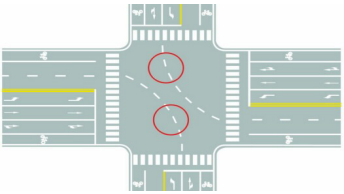

答案：7

解析：图中圈内白色虚线是路口导向线。

29. 图中圈内黄色虚线是非机动车引导线。

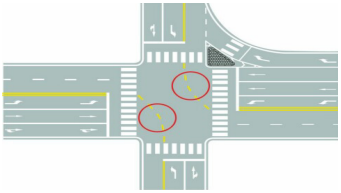

答案：7

解析：图中圈内黄色虚线是路口导向线。

30. 图中圈内白色实线是导向车道线。

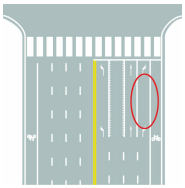

答案：3

31. 图中圈内的锯齿状白色实线是可变导向车道线。

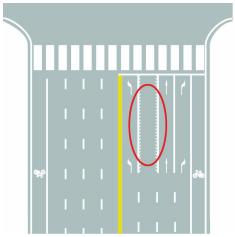

答案：3

32. 图中圈内的路面标记是减速让行线。

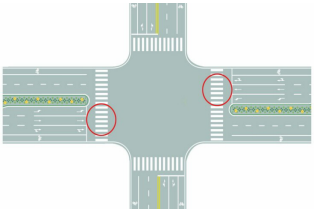

答案：7

解析：应该是人行横道线。

33. 这个地面标记表示减速让行预告。

答案：7

解析：这个地面标记表示人行横道预告。

34. 在狭窄的路段会车时，应做到礼让三先：先慢、先让、先停。

答案：3

35. 在冰雪道路上行车时，车辆的稳定性降低，加速过急时车轮极易空转或溜滑。 答案：3

36. 漫水道路行车时，应挂高速挡，快速通过。 答案：7

解析：路面、桥面被水覆盖，车辆的附着力降低，同时水的流动冲击力使车辆容易发生侧滑，所以机动车行经漫水路或者漫水桥时，应当停车查明水情，确认安全后，低速通过。

37. 行车中突遇对向车辆强行超车，占据自己车道时，可不予避让，迫使对方让路。 答案：7

解析：开车一般是以安全为主、避让为主、和谐为主。

38. 驾驶车辆变更车道时，应提前开启转向灯，注意观察，保持安全距离，驶入要变更的车道。

答案：3

39. 驾驶车辆向右变更车道时，应提前开启右转向灯，注意观察，在确保安全的情况下，驶入要变更的车道。 答案：3

40. 变更车道时只需开启转向灯，便可迅速转向驶入相应的行车道。

答案：7

解析：先开转向灯后观察才可以驶入车道。

二、选择题

1. 下雨后路面湿滑，车辆行驶中紧急制动时，容易导致什么？

A. 发生侧滑、引发交通事故

B. 因视线模糊而撞车

C. 不被其他车辆驾驶人发现

D. 引起发动机熄火

答案：A

解析：驾驶机动车在湿滑的路面上行驶，路面附着力随着车速的增加而急剧减小。行驶中制动时，容易发生侧滑。

2. 行人参与道路交通的主要特点是什么？

A. 喜欢聚集、围观

B. 稳定性差

C. 行走随意性大，方向多变

D. 行动迟缓

答案：C

3. 夜间道路环境对安全行车的主要影响是什么？

A. 驾驶人体力下降

B. 驾驶人易产生冲动、幻觉

C. 能见度低、不利于观察道路交通情况

D. 路面复杂多变

答案：C

解析：夜间道路环境对安全行车的主要影响是能见度低、驾驶人视距变短，不利于观察道路交通情况；遇对向灯光照射后，短时间内看不清前方道路情况；驾驶人在夜间行车，注意力需要高度集中，容易产生疲劳。

4. 夜间驾驶人对物体的观察明显比白天差，视距会有什么变化？

A. 不变　　B. 无规律

C. 变长　　D. 变短

答案：D

解析：驾驶机动车于夜间行车，相对白天而言，车辆灯光照射的范围小，驾驶人的视野受限，对事物的观察能力明显比白天差，视距变短，更容易产生视觉疲劳。

5. 冰雪道路对安全行车的主要影响是什么？

A. 电器设备易受潮短路

B. 能见度降低，视野模糊

C. 行驶阻力增大

D. 制动性能差，方向易跑偏

答案：D

解析：冰雪道路对安全行车的主要影响是路面溜滑，车辆稳定性降低，制动性能变差，制动距离增加，加速过急时车轮极易空转或溜滑；积雪对光线的反射，也易造成驾驶人目眩而产生错觉。

6. 冰雪路行车时应注意什么？

A. 制动距离延长

B. 抗滑能力变大

C. 制动性能没有变化

D. 路面附着力增大

答案：A

解析：车辆在冰雪路面上行驶，因汽车轮胎与路面的摩擦系数减小、附着力大大降低，所以遇有冰雪路面，车辆在行驶中最重要的是车辆制动问题，要采取点制动（点刹）并和前后车保持合理距离。遇情况紧急制动时，制动距离会大大延长。

7. 泥泞道路对安全行车的主要影响是什么？

A. 行驶阻力变小

B. 车轮极易滑转和侧滑

C. 能见度低，视野模糊

D. 路面附着力增大

答案：B

解析：泥泞道路对安全行车的主

要影响是路面特别松软和黏稠，行驶阻力大，附着力减小，车轮极易滑转和侧滑。制动时，车轮易发生侧滑或甩尾，导致交通事故。

8. 水淹路面影响行车安全，不易通行的原因是什么？

A. 路面附着力增大

B. 无法观察到暗坑和凸起的路面

C. 能见度低，视野模糊

D. 日光反射阻挡视线

答案：B

解析：因为水淹没了路面，所以看不清是暗坑和凸起的路面。

9. 山区道路对安全行车的主要影响是什么？

A. 交通情况单一

B. 坡长弯急，视距不足

C. 车流密度大

D. 道路标志少

答案：B

解析：山区道路对安全行车的主要影响是坡长弯急，视距不足。

10. 行车中突遇对方车辆强行超车，占据自己车道，正确的做法是什么？

A. 挡住其去路

B. 保持原车速行驶

C. 尽可能减速避让、直至停车

D. 加速行驶

答案：C

11. 行车中遇有前方发生交通事故，需要帮助时，应怎样做？

A. 尽量绕道躲避

B. 立即报警，停车观望

C. 协助保护现场，并立即报警

D. 加速通过，不予理睬

答案：C

解析：在道路上发生交通事故，车辆驾驶人应当立即停车，保护现场；在确保安全的原则下，立即组织车上人员疏散到路外安全地点，避免发生次生事故。

12. 行车中遇交通事故受伤者需要抢救时，应怎样做？

A. 及时将伤者送医院抢救或拨打急救电话

B. 尽量避开，少惹麻烦

C. 绕过现场行驶

D. 借故避开现场

答案：A

13. 行车中遇到对向来车占道行驶，应怎样做？

A. 逼对方靠右行驶

B. 用远光灯（大灯）警示对方

C. 主动给对方让行

D. 紧靠道路中心行驶

答案：C

14. 行车中发现前方道路拥堵时，应怎样做？

A. 寻找机会超越前车

B. 从车辆空间穿插通过

C. 减速停车，依次排队等候

D. 鸣喇叭催促

答案：C

15. 这个标志是何含义？

A. 左转让行

B. 直行单行路

C. 向右单行路
D. 向左单行路

答案：D

16. 这个标志是何含义？

A. 低速行驶
B. 注意行人
C. 步行
D. 行人先行

答案：C

17. 这个标志是何含义？

A. 禁止鸣高音喇叭
B. 禁止鸣低音喇叭
C. 应当鸣喇叭
D. 禁止鸣喇叭

答案：C

18. 这个标志是何含义？

A. 人行横道
B. 学生通道
C. 注意行人
D. 儿童通道

答案：A

19. 这个标志是何含义？

A. 车道方向预告
B. 交叉路口预告
C. 分道信息预告
D. 分岔处预告

答案：B

20. 这个标志是何含义？

A. 分道信息预告
B. 道路分岔处预告
C. 地点和距离预告
D. 十字交叉路口预告

答案：D

21. 这个标志是何含义？

A. 环行交叉路口预告
B. 十字交叉路口预告
C. Y 形交叉路口预告
D. 丁字交叉路口预告

答案：C

22. 这个标志是何含义？

A. 地点距离
B. 行驶路线
C. 终点地名
D. 行驶方向

答案：A

23. 这个标志是何含义？

A. 露天停车场
B. 紧急停车带
C. 停车位
D. 错车道

答案：D

24. 这个标志是何含义？

A. 观景台
B. 停车场
C. 休息区
D. 加油站

答案：A

25. 这个标志是何含义？

A. 两侧通行

B. 右侧通行

C. 左侧通行

D. 不准通行

答案：B

26. 这个标志是何含义？

A. 高速公路终点地名预告

B. 高速公路行驶路线预告

C. 高速公路行驶方向预告

D. 高速公路地点距离预告

答案：D

27. 这个标志是何含义？

A. 高速公路里程编号

B. 高速公路界牌编号

C. 高速公路命名编号

D. 高速公路路段编号

答案：C

28. 这属于哪一类标志？

A. 指示标志

B. 禁令标志

C. 警告标志

D. 指路标志

答案：C

29. 这个标志是何含义？

A. 右侧变窄

B. 左侧变窄

C. 宽度变窄

D. 两侧变窄

答案：A

30. 这个标志是何含义？

A. 右侧变窄

B. 两侧变窄

C. 左侧变窄

D. 宽度变窄

答案：C

31. 这个标志是何含义？

A. 左侧变窄

B. 窄桥

C. 窄路

D. 右侧变窄

答案：B

32. 这个标志是何含义？

A. 停车让行

B. 不准临时停车

C. 不准车辆驶入

D. 不准长时间停车

答案：A

33. 这个标志是何含义？

A. 禁止直行和向左变道

B. 禁止直行和向左转弯

C. 允许直行和向左变道

D. 禁止直行和向右转弯

答案：B

34. 这个标志是何含义？

A. 禁止直行和向左变道

B. 禁止直行和向左转弯

C. 允许直行和向左变道
D. 禁止直行和向右转弯

答案：D

35. 这个标志是何含义？

A. 禁止长时鸣喇叭
B. 断续鸣喇叭
C. 减速鸣喇叭
D. 禁止鸣喇叭

答案：D

36. 这个标志是何含义？

A. 前方 40 米减速
B. 最低车速 40 公里 / 小时
C. 限制 40 吨轴重
D. 限制最高车速 40 公里 / 小时

答案：D

37. 这个标志是何含义？

A. 向右转弯
B. 单行路
C. 只准直行
D. 直行车道

答案：A

38. 这个标志是何含义？

A. 直行和向右转弯
B. 直行和向左转弯
C. 禁止直行和向左转弯
D. 只准向右和向左转弯

答案：B

39. 这个标志是何含义？

A. 右侧是下坡路段
B. 靠右侧道路行驶
C. 靠道路右侧停车
D. 只准向右转弯

答案：B

40. 这个标志是何含义？

A. 立体交叉直行和左转弯行驶
B. 立体交叉直行和右转弯行驶
C. 直行和左转弯行驶
D. 直行和右转弯行驶

答案：A

41. 这个标志是何含义？

A. 直行和左转弯行驶
B. 直行和右转弯行驶
C. 立体交叉直行和右转弯行驶
D. 立体交叉直行和左转弯行驶

答案：C

42. 这个标志是何含义？

A. 右侧通行
B. 左侧通行
C. 向右行驶
D. 环岛行驶

答案：D

43. 机动车仪表板上如图所示的指示灯亮表示什么？

A. 防抱死制动系统故障
B. 驻车制动器处于解除状态
C. 行车制动系统故障
D. 安全气囊处于故障状态

答案：A

44. 发动机起动后仪表板上如图所示的指示灯亮表示什么？

A. 发动机主油道堵塞
B. 发动机机油压力过低
C. 发动机曲轴箱漏气

D. 发动机机油压力过高

答案：B

45. 机动车仪表板上如图所示的指示灯亮表示什么？

A. 防抱死制动系统出现故障

B. 驻车制动器处于解除状态

C. 行车制动系统出现故障

D. 驻车制动器处于制动状态

答案：D

46. 驾驶机动车在道路上向左变更车道时如何使用灯光？

A. 提前开启右转向灯

B. 不用开启转向灯

C. 提前开启左转向灯

D. 提前开启近光灯

答案：C

解析：车辆起步、准备超车、向左变更车道、左转弯、掉头时，应当提前开启左转向灯。

47. 驾驶机动车在道路上靠路边停车过程中如何使用灯光？

A. 开启危险报警闪光灯

B. 提前开启右转向灯

C. 变换使用远近光灯

D. 不用指示灯提示

答案：B

解析：右转弯、向右变更车道、超车完毕驶回原车道、靠边停车时，开启右转向灯。

48. 在这种天气条件下行车如何使用灯光？

A. 使用远光灯

B. 使用雾灯

C. 不使用灯光

D. 开启右转向灯

答案：B

49. 在这种雨天跟车行驶如何使用灯光？

A. 使用远光灯

B. 不能使用远光灯

C. 不能使用近光灯

D. 使用雾灯

答案：B

解析：可以使用近光灯。如果使用远光灯，前面的车离开这个车道，那么如果对面有车来，就很可能要相撞，灯光来不及调，离前车这么近使用远光灯会让前车视线受阻。

50. 在这种环境下通过路口如何使用灯光？



A. 关闭远光灯

B. 使用危险报警闪光灯

C. 交替使用远近光灯

D. 使用远光灯

答案：C

解析：夜间通过人行横道时应距路口 100 米减速慢行，并交替使用远、近光灯示意。同时应注意提防黑暗中的非机动车和行人，降低车速，谨慎驾驶车辆。

51. 在这种路段如何行驶？

A. 占对方道路转弯

B. 在弯道中心转弯

C. 加速鸣喇叭通过

D. 减速鸣喇叭示意

答案：D

解析：临近弯道时，要减速，交替使用远、近光灯，甚至鸣喇叭慢行。时机选择要适当，应做到一次性转弯，避免因转向不当造成不能一次转过，而需倒一次车后再转弯，增加危险性。

52. 下列哪种行为会受到 200 元以上 2000 元以下罚款，并处吊销机动车驾驶证？

A. 违反道路通行规定

B. 超过规定车速 50%

C. 造成交通事故后逃逸

D. 驾车没带驾驶证

答案：B

解析：有下列行为之一的，由公安交通管理部门处 200 元以上 2000 元以下罚款。（1）未取得机动车驾驶证、机动车驾驶证被吊销或者机动车驾驶证被暂扣期间驾驶机动车的。（2）将机动车交由未取得机动车驾驶证或者机动车驾驶证被吊销、暂扣的人驾驶的。（3）造成交通事故后逃逸，尚不构成犯罪的。（4）机动车行驶超过规定时速 50% 的。（5）强迫机动车驾驶人违反道路交通安全法律、法规和机动车安全驾驶要求驾驶机动车，造成道路交通事故，尚不构成犯罪的。（6）违反交通管制的规定强行通行，不听劝阻的。（7）故意损毁、移动、涂改交通设施，造成危害后果，尚不构成犯罪的。（8）非法拦截、扣留机动车辆，不听劝阻，造成交通严重阻塞或者较大财产损失的。

53. 在这条高速公路上行驶时的最高速度不能超过多少？

A. 110 公里 / 小时

B. 120 公里 / 小时

C. 90 公里 / 小时

D. 100 公里 / 小时

答案：A

54. 在这段城市道路上行驶的最高速度不能超过多少？



A. 40 公里 / 小时

B. 30 公里 / 小时

C. 50 公里 / 小时

D. 70 公里 / 小时

答案：B

解析：城市中，在没有限速标志、标线和道路中心线的道路上行驶，最高速度为 30 公里 / 小时。

55. 在这条公路上行驶的最高速度不能超过多少？

A. 70 公里 / 小时

B. 50 公里 / 小时

C. 40 公里 / 小时

D. 30 公里 / 小时

答案：C

解析：乡村中，在没有限速标志、标线和道路中心线的公路上行驶，最高速度为 40 公里 / 小时。

56. 在这条城市道路上行驶的最高速度不能超过多少？

A. 30 公里 / 小时

B. 40 公里 / 小时

C. 50 公里 / 小时

D. 70 公里 / 小时

答案：C

解析：城市中，在没有限速标志、标线，且同方向只有一条机动车道的道路上行驶时，最高速度为 50 公里 / 小时。

57. 在这条公路上行驶的最高速度不能超过多少？

A. 30 公里 / 小时

B. 40 公里 / 小时

C. 50 公里 / 小时

D. 70 公里 / 小时

答案：D

解析：乡村中，在没有限速标志、标线，且同方向只有一条机动车道的公路上行驶时，最高速度为 70 公里 / 小时。

58. 在这个弯道上行驶时的最高速度不能超过多少？

A. 40 公里 / 小时

B. 30 公里 / 小时

C. 50 公里 / 小时

D. 70 公里 / 小时

答案：B

解析：驾驶机动车进出非机动车道，通过铁路道口、急弯路、窄路、窄桥、冰雪和泥泞道路，以及掉头、转弯、下陡坡时，最高速度不得超过 30 公里 / 小时。

59. 驾驶机动车遇到沙尘、冰雹、雨、雾、结冰等气象条件如何行驶？

A. 按平常速度行驶

B. 保持匀速行驶

C. 适当提高车速

D. 降低行驶速度

答案：D

解析：在雾、雨、雪、沙尘、冰雹和结冰天气中行驶，降低车速，能见度低于 50 米时，最高速度不得超过 30 公里 / 小时。

60. 驾驶机动车遇雾、雨、雪等能见度在 50 米以内时，最高速度不能超过多少？

A. 70 公里 / 小时

B. 50 公里 / 小时

C. 40 公里 / 小时

D. 30 公里 / 小时

答案：D

解析：与第 59 题解析相同。

科目一考试模拟题（四）

一、判断题

1. 机动车仪表板上如图所示的指示灯亮，表示驻车制动器操纵杆可能没松到底。

解析：表示制动系统出现异常。

答案：7

2. 机动车仪表板上如图所示的指示灯亮时，提醒发动机冷却液可能不足。　答案：3

3. 机动车发生故障时，如图所示的指示灯闪烁。

答案：7

解析：如图所示的指示灯闪烁表示危险报警闪光灯开启。

4. 打开左转向灯开关，如图所示的指示灯亮起。

答案：7

解析：打开右转向灯开关，如图所示的指示灯亮起。

5. 机动车仪表板上如图所示的指示灯亮，提示发电机向蓄电池充电。

答案：7

解析：表示充电电路故障。

6. 变更车道时，应开启转向灯，迅速驶入侧方车道。　答案：7

解析：变更车道时不可在开启转向灯后，立即迅速转向驶入相应的行车道。

7. 机动车仪表板上如图所示的指示灯一直亮，表示发动机控制系统故障。

答案：3

8. 机动车仪表板上如图所示的指示灯亮表示启用地板及前风窗玻璃吹风。

答案：3

9. 机动车仪表板上如图所示的指示灯一直亮，表示安全气囊处于工作状态。

答案：7

解析：表示安全气囊处于故障状态。

10. 机动车仪表板上如图所示的指示灯表示车灯总开关。

答案：3

11. 机动车仪表板上如图所示的指示灯亮表示空气外循环。

答案：7

12. 这一组交通警察手势是左转弯待转信号。

答案：3

13. 路面上的黄色标记表示禁止转弯。

答案：7

解析：应该是禁止掉头的标记。

14. 路面上的白色标线是车行道横向减速标线。

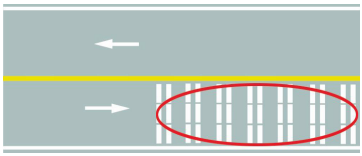

答案：3

15. 路面上的黄色填充标线是接近狭窄路面标线。



答案：7

解析：标记是接近障碍物标线。

16. 路面上的菱形块虚线是车行道纵向减速标线。

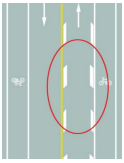

答案：3

17. 车辆上坡行驶，要提前观察路况、坡道长度，及时减挡使车辆保持充足的动力。 答案：3

18. 车辆下坡行驶，要适当控制车速，充分利用发动机进行制动。

答案：3

19. 车辆下长坡时要减挡行驶，以充分利用发动机的制动作用。 答案：3

20. 车辆在通过山区道路弯道时，要做到“减速、鸣喇叭、靠右行”。

答案：3

21. 车辆在山区道路行车下陡坡时，不得超车。

答案：3

22. 车辆在下坡行驶时，可充分利用空挡滑行。

答案：7

解析：驾驶机动车下坡行驶，要通过减挡控制车速，充分利用发动机进行制动，不得空挡滑行。下长坡时，车速会因为惯性而越来越快，连续使用行车制动，会使制动器温度升高而使制动效果急剧下降。控制车速最有效的方法是使用低速挡行驶，充分利用发动机制动。

23. 立交桥上一般都是单向行驶，车

辆不必减速行驶。　　答案：7

解析：立交桥上应减速行驶，按交通标志和交通标线的引导行驶。

24. 夜间行车，驾驶人的视野受限，很难观察到灯光照射区域以外的交通情况，因此要减速行驶。　答案：3

25. 夜间驾驶人对事物的观察能力明显比白天差，视距变短。　答案：3

26. 夜间起步前，应当先开启近光灯。　　答案：3

27. 已经达到报废标准的机动车经大修后可以上路行驶。　　答案：7

解析：严格遵守道路交通安全法规对车辆报废的规定，应当报废的机动车必须及时办理注销登记。达到报废标准的机动车不得上道路行驶。驾驶拼装车上路行驶处 200 元以上 2000 元以下罚款，并吊销机动车驾驶证。

28. 在图中所示的情况下可以借右侧公交车道超车。

答案：7

解析：右侧为仅限于公交车行驶之专用车道，其他车种及行人不得进入。

29. 在路口遇有交通信号灯和交通警察指挥不一致时，按照交通信号灯通行。　　答案：7

解析：在路口遇有交通信号灯和交通警察指挥不一致时，按照交通警察指挥通行。

30. 在这种情况下可加速通过交叉路口。

答案：7

解析：黄灯亮时，已越过停止线的车辆可以继续通行，没有越过停止线的车辆不得进入路口，更不能加速抢行通过路口。

31. 驾驶机动车能进入红色叉形灯或者红色箭头灯亮的车道。　　答案：7

解析：车道信号灯含义为红色叉形灯或者箭头灯亮时，禁止本车道车辆通行。

32. 在这段路的最高车速为 50 公里 / 小时。

答案：7

解析：在这段路的最低车速为 50 公里 / 小时。

33. 这辆红色轿车变更车道的方法和路线是正确的。

答案：7

解析：驾驶车辆在道路上变更车道，不得影响车道内行驶的车辆、行人的正常通行。（1）让所借道内

行驶的车辆或者行人先行。（2）按顺序依次行驶，不得频繁变更机动车道。（3）在道路同方向划有两条以上机动车车道的，不得一次连续变更两条以上机动车道。（4）左右两侧车道的车辆向同一车道变更时，左侧的车辆让右侧车道的车辆先行。

34. 驾驶机动车在道路上超车时可以不使用转向灯。　　答案：7

解析：超车时，提前打左转向灯，变换使用远、近光灯或者鸣喇叭提示前车，在确保安全距离的情况下，迅速从左侧超车。超越前车之后，在保持安全距离的情况下，打右转向灯，驶回原车道，完成超车。

35. 驾驶机动车在道路上向右变更车道可以不使用转向灯。　　答案：7

解析：右转弯、向右变更车道、超车完毕驶回原车道、靠边停车时，开启右转向灯。

36. 驾驶机动车在沙尘天气条件下行车不用开启前照灯、示廓灯和后位灯。　　答案：7

解析：行车中如突遇沙尘暴，造成尘土飞扬，空气浑浊，能见度降低，应及时开启示廓灯、雾灯，不间断鸣喇叭。

37. 在图中所示的环境里行车使用远、近光灯。

答案：3

38. 驾驶机动车在雾天行车开启雾灯和危险报警闪光灯。　　答案：3

39. 在图中所示的急弯道路上行车应交替使用远、近光灯。

答案：3

40. 夜间驾驶机动车通过人行横道时需要交替使用远、近光灯。

答案：3

二、选择题

1. 发动机起动后仪表板上如图所示的指示灯亮表示什么？

A. 燃油泵出现异常或者故障

B. 发动机点火系统出现故障

C. 发动机供油系统出现异常

D. 油箱内燃油已到最低液面

答案：D

2. 行车中仪表板上如图所示的指示灯亮表示什么？

A. 发动机温度过高

B. 发动机冷却系故障

C. 发动机润滑系故障

D. 发动机温度过低

答案：A

3. 机动车仪表板上如图所示的指示灯亮时表示什么？

A. 已开启前雾灯

B. 已开启前照灯近光

C. 已开启前照灯远光

D. 已开启后雾灯

答案：C

4. 机动车仪表板上如图所示的指示灯亮时表示什么？

A. 已开启后雾灯
B. 已开启前照灯近光
C. 已开启前照灯远光
D. 已开启前雾灯

答案：B

5. 机动车仪表板上如图所示的指示灯亮表示什么？

A. 没有系好安全带
B. 安全带出现故障
C. 安全带系得过松
D. 已经系好安全带

答案：A

6. 这个标志是何含义？

A. 注意行人
B. 注意儿童
C. 学校区域
D. 人行横道

答案：A

7. 这个标志是何含义？

A. 学校区域
B. 注意儿童
C. 人行横道
D. 注意行人

答案：B

8. 这个标志是何含义？

A. 路面不平
B. 路面低洼
C. 路面高突
D. 有驼峰桥

答案：A

9. 这个标志是何含义？

A. 泥泞道路
B. 低洼路面
C. 过水路面
D. 渡口

答案：C

10. 这个标志是何含义？

A. 有人看守铁路道口
B. 多股铁路与道路相交
C. 立交式的铁路道口
D. 无人看守铁路道口

答案：A

11. 这个标志是何含义？

A. 注意长时鸣喇叭
B. 无人看守铁路道口
C. 有人看守铁路道口
D. 多股铁路与道路相交

答案：B

12. 这个标志是何含义？

A. 有人看守铁路道口
B. 无人看守铁路道口
C. 多股铁路与道路相交
D. 注意避让火车

答案：C

13. 这个标志是何含义？

A. 距无人看守铁路道口 100 米
B. 距有人看守铁路道口 100 米
C. 距无人看守铁路道口 50 米

D. 距有人看守铁路道口 50 米

答案：C

14. 这个标志是何含义？

A. 非机动车道

B. 避让非机动车

C. 禁止非机动车通行

D. 注意非机动车

答案：D

15. 这个标志是何含义？

A. 不准让行

B. 会车让行

C. 减速让行

D. 停车让行

答案：C

16. 这个标志是何含义？

A. 会车时停车让右侧车先行

B. 右侧道路禁止车通行

C. 前方是双向通行路段

D. 会车时停车让对方车先行

答案：D

17. 这个标志是何含义？

A. 禁止变道

B. 禁止左转

C. 禁止直行

D. 禁止掉头

答案：D

18. 这个标志是何含义？

A. 禁止借道

B. 禁止变道

C. 禁止超车

D. 禁止掉头

答案：C

19. 这个标志是何含义？

A. 向左单行路

B. 向右单行路

C. 直行单行路

D. 右转让行

答案：B

20. 这个标志是何含义？

A. 最低限速 50 公里 / 小时

B. 最高限速 50 公里 / 小时

C. 水平高度 50 米

D. 海拔 50 米

答案：A

21. 这个标志是何含义？

A. 两侧街道

B. 干路先行

C. 停车让行

D. 单行路

答案：B

22. 这个标志是何含义？

A. 停车让行

B. 单行路

C. 会车先行

D. 对向先行

答案：C

23. 这个标志是何含义？

A. 丁字交叉路口预告

B. 道路分叉处预告

C. Y 形交叉路口预告

D. 十字交叉路口预告

答案：A

24. 这个标志是何含义？

A. 应急避难场所
B. 生活服务区
C. 行人专用通道
D. 横过道路设施

答案：A

25. 这个标志是何含义？

A. 十字交叉路口预告
B. 互通式立体交叉预告
C. Y 形交叉路口预告
D. 环行交叉路口预告

答案：B

26. 这个标志是何含义？

A. 休息区
B. 服务区
C. 停车场
D. 观景台

答案：A

27. 这个标志是何含义？

A. 禁止左转
B. 此路不通
C. 禁止通行
D. 超高绕行

答案：D

28. 这个标志是何含义？

A. T 形路口
B. 分流路口
C. 减速通行
D. 此路不通

答案：D

29. 这个标志是何含义？

A. 车道数变少
B. 合流处
C. 应急车道
D. 向左变道

答案：A

30. 这个标志是何含义？

A. 高速公路左侧出口预告
B. 高速公路目的地预告
C. 高速公路右侧出口预告
D. 高速公路下一出口预告

答案：D

31. 这个标志是何含义？

A. 高速公路右侧出口预告
B. 高速公路目的地预告
C. 高速公路左侧出口预告
D. 高速公路下一出口预告

答案：A

32. 这个标志是何含义？

A. 高速公路下一出口预告
B. 高速公路右侧出口预告
C. 高速公路左侧出口预告
D. 高速公路目的地预告

答案：C

33. 这个标志是何含义？

A. 高速公路出口
B. 高速公路起点
C. 高速公路入口
D. 高速公路终点

答案：B

34. 这个标志是何含义？

A. 高速公路报警电话
B. 高速公路公用电话
C. 高速公路紧急电话
D. 高速公路救援电话

答案：D

35. 这个标志是何含义？

A. 高速公路紧急停车带
B. 高速公路避让处所
C. 高速公路客车站
D. 高速公路停车区

答案：A

36. 这个标志是何含义？

A. 高速公路客车站
B. 高速公路休息区
C. 高速公路加油站
D. 高速公路服务区

答案：C

37. 图中圈内的白色折线是什么标线？

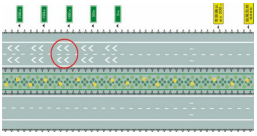

A. 车距确认线
B. 减速行驶线
C. 车速确认线
D. 路口减速线

答案：A

38. 图中圈内的白色半圆状标记是什么标线？

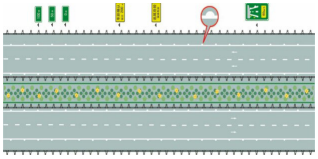

A. 减速行驶线　B. 车速确认线
C. 路口减速线　D. 车距确认线

答案：D

39. 路面由白色虚线和三角地带标线组成的是什么标线？

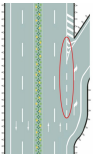

A. 道路入口标线
B. 可跨越式分道线
C. 道路出口减速线
D. 道路出口标线

答案：D

40. 路面上白色虚线和三角地带标线组成的是什么标线？

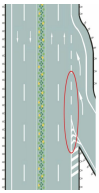

A. 道路入口标线
B. 可跨越式分道线
C. 道路入口减速线
D. 道路出口标线

答案：A

41. 这个标志是何含义？

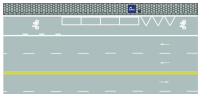

A. 出租车专用上下客停车位
B. 平行式停车位
C. 倾斜式停车位
D. 垂直式停车位

答案：B

42. 这种停车标线含义是什么？

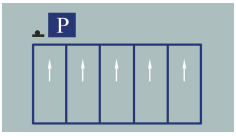

A. 专用待客停车位
B. 专用上下客停车位
C. 机动车限时停车位
D. 固定停车方向停车位

答案：D

43. 这种白色矩形标线框含义是什么？

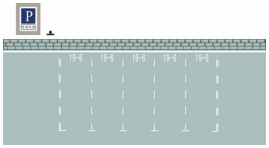

A. 长时停车位　B. 限时停车位
C. 免费停车位　D. 专用停车位

答案：B

44. 红色圆圈内的标线含义是什么？

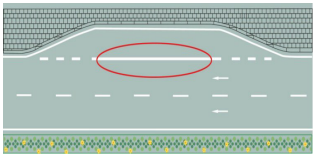

A. 临时停靠站　B. 港湾式停靠站
C. 应急停车带　D. 公交车停靠站

答案：B

45. 红色圆圈内的标线含义是什么？

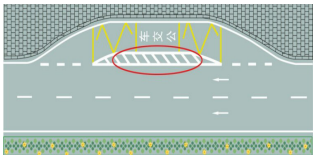

A. 临时停靠站
B. 大客车停靠站
C. 公交车停靠站
D. 应急停车带

答案：C

46. 夜间车辆通过照明条件良好的路段时，应使用什么灯？

A. 危险报警闪光灯　B. 远光灯
C. 近光灯　D. 雾灯

答案：C

解析：夜间驾驶机动车起步、在照明条件良好的路段行驶，使用近光灯。

47. 夜间行车中，前方出现弯道时，灯光照射会发生怎样的变化？

A. 离开路面　B. 由路中移到路侧
C. 距离不变　D. 由高变低

答案：B

解析：发现灯光照射由路中移到路侧，表明前方出现一段弯道。若进入连续弯道，灯光则随之从道路的一侧移到另一侧。

48. 车辆在较窄的山路上行驶时，如果靠山体的一方不让行，应怎样做？

A. 鸣喇叭催其让行
B. 保持正常车速行驶
C. 提前减速或停车避让
D. 向左占道，谨慎驶过

答案：C

解析：车辆在较窄的山路上行驶时，如果靠山体的一方不让行，应提前减速或停车避让。

49. 车辆行至交叉路口，遇有转弯的

车辆抢行，应怎样做？

A. 提高车速抢先通过

B. 鸣喇叭抢先通过

C. 停车避让

D. 保持正常车速行驶

答案：C

解析：车辆在交叉路口有优先通行权的，遇有车辆抢行时，应减速避让，必要时停车让行。

50. 雨天行车，遇撑雨伞和穿雨衣的行人在公路上行走时，应怎样做？

A. 持续鸣喇叭示意其让道

B. 加速绕行

C. 提前鸣喇叭，并适当降低车速

D. 以正常速度行驶

答案：C

解析：雨天看到行人和骑车者时，要提前减速、鸣喇叭，与其保持一定的安全距离通过，预防车辆临近时，行人或骑车者突然转向或滑倒。严禁争道抢行或从行人身边急速绕过。

51. 车辆驶近停在车站的公交车辆时，为预防公交车突然起步或行人从车前穿出，应怎样做？

A. 减速，保持足够间距，随时准备停车

B. 保持正常车速行驶

C. 鸣喇叭提醒，加速通过

D. 随时准备紧急制动

答案：A

解析：通过公交车站时，应减速行驶，保持足够的间距，随时准备停车，仔细观察周围的动态。

52. 驾驶人行车中看到注意儿童标志的时候，应怎样做？

A. 加速行驶

B. 绕道行驶

C. 保持正常车速行驶

D. 谨慎选择行车速度

答案：D

解析：驾驶机动车行至学校附近或有注意儿童标志的路段时，一定要及时减速，注意观察道路两侧及周围的情况，时刻提防学生横过道路。

53. 车辆在雪天临时停车时，应开启什么灯？

A. 前后雾灯

B. 倒车灯

C. 前照灯（大灯）远光

D. 危险报警闪光灯

答案：D

解析：机动车在雨天、雪天、雾天或夜间临时停车时，除了按照上述要求按顺行方向靠道路两侧停放外，还应及时开启危险报警闪光灯、示廓灯、后位灯。

54. 车辆在雨天临时停车时，应开启什么灯？

A. 前后雾灯

B. 危险报警闪光灯

C. 前照灯（大灯）远光

D. 倒车灯

答案：B

解析：机动车在雨天、雪天、雾天或夜间临时停车时，除了按照上述要求按顺行方向靠道路两侧停放外，还应及时开启危险报警闪光灯、示廓灯、后位灯。

55. 机动车在路边临时停车时，应怎

样做？

A. 不得逆向或并列停放

B. 只要出去方便，可随意停放

C. 可逆向停放

D. 可并列停放

答案：A

解析：机动车应当在规定地点停放。在道路上临时停车的，不得妨碍其他车辆和行人通行。逆向停车和并列停放都会妨碍其他车辆和行人通行。

56. 机动车在道路上变更车道需要注意什么？

A. 开启转向灯迅速向左转向

B. 进入左侧车道时适当减速

C. 不能影响其他车辆正常行驶

D. 尽快加速进入左侧车道

答案：C

解析：变更车道的机动车不得影响相关车道内行驶的机动车的正常行驶。变更车道不宜过缓，长距离轧线行驶会影响其他车辆，一般应在 50 ～ 60 米的距离内完成变更车道。

57. 驾驶机动车在进出非机动车道时，最高速度不能超过多少？

A. 40 公里 / 小时

B. 50 公里 / 小时

C. 60 公里 / 小时

D. 30 公里 / 小时

答案：D

解析：驾驶机动车进出非机动车道，通过铁路道口、急弯路、窄路、窄桥、冰雪和泥泞道路，以及掉头、转弯、下陡坡时，最高速度不得超过 30 公里 / 小时。

58. 这两辆车发生追尾的主要原因是什么？

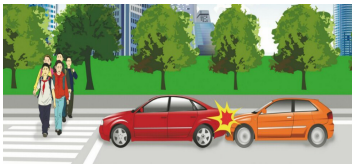

A. 前车采取制动时没看后视镜

B. 前车采取制动过急

C. 后车超车时距离前车太近

D. 后车未与前车保持安全距离

答案：D

59. 驾驶机动车在下列哪种情形下不能超越前车？

A. 前车减速让行

B. 前车正在左转弯

C. 前车靠边停车

D. 前车正在右转弯

答案：B

解析：因为要从左侧超车，如果前车左转则会发生碰撞，所以前车正在左转弯的时候不能超车。

60. 在没有中心线的道路上发现后车发出超车信号时，如果条件许可如何行驶？

A. 保持原状态行驶

B. 加速行驶

C. 降速靠右让路

D. 迅速停车让行

答案：C

解析：在没有道路中心线，或者同方向只有一条机动车道的道路上，遇后车发出超车信号时，在道路条件许可的情况下，降低速度，靠右让路。

科目一考试模拟题（五）

一、判断题

1. 驾驶机动车上坡时，在将要到达坡道顶端时要加速并鸣喇叭。

答案：7

解析：在上坡应提前加速，交替使用远近光灯，快到坡顶时，要合理控制速度，不能加速，将远光灯关闭，只用近光灯，鸣喇叭。

2. 伪造、变造机动车驾驶证构成犯罪的将被依法追究刑事责任。

答案：3

3. 在路口这个位置时可以加速通过路口。

答案：7

4. 驾驶机动车在道路上超车完毕驶回原车道时开启右转向灯。 答案：3

5. 驾驶机动车在道路上掉头时提前开启左转向灯。 答案：3

6. 遇到这种情况可以优先通行。

答案：3

7. 未上坡的车辆遇到这种情况让对向下坡车先行。

答案：3

8. 夜间驾驶机动车在窄路、窄桥会车时正确的做法是使用远光灯。

答案：7

解析：夜间在窄路、窄桥与非机动车交会时应使用近光灯。

9. 这个仪表是水温表（冷却液温度表）。

答案：7

解析：这个仪表是燃油表。

10. 仪表显示当前车速是 20 公里 / 小时。

答案：7

解析：这个是转速表，不是时速表。

11. 仪表显示当前发动机转速是 6000 转 / 分钟。

答案：7

解析：这是速度和里程表，表示当前汽车的行驶速度是 60 公里 / 小时。

12. 仪表显示当前冷却液的温度（水温）是 90 摄氏度。

答案：3

13. 仪表显示油箱内存油量已在警告线以内。

答案：3

14. 机动车仪表板上如图所示的指示灯亮表示发动机可能机油压力过高。

答案：7

解析：机动车仪表板上如图所示的指示灯亮表示发动机可能机油量不足。

15. 机动车仪表板上如图所示的指示灯亮，表示行车制动系统可能出现故障。

答案：3

16. 机动车仪表板上如图所示的指示灯亮时提醒驾驶人发动机需要加注机油。

答案：7

解析：机动车仪表板上如图所示的指示灯亮时，提醒发动机冷却液可能不足。

17. 开启前照灯远光时仪表板上如图所示的指示灯亮起。　答案：7

解析：开启前照灯近光时仪表板上如图所示的指示灯亮起。

18. 开启前照灯近光时仪表板上如图所示的指示灯亮起。　答案：7

解析：开启前照灯远光时仪表板上如图所示的指示灯亮起。

19. 机动车仪表板上如图所示的指示灯亮时，提醒驾驶人座椅没调整好。

答案：7

解析：机动车仪表板上如图所示的指示灯亮时，提醒驾驶人没有系好安全带。

20. 机动车仪表板上如图所示的指示灯亮，提示行李箱开启。　答案：7

解析：机动车仪表板上如图所示的指示灯亮，提示发动机舱开启。

21. 驾驶机动车通过铁路道口时，最高速度不能超过 40 公里 / 小时。

答案：7

解析：驾驶机动车进出非机动车道，通过铁路道口、急弯路、窄路、窄桥、冰雪和泥泞道路，以及掉头、转弯、下陡坡时，最高速度不得超过 30 公里 / 小时。

22. 驾驶机动车通过窄路、窄桥时，最高速度不能超过 50 公里 / 小时。

答案：7

解析：驾驶机动车通过窄路、窄桥时，最高速度不能超过 30 公里 / 小时。

23. 驾驶机动车下陡坡、转弯、掉头时，最高速度不能超过 60 公里 / 小时。 答案：7

解析：驾驶机动车进出非机动车道，通过铁路道口、急弯路、窄路、窄桥、冰雪和泥泞道路，以及掉头、转弯、下陡坡时，最高速度不得超过 30 公里 / 小时。

24. 驾驶机动车在冰雪道路行驶时，最高速度不能超过 30 公里 / 小时。 答案：3

25. 驾驶机动车在泥泞道路行驶时，最高速度不能超过 40 公里 / 小时。 答案：7

解析：驾驶机动车进出非机动车道，通过铁路道口、急弯路、窄路、窄桥、冰雪和泥泞道路，以及掉头、转弯、下陡坡时，最高速度不得超过 30 公里 / 小时。

26. 驾驶机动车上道路行驶，不允许超过限速标志标明的最高车速。 答案：3

27. 遇到这种情况不能超车。

答案：3

28. 驾驶机动车超车应该提前开启左转向灯、变换使用远近光灯或鸣喇叭。 答案：3

29. 在道路上遇到这种情况可以从两侧超车。

答案：7

解析：同车道前方有执行紧急任务的警车、消防车、救护车、工程抢险车时不得超车。

30. 驾驶机动车超车后立即开启右转向灯驶回原车道。 答案：7

解析：超车后，在不影响被超车辆正常行驶的前提下，开右转向灯，缓慢转动转向盘驶回原车道，随即关闭转向灯。

31. 在这种情况下可以加速超车。

答案：7

解析：驾驶机动车看到人行横道前有停止的车辆时，一定要停车，不要盲目通过，前车可能是停车避让行人。不要在人行横道及附近直行超车和变向超车，尤其要提防有些行动缓慢的人可能还滞留在人行横道上。

32. 遇到这种情况可以从右侧超车。

答案：7

解析：超车只能从左侧超车。任何情况下都不能从右侧超车。

33. 驾驶机动车通过交叉路口要遵守

交通信号。　　答案：3

34. 在这种情况的铁路道口要加速通过。

答案：7

35. 在交叉路口遇到这种情况享有优先通行权。

答案：3

36. 驾驶机动车在没有交通信号的路口遇到前方车辆缓慢行驶时要依次交替通行。

答案：3

37. 遇到这种情况时，要加速从红车前变更车道。

答案：7

解析：驾驶车辆在道路上变更车道，不得影响车道内行驶的车辆、行人的正常通行。（1）让所借道内行驶的车辆或者行人先行。（2）按顺序依次行驶，不得频繁变更机动车道。（3）在道路同方向划有两条以上机动车车道的，不得一次连续变更两条以上机动车道。（4）左右两侧车道的车辆向同一车道变更时，左侧的车辆让右侧车道的车辆先行。图中这种情况下变更车道，会影响车道内正在行驶的红车的正常通行。

38. 这辆小轿车不能在这个位置停车。

答案：3

39. 驾驶机动车通过漫水路时要加速行驶。　　答案：7

解析：驾驶机动车遇到漫水桥时要查明水情确认安全后再低速通过。

40. 夜间行车，驾驶人视距变短，影响观察，同时注意力高度集中，易产生疲劳。　　答案：3

二、选择题

1. 会车中遇到对方来车行进有困难需借道时，应怎样做？

A. 靠右侧加速行驶

B. 尽量礼让对方先行

C. 不侵占对方道路，正常行驶

D. 示意对方停车让行

答案：B

2. 行车中遇到后方车辆要求超车时，应怎样做？

A. 保持原有车速行驶

B. 及时减速、观察后靠右行驶让行

C. 靠右侧加速行驶

D. 不让行

答案：B

解析：行车中，发现后方来车要求超车时，如果前方的道路和交通情况具备让车条件，应及时开启右转向灯，选择合适路段靠右侧行驶让行，必要时用手势示意。

3. 驾驶人在超车时，前方车辆不减速、不让道，应怎样做？

A. 紧跟其后，伺机再超

B. 停止继续超车

C. 加速继续超越

D. 连续鸣喇叭加速超越

答案：B

4. 驾驶人在行车中经过积水路面时，应怎样做？

A. 保持正常车速通过

B. 低挡加速通过

C. 特别注意减速慢行

D. 迅速加速通过

答案：C

解析：在雨天经过积水路面时，一定要减速行驶，行经两侧有行人和非机动车且有积水的路面，要减速慢行。

5. 发现前方道路堵塞，正确的做法是什么？

A. 按顺序停车等候

B. 鸣喇叭示意前方车辆快速行驶

C. 选择时机逐车超越

D. 继续穿插绕行

答案：A

6. 这种情况超车时，从前车的哪一侧超越？

A. 左右两侧均可超越

B. 从前车的右侧超越

C. 从前车的左侧超越

D. 从无障碍一侧超越

答案：C

7. 同车道行驶的车辆遇前车有下列哪种情形时不得超车？

A. 减速让行　　B. 正常行驶

C. 正在超车　　D. 正在停车

答案：C

解析：同车道行驶的机动车，后车应当与前车保持足以采取紧急制动措施的安全距离。有下列情形之一的，不得超车：①前车正在左转弯、掉头、超车的；②与对面来车有会车可能的；③前车为执行紧急任务的警车、消防车、救护车、工程救险车的；④行经铁路道口、交叉路口、窄桥、弯道、陡坡、隧道、人行横道、市区交通流量大的路段等没有超车条件的。

8. 同车道行驶的车辆遇前车有下列哪种情形时不得超车？

A. 正在停车　　B. 减速让行

C. 正在掉头　　D. 正常行驶

答案：C

9. 驾驶机动车在夜间超车时怎样使用灯光？

A. 关闭前照灯

B. 开启远光灯

C. 开启雾灯

D. 变换远、近光灯

答案：D

解析：夜间行车，要尽量避免超车，确需超车时，要连续变换远、

近光灯向前示意，在确认前车让速让路后，方可超越。

10. 遇到这种情形怎样行驶？

A. 停车让对方车辆通过

B. 开启左转向灯向左行驶

C. 开启前照灯告知对方让行

D. 加速超越障碍后会车

答案：A

解析：若遇前方有障碍物，对向来车已接近障碍物时，应及时降低速度靠边行驶或停车，让对向来车优先行驶。不得加速优先通过或鸣喇叭示意对方来车让道，更不得迅速占用车道。应会车后再超越障碍。

11. 驾驶机动车在没有道路中心线的狭窄山路怎样会车？

A. 不靠山体的一方先行

B. 靠山体的一方先行

C. 重车让空车先行

D. 速度慢的先行

答案：A

解析：在没有道路中心线的狭窄山路会车，不靠山体的一方先行。

12. 夜间在道路上会车时，距离对向来车多远将远光灯改用近光灯？

A. 100 米以内　　B. 50 米以内

C. 200 米以外　　D. 150 米以外

答案：D

解析：夜晚会车，两车相向而行，车距在 150 米之外时改为近光灯；窄路、窄桥与非机动车会车时，使用近光灯。

13. 驾驶机动车在没有中心线的道路上遇相对方向来车时怎样行驶？

A. 紧靠路边行驶

B. 靠路中心行驶

C. 减速靠右行驶

D. 借非机动车道行驶

答案：C

解析：在没有中心隔离设施或者没有中心线的道路上行驶，遇对面来车时，本车减速靠右行驶，同时注意自己的右侧，与非机动车辆和行人保持安全距离。

14. 夜间驾驶机动车在窄路、窄桥会车时怎样使用灯光？

A. 关闭所有灯光　B. 开启近光灯

C. 关闭前照灯　　D. 开启远光灯

答案：B

解析：夜间在窄路、窄桥与非机动车交会时应使用近光灯。

15. 如何通过这种交叉路口？

A. 保持速度通过　B. 鸣喇叭催促

C. 减速慢行　　D. 加速通过

答案：C

解析：通过没有交通信号灯控制也没有交通警察指挥的交叉路口，应当减速慢行，并让行人和优先通行的车辆先行。

16. 怎样通过这样的路口？

A. 不减速通过
B. 加速尽快通过
C. 减速或停车观察
D. 紧随前车通过

答案：C

解析：驾驶车辆进入铁路道口前减速降挡，通过路口时，应用低速挡安全通过，中途不得换挡，以避免发动机熄火影响车辆通行或滞留在路口内。

17. 在这个路口左转弯选择哪条车道？

A. 最左侧车道　B. 中间车道
C. 不用变道　D. 最右侧车道

答案：A

18. 车辆在拥挤路段低速行驶时，遇其他车辆强行插队，应怎样做？

A. 鸣喇叭警告，不得进入
B. 加速行驶，紧跟前车，不让其进入
C. 挤靠“加塞”车辆，逼其离开
D. 主动礼让，确保行车安全

答案：D

19. 行车中需要借道绕过前方障碍物，但对向来车已接近障碍物时，应怎样做？

A. 加速提前抢过
B. 鸣喇叭示意对向车辆让道
C. 迅速占用车道，迫使对向来车停车让道
D. 降低速度或停车，让对向来车优先通行

答案：D

20. 驾驶车辆在交叉路口前变更车道时，应怎样驶入要变更的车道？

A. 在路口前实线区内根据需要
B. 进入路口实线区内
C. 在路口停止线前
D 在虚线区按导向箭头指示

答案：D

21. 这个标志是何含义？

A. 距有人看守铁路道口 50 米
B. 距无人看守铁路道口 100 米
C. 距有人看守铁路道口 100 米
D. 距无人看守铁路道口 50 米

答案：B

22. 这个标志是何含义？

A. 距无人看守铁路道口 150 米
B. 距无人看守铁路道口 100 米
C. 距有人看守铁路道口 100 米
D. 距有人看守铁路道口 150 米

答案：A

23. 这个标志是何含义？

A. 残疾人出入口
B. 注意残疾人
C. 残疾人休息处
D. 残疾人专用通道

答案：B

24. 这个标志是何含义？

A. 事故易发路段
B. 施工路段
C. 减速慢行路段
D. 拥堵路段

答案：A

25. 这个标志是何含义？

A. 车多路段
B. 慢行
C. 拥堵路段
D. 施工路段

答案：B

26. 这个标志是何含义？

A. 施工路段绕行
B. 双向交通
C. 左右绕行
D. 注意危险

答案：C

27. 这个标志是何含义？

A. 注意危险
B. 右侧绕行
C. 左侧绕行
D. 单向通行

答案：C

28. 这个标志是何含义？

A. 减速慢行
B. 注意危险
C. 拥堵路段
D. 事故多发路段

答案：B

29. 这个标志是何含义？

A. 塌方路段
B. 施工路段
C. 前方工厂
D. 道路堵塞

答案：B

30. 这个标志是何含义？

A. 最高速度
B. 限制速度
C. 建议速度
D. 最低速度

答案：C

31. 这个标志是何含义？

A. 隧道减速
B. 隧道开远光灯
C. 隧道开灯
D. 隧道开示宽灯

答案：C

32. 这个标志是何含义？

A. 注意双向行驶
B. 靠两侧行驶
C. 注意潮汐车道
D. 可变车道

答案：C

33. 这个标志是何含义？

A. 两侧变窄路段
B. 车速测试路段
C. 车距确认路段
D. 注意保持车距

答案：D

34. 这个标志是何含义？

A. 平面交叉路口
B. 环行平面交叉
C. 注意交互式道路

D. 注意分离式道路

答案：D

35. 这个标志是何含义？

A. Y 形交叉口

B. 主路让行

C. 注意分流

D. 注意合流

答案：D

36. 这个标志是何含义？

A. 避险车道

B. 应急车道

C. 路肩

D. 急弯道

答案：A

37. 这个标志是何含义？

A. 限制宽度为 3.5 米

B. 解除 3.5 米限高

C. 限制车距为 3.5 米

D. 限制高度为 3.5 米

答案：D

38. 这个标志是何含义？

A. 右转车道

B. 掉头车道

C. 左转车道

D. 分向车道

答案：A

39. 这个标志是何含义？

A. 右转车道

B. 掉头车道

C. 左转车道

D. 分向车道

答案：C

40. 这个标志是何含义？

A. 右转车道

B. 掉头车道

C. 左转车道

D. 直行车道

答案：D

41. 这个标志是何含义？

A. 掉头车道

B. 绕行车道

C. 分向车道

D. 左转车道

答案：A

42. 这个标志是何含义？

A. 分向行驶车道

B. 掉头和左转合用车道

C. 禁止左转和掉头车道

D. 直行和左转合用车道

答案：B

43. 这个标志是何含义？

A. 左转行驶车道

B. 直线行驶车道

C. 右转行驶车道

D. 分向行驶车道

答案：D

44. 这个标志是何含义？

A. 大型客车专用车道

B. 公交线路专用车道

C. 快速公交系统专用车道

D. 多乘员车辆专用车道

答案：B

45. 这个标志是何含义？

A. 不准小型车通行
B. 只准小型车行驶
C. 机动车行驶
D. 禁止小型车行驶

答案：C

46. 这个标志是何含义？

A. 小型车车道
B. 小型车专用车道
C. 多乘员车辆专用车道
D. 机动车车道

答案：D

47. 这个标志是何含义？

A. 电动自行车行驶
B. 非机动车停车位
C. 非机动车停放区
D. 非机动车行驶

答案：D

48. 这个标志是何含义？

A. 禁止自行车通行车道
B. 非机动车车道
C. 自行车专用车道
D. 停放自行车路段

答案：B

49. 这个标志是何含义？

A. 大型客车专用车道
B. 多乘员车专用车道
C. 公交车专用车道
D. BRT 车辆专用车道

答案：D

50. 这个标志是何含义？

A. 小型汽车专用车道
B. 机动车专用车道
C. 出租汽车专用车道
D. 多乘员车辆专用车道

答案：D

51. 这个标志是何含义？

A. 掉头
B. 倒车
C. 左转
D. 绕行

答案：A

52. 这个标志是何含义？

A. 高速公路出口预告
B. 高速公路入口预告
C. 高速公路终点预告
D. 高速公路起点预告

答案：C

53. 这个标志是何含义？

A. 高速公路客车站预告
B. 高速公路避险处预告
C. 高速公路服务区预告
D. 高速公路收费站预告

答案：C

54. 这个标志是何含义？

A. 高速公路停车区预告
B. 高速公路避险处预告
C. 高速公路停车场预告
D. 高速公路服务区预告

答案：A

55. 这个标志预告什么？

A. 高速公路服务区预告
B. 高速公路避险处预告
C. 高速公路客车站预告
D. 高速公路停车场预告

答案：D

56. 这个导向箭头是何含义？

A. 指示禁行
B. 指示车道
C. 指示合流
D. 指示直行

答案：D

57. 这个导向箭头是何含义？

A. 指示直行或掉头
B. 指示直行或左转弯
C. 指示直行或向左变道
D. 指示向左转弯或掉头

答案：B

58. 这个导向箭头是何含义？

A. 指示前方可左转或掉头
B. 指示前方可直行或左转
C. 指示前方直行或向左变道
D. 指示前方可直行或掉头

答案：D

59. 这个导向箭头是何含义？

A. 指示前方可直行或掉头
B. 指示前方可左转或掉头
C. 指示前方可直行或向左变道
D. 指示前方可直行或左转

答案：B

60. 这个导向箭头是何含义？

A. 提示前方有左弯或需向左合流
B. 提示前方有右弯或需向右合流
C. 提示前方右侧有障碍需向左合流
D. 提示前方有左弯或或许向左绕行

答案：A

科目一考试模拟题（六）

一、判断题

1. 冰雪道路行车，由于积雪对光线的反射，极易造成驾驶人目眩而产生错觉。 答案：3

2. 在泥泞路上制动时，车轮易发生侧滑或甩尾，导致交通事故。 答案：3

3. 夜间会车时，若对方车辆不关闭远光灯，可变换灯光提示对向车辆，同时减速靠右侧行驶或停车。

答案：3

4. 夜间通过没有路灯或路灯照明不良时，应将近光灯转换为远光灯，但同向行驶的后车不得使用远光灯。

答案：3

5. 夜间行车，遇对面来车未关闭远光灯时，应减速行驶，以防两车灯光的交汇处有行人通过时发生事故。

答案：3

6. 夜间通过无交通信号灯控制的交叉路口时，不得变换远、近光灯。

答案：7

解析：变换远、近光灯是为了让来车注意到前方有车，应减速慢行、注意安全。

7. 驾驶人违反交通运输管理法规发生重大事故后，因逃逸致人死亡的，处 3 年以上 7 年以下有期徒刑。

答案：7

解析：驾驶人驾驶机动车违反交通安全法律、法规，发生重大事故，致人重伤、死亡或者使公私财产遭受重大损失的，处 3 年以下有期徒刑或者拘役；交通运输肇事后逃逸或者有其他特别恶劣情节的，处 3 年以上 7 年以下有期徒刑；因逃逸致人死亡的，处 7 年以上有期徒刑。

8. 行车中从其他道路汇入车流前，应注意观察侧后方车辆的动态。

答案：3

9. 驾驶车辆通过人行横道线时，应注意礼让行人。　答案：3

10. 车辆起步前，驾驶人应对车辆周围交通情况进行观察，确认安全时再开始起步。　答案：3

11. 预计在超车过程中与对面来车有会车可能时，应提前加速超越。

答案：7

解析：有下列情形之一的，不得超车：①前车正在左转弯、掉头、超车的；②与对面来车有会车可能的；③前车为执行紧急任务的警车、消防车、救护车、工程救险车的；④行经铁路道口、交叉路口、窄桥、弯道、陡坡、隧道、人行横道、市区交通流量大的路段等没有超车条件的。

12. 通过隧道时，不得超车。

答案：3

13. 机动车仪表板上如图所示的指示灯亮时，不影响正常行驶。　答案：7

解析：机动车仪表板上如图所示的指示灯亮，表示行车制动系统可能出现故障。

14. 机动车仪表板上如图所示的指示灯亮时，提醒驾驶人安全带插头未插入锁扣。　答案：3

15. 这种握转向盘的动作是正确的。

答案：7

解析：正确的握法是握住转向盘的两边，题中的握法是驾驶的陋习，有很大的危险的。

16. 点火开关在 LOCK 位置拔出钥匙，转向盘会锁住。　答案：3

17. 点火开关在 START 位置起动机

起动。

答案：3

18. 按下这个开关，后风窗玻璃除霜器开始工作。 答案：7

解析：这个开关是控制前风窗的，下边那个按钮才是控制后风窗的。半弧形的图标是前风窗，四四方方的图标就是后风窗。

19. 上下搬动这个开关前风窗玻璃刮水器开始工作。 答案：3

20. 安全头枕用于在发生追尾事故时保护驾驶人的头部不受伤害。

答案：7

解析：安全头枕在发生追尾事故时，能有效保护驾驶人的颈部。

21. 机动车发生正面碰撞时，安全气囊加上安全带的双重保护才能充分发挥作用。 答案：3

22. 机动车在发生碰撞时，安全带可以减轻驾乘人员的伤害。 答案：3

23. 机动车紧急制动时，ABS 在提供最大制动力的同时能使车前轮保持转向能力。 答案：3

24. 安装防抱死制动装置（ABS）的机动车制动时，制动距离会大大缩短，因此不必保持安全车距。

答案：7

解析：ABS 可以兼顾车辆行驶中的最大的纵向制动力和横向抓地力，有效地保证车辆不会发生失控状况，但不是所有配置了 ABS 的车辆都会缩短制动距离，如冰雪、潮湿路面上的制动距离比车轮抱死时短一些，但在一般路面上的制动距离反而更长。

25. 行车中当驾驶人意识到车辆爆胎时，应在控制住方向的情况下采取紧急制动，迫使车辆迅速停住。

答案：7

解析：行车中当机动车突然爆胎时，驾驶人切忌慌乱中急踏制动踏板，尽量采用抢挂低速挡的方法，利用发动机制动使机动车减速。

26. 驾驶人发现轮胎漏气，将车辆驶离主车道时，不要采用紧急制动，以免造成翻车或后车采取制动不及时导致追尾事故。 答案：3

27. 车辆前轮胎爆裂，危险较大，方向会立刻向爆胎车轮一侧跑偏，直接影响驾驶人对转向盘的控制。

答案：3

28. 车辆在冰雪路面紧急制动易产生侧滑，应低速行驶，可利用发动机制动进行减速。 答案：3

29. 雾天行车多使用喇叭可引起对方注意；听到对方车辆鸣喇叭，也应鸣喇叭回应。 答案：3

30. 雨天路面湿滑，车辆制动距离增

大，行车中尽量使用紧急制动减速。

答案：7

解析：因为路面比较滑，如果紧急制动（急刹车），容易造成车辆失控，所以应多用发动机制动。

31. 夜间行车，要尽量避免超车，确需超车时，可变换远、近光灯向前车示意。　答案：3

32. 在高速公路上行驶感觉疲劳时，应立即停车休息。　答案：7

解析：在高速公路上行驶感觉疲劳时，应该找到最近的服务区停车休息。

33.《道路交通安全法实施条例》规定，高速公路上最高车速不得超过120公里／小时。因此在高速公路上行驶只要车速不超过120公里／小时就不违法。　答案：7

解析：《道路交通安全法实施条例》规定高速公路行驶时的最低速度为60公里／小时，最高速度为120公里／小时，这道题只说了不超过120公里／小时，没说不能低于60公里／小时。

34. 车辆不得在高速公路匝道上倒车。　答案：3

35. 车辆在高速公路匝道提速到60公里／小时以上时，可直接驶入行车道。　答案：7

解析：应该是将车速提高到80公里／小时，开启左转向灯，观察后面无车后再驶入行车道。进入高速公路时车速才是60公里／小时。

36. 车辆在高速公路以100公里／小时的速度行驶时，距同车道前车100米以上为安全距离。　答案：3

37. 在高速公路变更车道时，应提前开启转向灯，观察情况，确认安全后，驶入需要变更的车道。　答案：3

38. 小型客车行驶在平坦的高速公路上，突然有颠簸感觉时，应迅速降低车速，防止爆胎。　答案：3

39. 通过急转弯路段时，在车辆较少的情况下可以超车。　答案：7

40. 车辆转弯时应沿道路右侧行驶，不要侵占对方的车道，做到“左转转大弯，右转转小弯”。　答案：3

二、选择题

1. 车辆驶近人行横道时，应怎样做？

A. 加速通过

B. 立即停车

C. 先减速注意观察行人、非机动车动态，确认安全后再通过

D. 鸣喇叭示意行人让道

答案：C

2. 车辆临时靠边停车后准备起步时，应先怎样做？

A. 加油起步

B. 鸣喇叭

C. 提高发动机转速

D. 观察周围交通情况

答案：D

解析：车辆临时靠边停车后准备起步时，应先观察周围交通情况，确认安全后再起步。

3. 行驶车道绿灯亮时，但车辆前方人行横道仍有行人行走，应怎样做？

A. 直接起步通过

B. 起步后从行人后方绕过

C. 等行人通过后再起步

D. 起步后从行人前方绕过

答案：C

4. 在这种情形中前车应怎样行驶？

A. 正常行驶

B. 及时让行

C. 开启危险报警闪光灯行驶

D. 不得变更车道

答案：B

解析：特种车辆是指警车、消防车、救护车、工程救险车。它们在执行紧急任务时享有优先通行权，在确保安全的前提下，不受行驶路线、行驶方向、行驶速度和交通信号灯的限制，其他车辆和行人应当让行。

5. 这样在路边临时停放机动车有什么违法行为？

A. 停车占用机动车道

B. 距离路边超过 30 厘米

C. 在有禁停标线路段停车

D. 在非机动车道停车

答案：C

解析：图中右侧路边是黄色的禁止停车标线，所以此处是不能停车的。

6. 这样在路边临时停放机动车有什么违法行为？

A. 在人行横道上停车

B. 距离路边超过 30 厘米

C. 在有禁停标线路段停车

D. 在非机动车道停车

答案：A

解析：图中的机动车很明显是在占用人行横道。

7. 这样临时停放红色轿车有什么违法行为？

A. 距离路边超过 30 厘米

B. 在有禁停标线路段停车

C. 距离加油站不到 30 米

D. 停车占用非机动车道

答案：C

解析：图为加油站，法规规定加油站 50 米内不得停车。公共汽车站、急救站、加油站、消防栓或者消防队（站）门前以及距离上述地点 30 米以内的路段，除使用上述设施的以外，不得停车。

8. 在距这段路多少米以内的路段不能停放机动车？

A. 5 米以内　　B. 10 米以内

C. 50 米以内　　D. 30 米以内

答案：C

解析：图为急转弯路段，法规规定交叉路口、铁路道口、急转弯、宽度不足 4 米的窄路、桥梁、陡坡、隧道以及距离上述地点 50 米以内的路段，不得停车。

9. 在这段高速公路上行驶的最低车速是多少？

A. 100 公里 / 小时

B. 80 公里 / 小时

C. 60 公里 / 小时

D. 50 公里 / 小时

答案：C

10. 在这个位置时怎样使用灯光？



A. 开启左转向灯

B. 开启右转向灯

C. 开启危险报警闪光灯

D. 开启前照灯

答案：A

解析：从支线进入高速公路，首先要看清高速公路上的交通情况，并正确估计高速公路上车辆的行驶速度。及时打开左转向灯，在不妨碍已在高速公路内的机动车正常行驶的情况下驶入车道。不得在行车道上使用紧急制动，或由行车道突然猛拐进入出口匝道。

11. 进入减速车道时怎样使用灯光？

A. 开启左转向灯

B. 开启右转向灯

C. 开启危险报警闪光灯

D. 开启前照灯

答案：B

解析：减速车道行驶：通常在距离高速公路出口 1000 米和 500 米处分别设有高速公路出口预告标志，看到标志后，应做好减速准备；接近高速公路出口 500 米处时，应提前打开右转向灯，根据情况松开加速踏板，逐渐降低车速，平顺地驶入减速车道，在进入匝道之前，将车速降到标志规定的车速后驶离。

12. 驾驶小型载客汽车在高速公路上车速超过 100 公里 / 小时的跟车距离是多少？

A. 保持 50 米以上

B. 保持 60 米以上

C. 保持 100 米以上

D. 保持 80 米以上

答案：C

解析：机动车在高速公路上行驶，车速超过 100 公里 / 小时时，应当与同车道前车保持 100 米以上的距离，

车速低于 100 公里 / 小时时，与同车道前车距离可以适当缩短，但最小距离不得少于 50 米。

13. 驾驶机动车在高速公路遇到能见度低于 200 米的气象条件时，最高车速是多少？

A. 不得超过 100 公里 / 小时

B. 不得超过 90 公里 / 小时

C. 不得超过 60 公里 / 小时

D. 不得超过 80 公里 / 小时

答案：C

解析：能见度小于 200 米时，应当开启雾灯、近光灯、示廓灯和前后位灯，车速不得超过 60 公里 / 小时，与同车道前车保持 100 米以上的距离。

14. 机动车在高速公路上发生故障时错误的做法是什么？

A. 按规定设置警告标志

B. 车上人员不能下车

C. 迅速报警

D. 开启危险报警闪光灯

答案：B

15. 机动车在高速公路上发生故障或交通事故无法正常行驶时由什么车拖曳或牵引？

A. 过路车　　B. 大客车

C. 同行车　　D. 清障车

答案：D

16. 行车中遇抢救伤员的救护车从本车道逆向驶来时，应怎样做？

A. 靠边减速或停车让行

B. 占用其他车道行驶

C. 加速变更车道避让

D. 在原车道内继续行驶

答案：A

17. 驾驶人未携带哪种证件驾驶机动车上路，交通警察可依法扣留车辆？

A. 机动车行驶证

B. 从业资格证

C. 居民身份证

D. 机动车通行证

答案：A

解析：有下列情形之一的扣留车辆。（1）未悬挂机动车号牌，未放置检验合格标志、保险标志，或者未携带行驶证、机动车驾驶证的。（2）具有伪造、变造或使用伪造、变造及其他车辆的机动车登记证书、号牌、行驶证、检验合格标志、保险标志的。（3）未按照规定投保机动车第三者责任强制保险的。（4）机动车属于拼装或者已达到报废标准或有被盗抢嫌疑的。

18. 驾驶人有哪种情形，交通警察可依法扣留机动车驾驶证？

A. 超过规定速度 10%

B. 疲劳后驾驶机动车

C. 行车中未系安全带

D. 饮酒后驾驶机动车

答案：D

解析：有下列情形之一的，公安机关交通管理部门及其交通警察可以扣留机动车驾驶证：①饮酒后驾驶机动车的。②机动车行驶超过规定车速 50% 的。③机动车驾驶人将机动车交由未取得机动车驾驶证或者机动车驾驶证被吊销、暂扣的人驾驶的。④驾驶拼装或者已达到报废标准的机动车的。⑤在一个记分周期内累积记分达

到 12 分的。

19. 申请小型汽车准驾车型驾驶证的人年龄条件是多少？

A. 18 周岁以上 60 周岁以下
B. 18 周岁以上 70 周岁以下
C. 24 周岁以上 70 周岁以下
D. 21 周岁以上 50 周岁以下

答案：B

20. 驾驶人在驾驶证有效期满前多长时间申请换证？

A. 60 日内　　B. 30 日内
C. 90 日内　　D. 6 个月内

答案：C

21. 驾驶证记载的驾驶人信息发生变化的要在多长时间内申请换证？

A. 30 日　　B. 40 日
C. 50 日　　D. 60 日

答案：A

22. 道路交通违法行为累积记分周期是多长时间？

A. 14 个月　　B. 12 个月
C. 6 个月　　D. 10 个月

答案：B

解析：道路交通安全违法行为累积记分，从机动车驾驶证初次领取之日起计算，一个周期（即记分周期）为 12 个月，满分为 12 分。

23. 驾驶人因服兵役、出国（境）等原因无法办理审验时，延期审验期限最长不超过多长时间？

A. 3 年　　B. 5 年
C. 1 年　　D. 2 年

答案：A

解析：延期期限最长不超过 3 年。延期期间机动车驾驶人不得驾驶机动车。

24. 年龄在 60 周岁以上的驾驶人多长时间提交一次身体条件证明？

A. 每 3 年　　B. 每 2 年
C. 每 6 个月　　D. 每 1 年

答案：D

25. 机动车驾驶人初次申请机动车驾驶证和增加准驾车型后的多长时间为实习期？

A. 6 个月　　B. 12 个月
C. 2 年　　D. 3 个月

答案：B

26. 这个标志是何含义？

A. 直行和左转车道
B. 直行和辅路出口车道
C. 直行和右转合用车道
D. 分向行驶车道

答案：C

27. 这个标志是何含义？

A. 向右变道
B. 分流处
C. 路面变宽
D. 车道数增加

答案：D

28. 这个标志是何含义？

A. 道路流量监测
B. 减速拍照区
C. 全路段抓拍
D. 交通监控设备

答案：D

29. 这个标志是何含义？

A. 隧道出口距离
B. 隧道入口距离
C. 隧道跟车距离
D. 隧道总长度

答案：A

30. 路面上导向箭头是何含义？

A. 提示前方有左弯或需向左绕行
B. 提示前方有障碍需向左合流
C. 提示前方有右弯或需向右合流
D. 提示前方有左弯或需向左合流

答案：C

31. 路面上导向箭头是何含义？

A. 指示前方道路是Y形交叉口
B. 指示前方道路是分离式道路
C. 指示前方道路仅可左右转弯
D. 指示前方道路需向左右合流

答案：C

32. 这个标志是何含义？

A. 保持车距标记
B. 最小间距标记
C. 速度限制标记
D. 道路编号标记

答案：C

33. 这个路面标记是何含义？

A. 非机动车车道
B. 摩托车专用道
C. 电瓶车专用道
D. 自行车专用道

答案：A

34. 路中心的双黄实线属于哪一类标线？

A. 辅助标线　　B. 警告标志
C. 禁止标线　　D. 指示标线

答案：C

35. 路中心双黄实线是何含义？

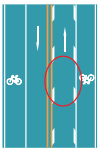

A. 禁止跨越对向车行道分界线
B. 可跨越对向车道分界线
C. 双侧可跨越同向车道分界线
D. 单向行驶车道分界线

答案：A

36. 路中心黄色虚实线是何含义？

A. 虚线一侧禁止越线
B. 实线一侧禁止越线
C. 实线一侧允许越线
D. 两侧均可越线行驶

答案：B

37. 路中心的黄色斜线填充是何含义？

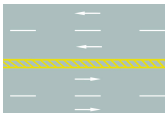

A. 单向行驶车道分界线
B. 禁止跨越对向车行道分界线

C. 双侧可跨越同向车道分界线

D. 可跨越对向车道分界线

答案：B

38. 图中圈内白色横实线是何含义？

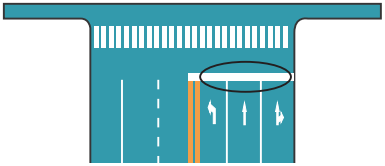

A. 待转线　　B. 减速线

C. 让行线　　D. 停止线

答案：D

39. 这个路面标记是什么标线？

A. 网状线

B. 禁驶区

C. 导流线

D. 中心圈

答案：D

40. 这个路面标记是什么标线？

A. 禁驶区

B. 网状线

C. 导流线

D. 中心圈

答案：D

41. 图中路口中央黄色路面标记是什么标线？

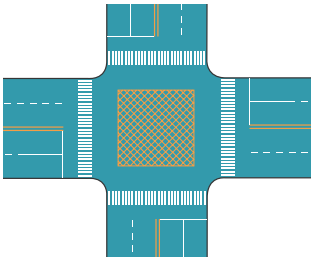

A. 中心圈　　B. 导流线

C. 网状线　　D. 停车区

答案：C

42. 图中圈内两条黄色虚线间的区域是何含义？

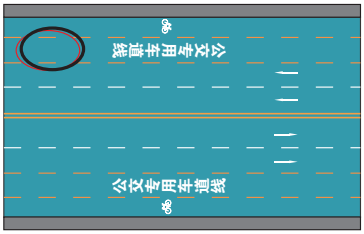

A. 营运客车专用车道

B. 大客车专用车道

C. 出租车专用车道

D. 公交专用车道

答案：D

43. 道路最左侧白色虚线区域是何含义？

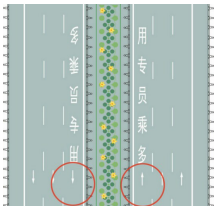

A. 多乘员车辆专用车道

B. 小型客车专用车道

C. 未载客出租车专用车道

D. 大型客车专用车道

答案：A

44. 这种黄黑相间的倾斜线条是什么标记？

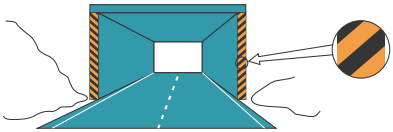

A. 实体标记　　B. 突起标记
C. 立面标记　　D. 减速标记

答案：C

45. 这一组交通警察手势是什么信号？

A. 直行信号　　B. 转弯信号
C. 停止信号　　D. 靠边停车信号

答案：A

46. 这一组交通警察手势是什么信号？

A. 左转弯待转信号
B. 靠边停车信号
C. 左转弯信号
D. 右转弯信号

答案：C

47. 当驾驶车辆行经两侧有行人且有积水的路面时，应怎样做？

A. 加速通过　　B. 正常行驶
C. 连续鸣喇叭　　D. 减速慢行

答案：D

解析：在雨天经过积水路面时，一定要减速行驶，行经两侧有行人和非机动车且有积水的路面，要减速慢行。

48. 在一般道路倒车时，若发现有过往车辆通过，应怎样做？

A. 鸣喇叭示意　　B. 主动停车避让
C. 加速倒车　　D. 继续倒车

答案：B

解析：在一般道路上倒车应避开交通繁忙、非机动车和行人较多、路面狭窄的路段。倒车时若发现有过往车辆通过，应主动停车避让。如掉头需要倒车时，应选择在不影响正常交通的地段进行。

49. 会车前选择的交会位置不理想时，应怎样做？

A. 减速、低速会车或停车让行
B. 向左占道，让对方减速让行
C. 打开前照灯，示意对方停车让行
D. 加速选择理想位置

答案：A

50. 进入左侧道路超车，无法保证与正常行驶前车的横向安全间距时，应怎样做？

A. 谨慎超越　　B. 放弃超车
C. 并行一段距离后再超越
D. 加速超越

答案：B

解析：不得超车的情形如下：

（1）铁路道口、交叉路口、窄桥、弯道、陡坡、隧道、人行横道、市区车流量大的路段。

（2）同车道前方有执行紧急任务的警车、消防车、救护车、工程抢险车时。

（3）从左侧超车，无法保持与正常行驶前车的横向安全间距，或发现对面来车有会车可能时。

51. 危险报警闪光灯可用于下列什么场合？

A. 遇到道路拥堵时

B. 在道路上跟车行驶时

C. 机动车发生故障停车时

D. 引领后车行驶时

答案：C

解析：《中华人民共和国道路交通安全法实施条例》第六十条：机动车在道路上发生故障或者发生交通事故，妨碍交通又难以移动的，应当按照规定开启危险报警闪光灯并在车后 50 米至 100 米处设置警告标志，夜间还应当同时开启示廓灯和后位灯。

52. 机动车仪表板上如图所示的指示灯亮表示什么？

A. 危险报警闪光灯闪烁

B. 右转向指示灯闪烁

C. 左转向指示灯闪烁

D. 车前后位置灯闪烁

答案：A

53. 机动车仪表板上如图所示的指示灯亮表示什么？

A. 车前后位置灯亮起

B. 车前后示宽灯亮起

C. 左转向指示灯闪烁

D. 右转向指示灯闪烁

答案：D

54. 机动车仪表板上如图所示的指示灯亮表示什么？

A. 充电电流过大

B. 蓄电池损坏

C. 电流表故障

D. 充电电路故障

答案：D

55. 机动车仪表板上如图所示的指示灯亮表示什么？

A. 发动机舱开启

B. 燃油箱盖开启

C. 两侧车门开启

D. 行李箱开启

答案：C

56. 正面安全气囊与什么配合才能充分发挥保护作用？

A. 防抱死制动系统

B. 座椅安全带

C. 座椅安全头枕

D. 安全玻璃

答案：B

57. 夜间驾驶车辆遇自行车对向驶来时，应怎样做？

A. 连续变换远、近光灯

B. 不断鸣喇叭

C. 使用近光灯，减速或停车避让

D. 使用远光灯

答案：C

解析：安全第一。如果使用远光灯会使对方看不清，变换远、近光灯也是一样，不断鸣喇叭会使对方产生抵触情绪，也会使对方慌张，结果适得其反。

58. 车辆在主干道上行驶，驶近主支干道交汇处时，为防止与从支路突然驶入的车辆相撞，应怎样做？

A. 保持正常速度行驶

B. 提前减速、观察，谨慎驾驶

C. 鸣喇叭，迅速通过

D. 提前加速通过

答案：B

59. 驾驶车辆驶入铁路道口前减速降挡，进入道口后应怎样做？

A. 不能变换挡位

B. 可以变换挡位

C. 可换为高速挡

D. 停车观察

答案：A

解析：驾驶车辆进入铁路道口前减速降挡，通过路口时，应用低速挡安全通过，中途不得换挡，以避免发动机熄火影响车辆通行或滞留在路口内。

60. 行车中超越右侧停放的车辆时，为预防其突然起步或开启车门，应怎样做？

A. 加速通过

B. 长鸣喇叭

C. 保持正常速度行驶

D. 预留出横向安全距离，减速行驶

答案：D

解析：留出安全距离并减速，万一右侧车辆起动才有足够的空间和时间避让。

第四章

科目四（安全文明驾驶常识）考试考点解析

第一节 道路驾驶技能

一、出车前的检查

1. 车外检查

（1）检查轮胎是否正常。检查轮胎磨损是否超过标准，如磨损过度，要及时更换；检查螺栓紧固情况，如发现螺栓松动，要进行紧固；检查气压是否正常，如气压不正常，要采取适当措施予以处理。

（2）检查车灯是否正常。检查前照灯、示廓灯、前后位灯、雾灯、制动灯、转向灯等灯光设施工作是否正常，如不亮，要及时修理。

（3）检查前、后牌照。检查前、后牌照是否无遮挡。

（4）检查车周围是否有障碍物。上车前，要从驾驶室车门处开始，逆时针绕车一周，检查车辆及周边情况，查看车底、车后有无异常情况，如正在玩耍的小孩，确认安全后再上车。

2. 车内检查

（1）起动发动机，检查有无异常情况。一般发动机都具有自检功能，车辆起动后，如发动机有故障，则故障灯点亮。

（2）检查仪表。起动发动机后，应检查各仪表工作情况是否正常。刚起动发动机时，冷却液温度表显示温度较低，尤其是冬季或严寒地带更为明显，需要一段时间的预热，才能达到适合的温度。一般情况下，车辆应在冷却液温度升高超过“C”附近的白色区域后再起步。

3. 其他检查项目

（1）检查后视镜是否调整到正确位置。

（2）检查行车制动和驻车制动是否有效。

（3）检查玻璃清洗液量、机油液面、制动液量、冷却液量和蓄电池电解液液面。

二、起步前的调整

1. 正确上、下车

上车时要注意车的周围，特别是后方来车。上车时，左手轻轻打开车门，不要将车门开得过大，进入车内后，轻关车门，确保车门关好。

下车时，要注意后方，通过内、外后视镜并侧头观察，尤其是左后方的交通情况，确定安全后轻轻打开车门迅速下车。不要将车门开得过大，下车再轻轻关上车门，确保车门关好。

2. 座椅、头枕调整

用右手握住转向盘，左手控制座位调节手柄，前后滑动调整到能将离合器踏板和行车制动踏板轻松踏到底的位置。

将头枕调整到合适位置，应使脑后部的中央正好枕在头枕的中央。

3. 后视镜调整

车内后视镜有分别适合白昼和夜晚的两个位置，夜晚位置可减少后方来车的炫光。调整车内后视镜时，保持正确驾驶姿势，面向正前方，右手握后视镜边缘，轻轻扳动后视镜底部边缘手柄调整到转动眼睛时便可看到车后部的情况为宜。

调整外后视镜时，应调至能看到的车体占镜子纵向的 1/4，车外物体占镜子纵向 3/4，使地平线位于上、下方的中间，尽量能看到后方更远的地方。

4. 安全带

（1）系安全带：扳动调整钮调整好安全带的高度，缓慢将安全带向下拉，使安全带位于肩与颈根之间，并通过胸部的适当位置，再将搭扣插头插入插座的插孔里。猛拉安全带，检查自动锁止装置是否安全有效。

（2）解安全带：解安全带时，用拇指按下搭扣插座上端的按钮，插头便会从插座处自动脱出。抓紧锁舌直至安全带完全收回。

5. 操纵装置

（1）检查转向盘的最大自由转动量，不超过 20°。

（2）检查变速杆是否位于空挡位置。

（3）检查驻车制动器是否处于制动状态。

（4）踩踏离合器踏板和制动踏板，确认抬踏是否正常，有无异物阻挡。

（5）确认加速踏板灵活无卡滞现象。

三、安全起步

(1) 观察周围情况，打开左转向灯向其他车辆示意。

(2) 通过内、外后视镜和向左转头观察（左侧后视镜看不到的盲区），确认左侧和后方安全，必要时也可直接将头伸向窗外确认左后方是否安全。

(3) 再次确认前、后方安全，挂挡起步。将离合器踏板抬到半联动位置，一边踏加速踏板，同时放松驻车制动器操纵杆。继续踩加速踏板，将离合器踏板缓慢抬起，使车辆平稳起步。

四、安全汇入车流

（1）驾驶车辆汇入车流前，至少提前三秒钟开启转向灯。

（2）通过后视镜观察左、后方行驶的车辆，正确估计车流速度和安全距离。

（3）根据车流情况选择汇入的最佳时机，在不影响正常行驶车辆的情况下安全汇入车流。

（4）在汇入车流时，要安全地左转或右转汇入左、右侧第一条车道，不可一次跨越两条车道。

（5）如果有转向等需求，要再变道时，需直行一小段后再开启转向灯。

（6）在汇入车流时，一定要注意车辆两侧的盲区，必要时需转头观察。

在车道分界线为虚实线的路段，实线一侧的车辆严禁变更车道。变更车道不宜过缓，长距离轧线行驶会影响其他车辆，一般应在 50 ~ 60 米的距离内完成变更车道。

遇左侧车辆较多时，让左侧车辆先行，不要向左突然急加速转向汇入车流。从辅路汇入主路车流时，要低速选择汇入时机。

五、安全跟车距离

安全跟车距离是指无论在什么条件下跟车行驶，都能保证在前车突然紧急制动时，后车随之制动而不与前车相撞的安全停车距离。

安全跟车距离 > 驾驶人反应距离 + 制动器反应距离 + 制动距离

在干燥路面上，速度在 30~60 公里 / 小时，纵向安全距离大于（车速表读数 -15）米。例如，以 40 公里 / 小时的速度行驶时，纵向安全距离为（40-15）米 =25 米。

在高速公路上，行驶速度为 80 公里 / 小时，安全距离为 80 米；行驶速度超过 100 公里 / 小时，安全距离至少为 100 米。

在城市道路跟车行驶时，要以前方 2 ~ 3 辆车为目标，及时观察路面和前方道路的通行情况。当前方车辆行驶路线改变时，要及时判断原因，采取正确的应对方法。前车遇障碍物绕行时，要根据障碍情况确定跟车避让路线，留出足够的安全距离，避免临近障碍时超车或急转向绕行。

六、安全会车

驾驶人根据具体的交通情况，调整好车速，选择合适的地点进行会车。

(1) 若遇前方有障碍物，对向来车已接近障碍物时，应及时降低速度靠边行驶或停车，让对向来车优先行驶。不得加速优先通过或鸣喇叭示意对方来车让道，更不得迅速占用车道。应会车后再超越障碍。

(2) 在设有中心虚线的道路上，对向有车辆行驶过来时，应在各自的行车道上行驶不得越过中心线。遇对方车辆超过中心线或开启转向灯示意占道行驶时，立即靠路右边减速或停车让行。

(3) 在没有中心线的道路上会车时，驾驶人应根据双方车型、车速及道路状况和交通情况，选择正确的会车地点和车速进行会车。会车前的交会位置不理想时，应及时减速，低速会车或停车让行。

(4) 夜间会车时，遇对面来车没有关闭远光灯，应当减速或停车让行，不得高速行驶或开启远光灯对射。

七、安全超车、让超车

1. 安全超车

超车前注意对面来车、后方车辆情况、前方路况、侧方路况。

超车步骤：

(1) 超车前，保持与被超越车辆的安全跟车距离；注意左侧交通情况，并通过中央后视镜观察后方情况。

(2) 在不影响其他车辆正常行驶的情况下，确认可以超车后，打开左转向灯，发出超车信号，示意被超车辆。

(3) 待前车让行后，选择合理的时机，与被超车辆保持安全距离从左侧超越；**注意侧头观察被超越车辆的动态，保持横向安全距离。**

(4) 超车后，在不影响被超车辆正常行驶的前提下，打开右转向灯，缓慢转动转向盘驶回原车道，随即关闭转向灯。

2. 安全让超车

（1）行车中，发现后方来车要求超车时，如果前方的道路和交通情况具备让车条件，应及时开启右转向灯，选择合适路段靠右侧行驶让行，必要时用手势示意。

（2）当被其他车辆超车时，前车不得加速，更不得让路或让路不让速。

（3）在夜间行车，遇后车打开左转向灯并连续变换远、近光时，要注意准备超越自己的后车，在条件许可时，应及时开启右转向灯，减速靠右行驶，让对方超越。

八、安全停车

（1）机动车在道路上停车时，应选择允许停放的路段，按顺行方向靠道路两侧停放；如长时间停车，应停在道路两侧的停车泊位上。

（2）机动车在雨天、雪天、雾天或夜间临时停车时，除了按照上述要求按顺行方向靠道路两侧停放外，还应及时开启危险报警闪光灯、示廓灯、后位灯。

（3）车辆长时间停放时，应选择停放在停车场，且要选择车辆方便出入的方式停车。

（4）在陡坡、坡顶、弯道和经常发生塌方、泥石流的山区地段不能停车。

九、安全掉头

1. 车辆掉头应选择的路段

（1）无禁止掉头标志路段。

（2）交通流量小的宽阔路段。

2. 车辆掉头方法

（1）掉头前，观察车后交通情况，确保安全。

（2）在掉头过程中，应严格控制车速，仔细观察道路前后方的情况，确认安全后，方可前行或倒车，并随时做好停车准备。

（3）在坡道上因故必须掉头时，每次停车都应使用行车制动器和驻车制动器控制，以免因车辆溜车而发生事故。

十、安全倒车

(1) 驾驶车辆倒车时，应仔细观察倒车路线，确认具备安全倒车条件后方可倒车。倒车过程中要缓慢行驶，注意观察车辆两侧和后方的情况，并随时注意车头两侧的空间位置，随时做好停车的准备，以免因转向角度过大而发生剐擦事故。即便是后方道路条件较好，也不得加速倒车。

(2) 在一般道路上倒车应避开交通繁忙、非机动车和行人较多、路面狭窄的路段。

倒车时若发现有过往车辆通过，应主动停车避让。如掉头过程中需要倒车时，应选择在不影响正常交通的地段进行。

十一、弯道安全驾驶

(1) 车辆转弯时应沿道路右侧行驶，不要侵占对方的车道，做到“左转转大弯，右转转小弯”。行至道路急转弯时，应充分减速并靠右侧行驶，不得借对向车道行驶，防止与越过道路中心线的对方车辆相撞。

(2) 车辆转弯较大时，靠弯道外侧一方的车辆不得侵占对方的车道行驶。通过连续弯道驾驶时，应尽量靠弯道的内侧行驶。转弯时紧急制动或靠弯道外侧行驶，容易造成车辆驶出道路或倾翻事故。

(3) 山区道路车辆进入弯道前，在对面没有来车的情况下，应“减速、鸣喇叭、靠右行”。靠弯道外侧行驶或加速沿弯道切线方向通过，极易导致驶出路外或倾翻事故。弯道行驶过程中，不得借用对方的车道，以免与对方来车发生碰撞事故。

十二、路口安全驾驶

1. 通过交叉路口

（1）驾驶车辆进入交叉路口前，应降低行驶速度，注意观察，确认安全。快车道行驶的车辆右转弯时，应按安全导向箭头指示，提前向右变更车道。左转弯车辆在绿灯或直行箭头灯亮时方可进入待转弯区。

（2）通过没有交通信号的交叉路口时，应在进入路口处减速或停车瞭望，直行车辆优先通行。车辆在交叉路口有优先通行权的，遇有车辆抢行时，应减速避让，必要时停车让行；遇有转弯的车辆抢行

时，应停车避让；在堵车的交叉路口绿灯亮时，车辆不得驶入交叉路口，待拥堵缓解后再通行。

（3）车辆在主干道上行驶，驶进与支路交会时，为防止与突然驶入的车辆相撞，应提前减速，仔细观察，谨慎驾驶。

2. 通过环岛路口

（1）驶入环岛。驾驶车辆进入环岛前，应根据环岛内行驶车辆的情况，**选择时机按逆时针方向安全驶入**，驶入环岛时不用开启转向灯。

（2）驶出环岛。驶出环岛前，应在驶出的路口前开启右转向灯，在内车道的车辆应提前驶入外车道，**注意观察道路右侧情况，安全驶出**。车辆在环形路口内行驶时，如果有车辆强行驶入，应减速避让。

3. 通过铁路道口

（1）驾驶车辆进入铁路道口前减速降挡，通过路口时，应用低速挡安全通过，中途不得换挡，以避免发动机熄火影响车辆通行或滞留在路口内。

（2）通过有人看守的铁路道口，应服从道口管理人员的指挥，不要与火车抢道。通过无人看守的铁路道口，没有看到火车到来，也应做到“一停，二看，三通过”。

（3）驶近铁路道口，遇前方堵车时，即使交通信号允许通过也不应驶入，以免因堵塞在路口而发生与火车相撞的事故。

十三、安全通过人行横道

驾驶机动车接近人行横道线时，应提前减速观察，注意观察人行横道左右两侧是否有行人通行，随时准备停车礼让行人。遇行人或非机动车通过横道时，应及时停车让行，不得抢行或绕行。右转弯通行时，更要注意礼让通过人行横道的行人。

驾驶机动车行至学校附近或有注意儿童标志的路段时，一定要及时减速，**注意观察道路两侧及周围的情况，时刻提防学生横过道路**。

人行横道线是为行人横过道路而设置的安全通道，驾驶机动车行至人行横道线前应减速行驶，及时给通过的行人让行。车辆行至人行横道线前不让行或加速行驶，甚至与行人抢行，往往会发生与行人相撞事故，最容易受到伤害的就是行人。

驾驶机动车看到人行横道前有停止的车辆时，一定要停车，不要盲目通过，前车可能是停车避让行人。不要在人行横道及附近直行超车和变向超车，尤其要提防有些行动缓慢的人可能还滞留在人行横道上。

十四、安全通过学校区域和居民小区

车辆通过学校、居民小区时应注意观察标志、标线，低速行驶，不要鸣喇叭。遇列队横过道路的学生时，应当停车让行，不得连续鸣喇叭催促或加速抢行。在上学或放学时段，要预测到会有放学或上学的小学生、儿童及家长聚集或突然横穿，做好预防出现突然情况的准备。

十五、安全通过公交车站

通过公交车站时，应减速行驶，保持足够的间距，随时准备停车，仔细观察周围的动态。要预测到会有乘客或行人从公交车前或车后突然横穿道路、非机动车或行人会超越公交车、公交车会突然起步。

十六、保护乘车人

(1) 车辆遇险时，应在确保安全和尽量减少损失的前提下，避开损失较重或危害较大的一方，尽可能减少危害；宁可财产受损失，也要确保人的安全。

(2) 车辆遇险的一刹那，应先使用制动降速，在确认安全的情况下，平稳转动转向盘，并果断采取一切有效措施保护乘车人不受伤害或少受伤害，要尽量避免车辆发生倾覆。

(3) 车辆遇剐碰或制动失效时，应迅速告知乘客向车厢中部或没有被剐碰的安全一侧挤靠，并抓住车内固定物，避免车身变形挤伤身体。

(4) 遇到非常情况或者发生事故时，应力所能及地将损失降到最低限度，不能因应急避险造成二次事故或更大的损失。

第二节　驾驶职业道德和文明驾驶常识

（1）人行横道前的礼让：减速、瞭望，行人优先，不抢行，不鸣喇叭催人，不用灯光晃人。

（2）会车时的礼让：减速、确保安全车距，夜晚关闭远光灯。

（3）超车时的礼让：后车有超车意愿，主动减速，略微靠右，让超车先行。

（4）遇特种车辆的礼让：应减速让行，甚至停车。

（5）遇异常行驶车辆的礼让：减速让行。

（6）遇道路、路口拥堵时的礼让：按顺序行驶，不随意并线和抢行。

（7）遇行人的礼让：减速甚至停车让行人优先通过。

（8）遇牲畜的礼让：减速甚至停车让其优先通过。

（9）遇非机动车的礼让：减速甚至停车让非机动车优先通过。

第三节　恶劣气象和复杂道路条件下的安全行车

一、通过隧道的安全驾驶

隧道分为两种，单向行驶隧道和双向行驶隧道。

通过单向行驶隧道时，由于隧道内路面窄，无路肩，能见度差，因此，车辆在进入隧道前，应注意观察交通标志标线，严格按照信号灯指示通行，开启前照灯并减速行驶。**要注意观察对向有无来车，如发现有对向来车，应在隧道外靠右让行**。

通过双向行驶隧道前，应开启近光灯，靠右侧行驶，会车时**注意保持安全的横向距离**。

①进入隧道前 100 米外开始减速，50 米时开启近光灯，尽量靠右侧车道行驶。

②进入隧道后注意隧道内的道路情况，按进入隧道的速度规定行驶，不得超速行驶。

二、山区道路安全驾驶

山区道路多为盘山绕行或依山傍水，弯道曲折，连续不断，视线不良，坡多路窄，傍山险路情况复杂，经常要避让和停车，驾驶人应注意观察路面宽窄和坡度陡缓，提前减速，适时换挡，合理制动，不可空挡滑行，以保障安全。

1. 在山路上跟车时的安全驾驶

在山路上跟车行驶时或遇上坡中途停车时，要适当加大与前车的安全距离，防止前车在起步时溜车。

2. 在山路上超车时的安全驾驶

在山路上超车时，应选择在宽阔的路段进行，在超车前要提前开启左转向灯，鸣喇叭，确认安全后超车。

3. 在山路上会车时的安全驾驶

在山路上会车时，应选择在宽阔的路段进行，靠近山体一侧的车要礼让外侧的车先行，如靠山体的一方车辆不让行，应当提前减速并选择安全的地方避让。在窄路会车时，应减速或停车。

4. 山路坡道的安全驾驶

（1）通过短而不陡的坡。若路面较宽而且平坦，两侧又没有危险，可适当利用汽车的惯性冲坡。当汽车将要到达坡顶时会有视觉盲区，要减速鸣喇叭（夜间用断续灯光），示意和警告对面来车、行人，禁止超车，以免发生事故。

（2）通过长坡

①上长坡：虽然山区道路在地形上看是上坡，但中间总会有部分起伏地段或较平坦的地段。因此要正确判断坡度情况，不能单纯用低速挡行驶，应根据坡度的大小，选择合适的挡位。能用高速挡行驶的路段，则应尽量用高速挡，还应充分利用起伏的地形，发挥车辆的惯性，能冲车的路段提前冲车，以保持足够的动力上坡。

②下长坡：下坡时，汽车重心前移，惯性力变成下坡的驱动力，汽车行驶速度自行加快。坡越陡、越长，车越重，车速就越快，所以下长

坡要尽量利用发动机的牵阻作用控制车速。经常使用行车制动，不仅会加剧制动蹄片与制动鼓的磨损，还会使车轮制动器内的温度升高，造成制动效能降低，严重时会使制动失灵；同时会造成制动气压急剧下降，影响车辆制动性能，下坡的尽头如果有桥梁，应提前减速，使车辆平稳地以低速通过。

（3）通过陡坡

①上陡坡：要正确判断坡路情况，上坡前提早换入中速或低速挡，以保持发动机足够的动力，切不可等到惯性消失了再减挡。在坡道上发动机熄火或换不进挡以致汽车后溜时，**要沉着处理，迅速用制动（驻车制动）将车停住**，然后重新起步。如果制动失灵或惯性太大，汽车难以停住，可转动转向盘将车靠向山体的一侧，使车尾抵在山上，利用天然障碍停车。

②下陡坡：利用发动机的牵阻作用和行车制动控制车速，**禁止踏下离合器踏板或空挡滑行，避免使用紧急制动**。

5. 山路弯道的安全驾驶

山区道路弯多路窄，经常是一边靠山，另一边临崖或傍河。行驶中要多鸣喇叭，尤其在弯道处，**要时刻注意对面来车和路边的情况，主动避让，做到“减速、鸣喇叭、靠右行”**。

三、夜间安全驾驶

1. 夜间灯光的使用

（1）夜间在没有路灯路段必须开远光灯。

（2）前方有车或者对面来车，需要切换远光灯为近光灯，过了该路段变回远光灯。

（3）超车时远、近光灯闪烁，提醒车辆注意。

（4）会车时远光灯切换为近光灯慢行通过。

（5）雾天开启雾灯慢行。

（6）特殊情形下开启危险报警闪光灯、示廓灯。

2. 夜间路面的识别与判断

（1）当车速自动减慢和发动机声音变得沉闷时，说明行驶阻力已经增大，汽车正在上坡或驶入松软路面；当车速自动加快和发动机声音变得轻松时，说明行驶阻力减小或汽车在下坡。

（2）当灯光照射距离由远变近时，表示汽车驶近或驶入上坡路，驶近急弯或将要到达起伏路的低谷地段；当灯光照射距离由近变远时，表示汽车由弯道转入直线道路，或者是坡路已由陡坡进入缓坡。

（3）当灯光离开路面时，应当注意前面可能出现急弯或大坑，或者是上坡车驶上坡顶；当灯光由路中移向一侧时，表明前面出现弯道，当灯光由道路侧又移向另一侧时，表明车辆已进入连续弯道，驾驶人应减速靠右慢行。

3. 夜间跟车、超车、让超车时的安全驾驶

（1）跟车。驾驶人在夜间行车时，一是视线不良，二是常遇危险、紧急情况，为此，驾驶人必须准备随时停车。在这种情况下，为避免危险，要注意适当增加跟车距离，以防止前后车碰撞事故。

（2）超车

①夜间超车必须在道路和交通条件许可的情况下才能进行。

②超车前，先连续变换远、近灯光向前车示意，必要时用喇叭配合，在确认前车让路允许超车时，再行超车，绝对不能强行超车，以免发生事故。

③超车时，先开启左转向灯，与前车保持足够的横向距离，并注意路边情况。

④超越后，给被超越车辆留一定的安全距离后，再开启右转向灯，驶回原车道。

（3）让超车。在开车过程中，驾驶人若发觉道路的左前方忽明忽暗，就要注意后边有车想超自己的车，这时应视前方情况决定是否让路，如前方没特殊情况，就向右打一点方向，减速让出路面，让后车顺利超车。

4. 夜间会车时的安全驾驶

①夜间遇对面来车时应降低车速。

②在距对面来车 150 米以外，将远光灯改为近光灯。

③选择路面宽阔、平坦的路段交会，并加大两车横向安全距离。

④当两车行至横向并线时，将近光灯改为远光灯。

⑤夜间在窄路、窄桥与非机动车交会时应使用近光灯。

⑥夜间会车时，对面来车的灯光会造成驾驶人眩目而看不清前方的交通情况，驾驶人不要直视对面车辆灯光，应将视线右移避开对方车辆灯光，并减速行驶。

⑦夜间会车一定要做到“礼让三先”，如遇到对方来车不改变远光灯时，应立即减速并使用断续明暗灯通知对方变光。如对方仍用远光灯行驶，应立即靠边停车让对方先行，切不可自己也用远光灯赌气行驶，这样容易发生事故。

5. 夜间交叉路口的安全驾驶

①夜间通过视线较差的交叉路口时，应在距交叉路口 150 米以外，进行远、近光灯变换，示意左右来往的车辆和行人。低速转弯时，应在距路口来车 30~100 米时关闭远光灯，打开转向灯示意。进入路口前应降低车速，不断变换远、近光灯。

②夜间通过城市交叉路口时，应提前选择行驶车道；在距交叉路口 100 米处，关闭近光灯，按交通信号灯的提示通过。黄灯闪烁时，应减速慢行或停车瞭望，并变换远、近光灯提醒来往车辆、行人。通过时，**应注意黑暗中的行人**。

③通过有指挥人员的交叉路口时，在距交叉路口 30~50 米时关闭远光，改用近光灯或示廓灯。

6. 夜间通过坡道、人行道的安全驾驶

①通过坡道：夜间驾驶机动车通过坡道时需要交替使用远、近光灯。

②通过人行横道：夜间通过人行横道时应距路口100米减速慢行，并交替使用远、近光灯示意。同时**应注意提防黑暗中的非机动车和行人，降低车速，谨慎驾驶车辆**。

7. 夜间转弯、发生故障时的安全驾驶

（1）转弯临近弯道时，要减速、交替使用远、近光灯，甚至鸣喇叭慢行。时机选择要适当，应做到一次性转弯，避免因转向不当造成不能一次转过，而需倒一次车后再转弯，增加危险性。

（2）发生故障时的处置。①选择安全区域停车。②开启危险报警闪光灯。③开启示廓灯和后位灯。④按规定设置警告标志。

四、雨天安全驾驶

1. 雨天影响行驶安全的主要因素

①雨水洒落在前风窗玻璃上，造成视线受阻。

②潮湿路面的光线反射。

③路面湿滑，制动距离增加。

④久雨天气，路基疏松可能出现坍塌现象。

2. 雨天安全驾驶的正确方法

①正确使用刮水器。雨天应确保刮水器工作正常，行车中应根据雨量大小正确使用刮水器。在暴雨天气驾车，刮水器无法刮净雨水时，应立即减速靠边停驶。

②控制行驶速度。雨天能见度在 30 米以内时，车速不得超过 20 公里 / 小时。

③保持安全距离。雨天行车，因道路附着力下降，制动距离增大，为此，安全距离应是干燥路面上的 1.5 倍。

④正确选择路面。汽车应尽量避开积水路面，选择高处行驶。无法避开时，应探明情况，确认积水深度，做好各方面的准备，方可低速缓慢通过，且争取一次性通过。

⑤注视行人动态。雨天行车，要密切注视行人动态，尤其是在刚开始下雨时，行人由于急切走路或找地方避雨，往往不顾行驶的车辆，速度较快，顾前不顾后。所以，驾驶人应注意观察，尽量避让，同时降低车速，并随时准备停车。

⑥防止“水滑”现象。在雨天，高速通过积水路时，容易出现“水滑”现象。出现水面滑行后，轮胎和路面间便失去摩擦力，汽车变得难以控制。为避免发生这种现象而造成危险，行驶中要控制车速。一旦发生“水滑”现象，则降低车速，握紧转向盘，保护操作姿势不变，等待“水滑”消失。

⑦遇到特大暴雨的安全驾驶。遇到特大暴雨，不要冒险行驶，应选择安全地点将车停好，并开启示廓灯，引起过往车辆的注意。连续降雨天气，山区公路可能会出现路肩疏散和堤坡塌陷现象，行车时应选择道路中间坚实的路面，避免靠近路边行驶。

⑧在山区遇到暴雨的安全驾驶。在山区遇到暴雨时，应尽量将车停在山顶的公路上，待雨停后再通过。切勿将车停在山谷间的公路上，以免受到山洪的冲击。

五、冰雪道路的安全驾驶

①在冰雪道路上起步时，离合器应在半联动状态下稍多加停留，加速踏板的踏下力度要适中，目的是加大车轮与路面的附着力，以免起步时车轮空转或侧滑。起步后，不要立即驶入快行线，以免影响后车正常行驶。

②在冰雪道路上驾驶时，要降低车速，匀速行驶，切忌猛踩、猛抬加速踏板，急转向，急踩制动踏板。

③冰雪道路行车，应加大与前、后及左、右车辆的安全距离，必要时可利用发动机制动（挂入发动机低速挡）降低车速，保障安全。

④经过高架桥及涵洞时，因高架桥及涵洞悬空，温度较地面低，往往会出现“冰滑”现象，应做到减速慢行。上坡前，提前减入低速挡，避免在中途换挡，如高架桥两侧有辅道可通行时，应尽量选择辅道通行。

⑤在冰雪道路中驾驶时，不要在转弯中加、减挡，转弯时车的中心在弯角外侧，容易造成车辆侧滑。

⑥在冰雪道路上尽可能避免超车。会车时，应选择平坦宽阔的路段，并保持两车旁边有足够的侧向安全距离。若路面狭窄，有条件的一方应主动停车或后退让礼。

⑦确实需要在冰雪路面上停车时，应选择朝阳、避风、平坦干燥处停放，不得紧靠建筑物、电线杆或其他车辆，以防侧滑时碰撞。

⑧行车中雪花纷飞视线不清时，应降低车速，使用刮水器改善视线，多鸣喇叭。雪后行车过久，由于雪对阳光的反射，易使驾驶人双目畏光、流泪、视力下降，因此，行车中可佩戴有色防护眼镜，并注意休息。

六、雾天安全驾驶

(1) 雾天行车，为增大视距便于被其他驾驶人发现自己，应正确使用灯光。当雾不太浓时，应开启雾灯、示廓灯；当雾较浓，能见度小于 30 米时，还应开启近光灯和危险报警闪光灯。行车中遇有浓雾和特大雾天气，能见度过低行车困难时，应选择安全地点停车。

(2) 雾天驾驶汽车应降低车速，雾浓度越大，可视距离越小，车速应越慢。当能见度在 30 米以内时，车速不要超过 20 公里 / 小时，并与其他汽车及行人保持充分的安全距离。

(3) 雾天行车时，因视线不良，应密切注视前方交通情况，随时注意行人与其他汽车的动态，低速行驶，适当多鸣喇叭引起其他汽车、行人的注意。听到对方汽车鸣喇叭，也应鸣喇叭回应。

(4) 雾天汽车应始终保持靠道路右侧行驶，不要侵占对方路线。会车时，应关闭雾灯，以免给对方造成眩目，同时加大横向间距，低速行驶，会车后打开雾灯。

(5) 雾天驾驶汽车时，严禁超车。在超越路边停放的汽车时，注意道路左侧的交通情况，做好随时停车的准备，切勿盲目超越。

七、大风天气的安全驾驶

(1) 汽车在大风天气要坚持中、低速度行驶，严密注视行人和自行车的动态，随时准备制动停车。

(2) 大风天气行车，由于风速和风向往往不断地发生变化，如果遇到狂风袭来，感觉汽车产生横向偏移时，一定要双手稳握转向盘并减速。

(3) 行车中如突遇沙尘暴，造成尘土飞扬，空气浑浊，能见度降低，应及时开启示廓灯、雾灯，不间断鸣喇叭。

(4) 途中突遇暴风，应立即停车躲避，车辆应尽量停在背风处，如无处背风，应将汽车尾部对着来风，防止车辆被吹翻或被砂石打坏。

八、泥泞、涉水、施工道路的安全驾驶

（1）车辆行至泥泞或翻浆路段时，应停车观察，选择平整、坚实或有车辙的路段，选择适当挡位，用加速踏板控制速度，匀速一次性通过。遇到车轮空转打滑时，应挖去泥浆，铺上干草或砂石。

（2）车辆行至涉水路段时，要先观察水情，判断是否能够安全通过，如果水深超过车轮或车辆最大涉水深度，不宜冒险涉水。涉水时，应挂低速挡平稳驶入水中，避免猛冲，防止水花溅入发动机而熄火。行驶中，轻踏加速踏板，争取一次通过，避免中途停车、换挡或急转弯。

（3）车辆行至施工道路时，应遵照标牌指示行车，**注意交通标志信号，按规定的路线行驶**。进出匝道时应掌握好转向盘，控制车速，保持适当距离。如有现场施工人员，要服从指挥，防止高空落物以及地面坑洼使行车受阻。夜间通过施工路段，**要注意红灯标志，必要时停车观察，切勿贸然行进**。

九、高速公路安全驾驶

高速公路的特点是全封闭、全立交、道路宽阔、视线良好。高速公路的这些特点对机动车驾驶人的心理素质和驾驶技术提出了更高的要求。

驾驶人要了解高速公路行驶的特点和行驶规则，在高速公路上行驶，不得有下列行为：

(1) 倒车、逆行、穿越中央分隔带掉头或者在车道内停车。

(2) 在匝道、加速车道或者减速车道上超车。

(3) 骑、轧车行道分界线或者在路肩上行驶。

(4) 非紧急情况时在应急车道行驶或者停车。

(5) 试车或者学习驾驶机动车。

1. 驶入收费口

在距离高速公路入口 500 米和 1000 米处分别设有高速公路起点预告标志，进入高速公路时，通常要经过收费站，所有车辆应按顺序领卡通行，然后才能进入高速公路。

为便于机动车随时驶入、驶出高速公路，每隔一段距离都配建匝道入口及加速车道和出口及减速车道。机动车从匝道入口进入高速公路时，应当开启左转向灯，在加速车道将车速提高到 60 公里 / 小时以上，在不妨碍高速公路内机动车正常行驶的情况下进入车道。

2. 匝道行驶

从支线进入高速公路，首先要看清高速公路上的交通情况，并正确估计高速公路上车辆的行驶速度。及时打开左转向灯，在不妨碍已在高速公路内的机动车正常行驶的情况下驶入车道。

不得在行车道上使用紧急制动，或由行车道突然猛拐进入出口匝道。

3. 加速车道行驶

在车辆驶入加速车道后，应开启左转向灯，迅速将车速提高到 60 公里 / 小时以上，行驶到加速车道路程一半以上时，在不妨碍行车道上正常行驶的车辆时，平稳地汇入行车道，不允许未经加速车道提速或刚刚驶入加速车道就急于并入行车道。

4. 汇入车流

在加速车道上加速，待车速与车流速度相适应后，看清车流情况，适时进入行车道。

5. 行车道的选择

目前我国的高速公路，多数每侧只设两条车道，右（外）侧为行车道，左（内）侧为超车道。车辆正常行驶应在右（外）侧的行车道上行驶，需要超车时，可进入左（内）侧的超车道进行超车，但超车完成后，应回到行车道行驶。

有的高速公路每侧设有三条车道，由外（右侧）向内起第一条为大型车道，供大型机动车行驶；第二条是小型车辆行驶的小车道；第三条

是超车道，供小型车超车时使用。大型机动车超车时可进入小型车道行驶，完成超车后应回到大型车道。

正常行驶的车辆不得骑、轧分道线，不允许进入路肩、加速车道或减速车道行驶。

6. 行车速度确认

经验证明，在高速公路行驶时，有多快的车速，就应保持不低于相应车速数值的车间距。如以 100 公里 / 小时的速度行驶时，与前车之间的距离应在 100 米以上，可以通过公路边的距离确认标志来判断。

通常行驶速度应控制在 80 ～ 120 公里 / 小时的范围，并且以本车道最高（设计）车速的 80% 行驶为好。车速也不能过低，以免影响其他车辆的正常行驶，发生事故。

7. 安全距离

行驶中要注意与前车及两侧车辆保持安全距离，车速超过 100 公里 / 小时时，应当与前车保持 100 米以上的距离，车速低于 100 公里 / 小时时，与同车道前车距离可以适当缩短，但是最小距离不得少于 50 米。横向安全间距不得小于 1.5 米。

8. 安全停车

不准在高速公路上随意停车，严禁任意停车上、下客和装卸货物。行车道、超车道、匝道、加速和减速车道上严禁停放车辆。

由于故障或其他特殊原因必须停车时，应立即打开右转向灯，稍向右转动转向盘，进入紧急停车带或路肩，同时松开加速踏板，使车辆逐渐减速并在紧急停车带或右侧的路肩上停放，同时在车后 150 米左右处设置明显标记，打开危险报警闪光灯。夜间必须打开示廓灯和后位灯。

9. 减速车道行驶

通常在距离高速公路出口 1000 米和 500 米处分别设有高速公路出口预告标志，看到标志后，应做好减速准备；接近高速公路出口 500 米处时，应提前打开右转向灯，根据情况松开加速踏板，逐渐降低车速，平顺地驶入减速车道，在进入匝道之前，将车速降到标志规定的车速后驶离。

第四节 紧急情况下避险常识

一、紧急情况通用避险

紧急情况下的避险原则：沉着冷静、先避人后避物。

轮胎漏气、突然爆胎、转向突然失控、制动突然失效、发动机突然熄火、侧滑、碰撞、倾翻、火灾、车辆落水的应急处置方法如下：

1. 轮胎漏气

慢慢制动减速，靠边停车检查。

2. 突然爆胎

①要握紧转向盘，不管车头向哪边偏，给个固定的纠正角度（与实际车速有关）并用力保持。

②不要采取紧急制动，让减速行为掌握在受控制的过程中并努力保持原来的行车轨迹，切忌急转转向盘纠正。

③如果是后胎爆裂，汽车的尾部会有不规则的剧烈摇摆。应双手紧握转向盘，使用“点刹”的方法，这样可以把汽车的重心前移，轮胎也不至于抱死，尽量使完好的前轮轮胎受力，减轻爆裂的后轮轮胎承受的负荷，将汽车缓慢停下。

④如果是前胎爆裂，要双手尽力控制转向盘，如果汽车大幅度偏左或偏右时，可立即矫正，同时放松加速踏板。这时如果踩制动踏板，很容易产生横滑以及更严重的偏离方向或者翻滚的情况。

3. 转向突然失效

①当车辆转向失控，行驶方向偏离，事故已经无可避免时，应尽快减速，极力缩短停车距离，减轻撞车力度。

②转向失控后，若车辆偏离直线行驶方向，应果断地连续踩踏、放松制动踏板，使车辆尽快减速停车。

4. 制动突然失效

①来回踩踏制动踏板，可以帮助恢复制动系统中的压力，有可能使

驻车制动系统恢复正常。

②降低挡位。

③利用驻车制动（手刹）来减速。

④以上几种办法都不奏效的话，只好寻找一切可以利用的障碍物了，比如两边树木、建筑物等。

5. 发动机突然熄火

①靠边停车。

②下车检查发动机舱。

③检查传动带，特别是正时带。

④检查电路。

⑤检查油路。

⑥检查冷却液温度。

6. 侧滑

①发生侧滑时，尽量避免使用制动，同时还需要使离合器保持接合状态，用发动机制动减速。

②如果是因制动而引起的，应立即停止制动，车辆向左侧滑就向左打转向盘，反之亦然，但动作不能太大，否则又会向相反方向侧滑。

③不能使用驻车制动，因为大部分车辆的驻车制动都是制动后轮的，更加容易发生侧滑。

7. 碰撞

①正面碰撞时，应紧急制动，以减少正面碰撞力。

②在迎面相撞发生的瞬间，迅速放开转向盘，并抬起双腿，身体侧卧于右侧座上，避免身体被转向盘抵住。

③发生被后车追尾碰撞事故时，驾驶人应紧靠椅背，双手迅速置于脑后合并护住头后部。

④通常，车辆的侧面碰撞安全防护性能明显弱于正面碰撞安全防护性能。车辆发生撞击的位置不在驾驶人一侧或撞击力量较小时，驾驶人应紧握转向盘，两腿向前蹬，身体向后紧靠座椅。

⑤发生侧面碰撞的部位无论在哪一侧，都不能采取跳车的方法。

8. 侧翻

①车辆向深沟连续翻滚时，身体应迅速躲向座椅前下方，抓住转向柱等将身体稳住，避免身体滚动受伤。

②发生缓慢翻车有可能跳车逃生时，应向翻车相反方向跳车。

③车辆突然发生侧翻时不得开启车门跳车。

④跳出车外落地后，应力争双手抱头顺势向惯性力的方向多滚动一段距离，以躲开车体，增大离开危险区的距离。

9. 机动车着火

机动车着火后应第一时间靠边停车，关闭汽车发动机，找到车载灭火器并离开车辆，关闭车门。请同乘人员拨打 119 报警。根据汽车着火的部位和火势阶段判断危险性，必要时应弃车逃离现场。

（1）汽车发动机舱着火时，禁止用手去打开发动机舱盖以免烫伤，要用干粉灭火器或泡沫灭火器对准火苗底部及车辆缝隙处喷射，然后用路边的土砂掩盖，使着火点隔绝空气。火势减弱后也不可以打开发动机舱盖，否则会促使着火点再次暴露于空气中。

（2）乘客舱部位着火时，立即关闭其他车门，用灭火器对准火苗底部喷射，直至灭火器喷尽。火势控制不住时弃车逃离。

（3）车辆行李箱着火可用灭火器也可用水压降温灭火，达到灭火效果。因距离燃油箱过近，不知火势的情况下抓紧撤离。

10. 车辆落水

①当车辆落水时，要尽量保持头脑冷静，利用驾驶室尚未完全进水的宝贵时间，迅速判断水面的方向，一般来说，有亮度的方向为水面方向，这时迅速摇开车窗，从车窗向水面方向逃生。

②车刚入水的时候不会马上沉下去，这时车的电路还能正常工作，驾驶人应当立即把车熄灭，然后打开车门出去。

③如果车进水很快，车辆在迅速下沉，这时的压强极大，已经打不开车门，就可以用锤子之类的东西打开车门或车窗。所以，建议驾驶人车内常备一些砸玻璃的锤子等可以自救的器械，以备不时之需。

④在从车里向外逃生时，要深呼吸几次，做好憋气潜水的准备，从

容地等待水将车厢和驾驶室灌满。当车里和车外水压基本相等或驾驶室里的水将要淹没头顶时再深吸一口气，破窗或推开车门潜游而出。出水后应认准轿车落水处，以便打捞。

二、高速公路紧急避险

紧急避险的原则：先避人后避物。发生“水滑”、雾天遇事故、意外碰撞护栏、遇到横风、紧急停车的应急处置措施如下：

1. “水滑”

稳住转向盘；降低车速；保持车距；别猛踩制动踏板。

2. 雾天遇事故

先派人在150米外设置警示标志，打开危险报警闪光灯和示廓灯，车上其余人员站到护栏以外安全的地方，等待救援。

3. 高速公路意外碰撞护栏

车辆在高速公路上意外撞击护栏时，应稳住转向盘，适当修正，切忌猛转转向盘。

4. 遇到横风

遇到横风时，正确的做法是迅速抬起加速踏板，握稳转向盘，适当地缓慢修正。当速度较快时，可以适当连续轻踏制动踏板，降低行驶速度，禁止使用紧急制动或猛打转向盘。

5. 紧急停车

在高速公路上发生故障需要停车检查时，应在应急车道停车，驾乘人员应迅速离开车辆，转移到车辆右后侧护栏以外的地方，等候救援。

第五节 道路交通事故现场救护及常见危化品处置常识

一、事故处置

在道路上发生交通事故，车辆驾驶人应当立即停车，保护现场；造成人身伤亡的，车辆驾驶人应当立即抢救受伤人员，并迅速报告执勤的交通警察或者公安机关交通管理部门。因抢救受伤人员变动现场的，应当标明位置。乘车人、过往车辆驾驶人、过往行人应当予以协助。

在道路上发生交通事故，未造成人身伤亡，当事人对事实及成因无争议的，可以立即撤离现场，恢复交通，自行协商处理损害赔偿事宜；不能立即撤离现场的，应当迅速报告执勤的交通警察或者公安机关交通管理部门。

在道路上发生交通事故，仅造成轻微财产损失，并且基本事实清楚的，当事人应当先撤离现场再进行协商处理。

伤员急救的基本要求：分清轻重缓急，先救命后救伤。要优先抢救危重伤者，如处于昏迷状态、大出血、呼吸困难、脏器脱出的伤员，后救护轻伤者（上肢骨折或颈椎损伤）。同一伤者，先救治生命，再处理局部伤口。

二、伤员自救、急救

1. 伤员急救的基本要求

首先应控制和制止大出血和疏通呼吸道，然后是固定脊椎和骨折肢体，最后可进行针对性的包扎和做心肺复苏等工作。

2. 昏迷不醒伤员的急救

在抢救前先检查呼吸。非专业医生不要随便搬动伤员。处于昏迷状态的伤员，应首先送往医院。搬运昏迷或有窒息危险的伤员时，应采取侧俯卧的方式。救助休克伤员时，应采取保暖措施，防止热损耗。如遇伤员无呼吸时，应立刻对伤员进行口对口人工呼吸。

3. 失血伤员的急救

先止血，再治伤。

4. 烧伤者的急救

迅速扑灭衣服上的火焰，**向身上喷冷水**，脱掉烧着的衣服。烧伤伤员口渴时，可**喝少量的淡盐水**。

5. 中毒伤员的急救

救助有害气体中毒伤员的急救措施是迅速将伤员移到有新鲜空气的地方。

6. 骨折伤员的处置

对于无骨端外露骨折伤员的肢体，用夹板或木棍、树枝等固定时应超过伤口上、下关节。

①关节损伤（扭伤、脱臼、骨折）的伤员，应避免活动。

②抢救脊柱骨折的伤员时，应用三角巾固定，保持脊柱稳定，严禁乱加搬动，勿扶持伤者走动。

③伤员大腿、小腿和脊椎骨折时，一般应就地固定，不要随便移动伤者。给骨折伤员固定伤处时力求稳妥牢固，要固定骨折的两端和上下两个关节。

7. 常用伤员止血方法

①抢救失血伤员时，应先进行止血。在紧急情况下急救伤员时，必须先用压迫法止血，然后再根据出血情况改用其他止血法。

②伤员较大动脉出血时，可采用指压止血法，用拇指压住伤口的近心端动脉，阻断动脉运动，达到快速止血的目的。

③颈总动脉压迫止血法，常在伤员颈部动脉大出血而采用其他止血方法无效时使用。

④伤员上肢或小腿出血，且没有骨折和关节损伤时，可采用屈肢加垫止血法止血（在腋窝或肘窝加垫屈肢固定）。

⑤包扎止血常用的物品有绷带、三角巾、止血带等。为伤员用绷带包扎打结时，不要在伤口上方，也不要在身体背后，以免睡觉时压住不

舒服。在没有绷带急救伤员的情况下，可用毛巾、手帕、床单、长筒尼龙袜子等代替绷带包扎。止血带止血是用弹性的橡皮管、橡皮带结扎，上肢结扎于伤员上臂上 1/3 处，下肢结扎于大腿的中部。用止血带为伤员止血，一定要扎紧，如果扎得不紧，深部动脉仍有血液流出。

三、常见危险化学品

常见危险化学品的特性：危险化学品具有爆炸、易燃、毒害、腐蚀、放射性等特性。

危险化学品运输中特殊情况的处理方法如下：

1. 易燃液体灭火方法

扑灭易燃液体火灾的最有效方法是采用泡沫。

撒漏处理：及时用砂土或松软材料覆盖吸附后，集中至空旷安全处处理。覆盖时，要注意防止液体流入下水道、河道等地方，以防污染环境。

2. 易燃固体、自燃物品和遇湿易燃物品灭火方法

根据易燃固体的不同性质，可用水、砂土、泡沫、二氧化碳、干粉灭火剂来灭火，**但必须注意：遇水反应的易燃固体不得用水扑救，如铝粉、钛粉等金属粉末应用干燥的砂土、干粉灭火器进行扑救**；有爆炸危险的易燃固体如硝基化合物禁用砂土压盖；遇水或酸产生剧毒气体的易燃固体，如磷的化合物和硝基化合物、氮化合物、硫黄等，燃烧时产生有毒和刺激性气体，严禁用硝酸泡沫灭火剂扑救，扑救时必须注意戴好防毒面具；赤磷在高温下会转化为黄磷，变成自燃物品，处理时应谨慎。

扑灭自燃物品火灾时要注意：**此类物品灭火时，一般可用干粉、砂土（干燥时有爆炸危险的自燃物品除外）和二氧化碳灭火剂灭火。与水能发生反应的物品如三乙基铝、铝铁溶剂等禁用水扑救**；黄磷被水扑灭后只是暂时熄灭，残留黄磷待水分挥发后又会自燃，所以现场应有专人密切观察，扑救时应穿防护服，戴防毒面具。

扑灭遇湿易燃物品时应注意：**此类物品发生火灾时，应迅速将未燃物品从火场撤离或与燃烧物进行有效隔离，用干砂、干粉进行扑救**；与酸或氧化剂等反应的物质，禁用酸碱和泡沫灭火剂扑救；活泼金属禁用二氧化碳灭火器进行扑救，应用苏打、食盐、氮或石墨粉来扑救；锂的

火灾只能用石墨粉来扑救。

撒漏处理：上述三类货物撒漏时，可以收集起来另行包装。收集的残留物不能任意排放、抛弃。对与水反应的撒漏物处理时不能用水，但清扫后的现场可以用大量水冲刷清洗。

3. 氧化剂和有机过氧化物灭火方法

有机过氧化物、金属过氧化物只能用砂土、干粉、二氧化碳灭火剂扑救；扑救时应佩戴防毒面具。

撒漏处理：在装卸过程中，由于包装不良或操作不当，造成氧化剂撒漏时，应轻轻扫起，另行包装，但不得同车发运，必须留在安全地方，对撒漏的少量氧化剂或残留物应清扫干净。

4. 毒害品和感染性物品灭火方法

扑灭毒害品及感染性物品火灾时应**注意：氰化物发生火灾时，不得用酸碱灭火器扑救，可用水及砂土扑救，灭火人员扑灭毒害品的火灾时应根据其性质采取相应的灭火方法**。扑救时尽可能站在上风方向，并戴好防毒面具。

撒漏处理：处理固体毒害品及感染性物品时，可在扫集后装入容器中；液体毒害品及感染性物品应用棉絮、锯末等松软物浸润，吸附后收集，盛入容器中。

5. 爆炸品灭火方法

用水冷到达到灭火目的，但不能采取窒息法或隔离法。**禁止使用砂土覆盖燃烧的爆炸品，否则会由燃烧转为爆炸**。扑救有毒性的爆炸品火灾时，灭火人员应佩戴防毒面具。

撒漏处理：对爆炸物品撒漏物，应及时用水湿润，再撒以锯末或棉絮等松软物品收集后，保持相当湿度，报请消防人员处理，绝对不允许将收集的撒漏物重新装入原包装内。

6. 压缩气体和液化气体灭火方法

将未着火的气瓶迅速移至安全处；对已着火的气瓶使用大量雾状水喷洒；**火势不大时，可用二氧化碳、干粉、泡沫等灭火器扑救**。

撒漏处理：运输中发现气瓶漏气时，特别是有毒气体，应迅速将气瓶移至安全处，并根据气体性质做好相应的防护。人站在上风处，将阀门旋紧。大部分有毒气体能溶解于水，紧急情况时，可用浸过清水的毛巾捂住口鼻进行操作，若不能制止，可将气瓶推入水中，并及时通知相关部门处理。

7. 腐蚀品灭火方法

无机腐蚀品或有机腐蚀品直接燃烧时，除具有与水反应特性的物质外，**一般可用大量的水扑救**。但宜用雾状水，不能用高压水柱直接喷射物品，以免飞溅的水珠带上腐蚀品灼伤灭火人员。

撒漏处理：液体腐蚀品应用干砂、干土覆盖吸收，扫干净后，再用水洗刷。大量溢出时可用稀酸或稀碱中和。中和时，要防止发生剧烈反应。用水洗刷撒漏现场时，只能缓慢地浇洗或用雾状水喷淋，以防水珠飞溅伤人。

第五章

科目四（安全文明驾驶常识）考试模拟题

科目四（安全文明驾驶常识）考试模拟题（一）

一、判断题

1. 如图所示的标志表示前方有分流车道，车辆应按箭头方向直行或驶出主车道。



答案：3

2. 如图所示的标志表示前方有合流车道，注意与驶入主车道的车辆保持安全距离。

答案：3

3. 如图所示的标志用于引导车辆驾驶人改变行驶方向。

答案：3

4. 如图所示是T形交叉路口标志。

答案：3

5. 如图所示，机动车在人行横道线前停车，后方机动车驾驶人要采取的正确做法是减速慢行或者停车。

答案：3

6. 驾驶机动车遇到这样的情况要提前减速或停车让行。　　答案：3

7. 驾驶机动车在狭窄坡道上会车时，上坡车让下坡车先行。　　答案：7

解析：应该是下坡车让上坡车先行。

8. 驾驶机动车遇下坡车已行至中途而上坡车还未上坡时，上坡车让下坡车先行。　　答案：3

9. 遇其他机动车发生交通事故急需帮助运送伤员时，应予以拒绝，让其耐心等待救护车。　　答案：7

解析：遇到这样的情况应当予以帮助，让伤者尽早接受治疗。

10. 遇道路上发生交通事故时，应尽快绕道或掉头躲避，千万不要去帮助运送伤员。　　答案：7

解析：遇到这样的情况应当予以帮助，让伤者尽早接受治疗。

11. 在隧道内超车时，由于空间狭小

要观察仔细迅速超越。　　答案：7

解析：隧道内不得超车，因此本题错误。

12. 遇窄桥时，要注意观察对向来车并提前做好停让准备，避免在桥面上会车。　　答案：3

13. 当机动车白天驶入黑暗隧道时，提前降低车速，使驾驶人适应光线变化。　　答案：3

14. 驾驶机动车通过漫水桥前要查明水的深度。　　答案：3

15. 驾驶机动车遇到跨江、河、海大桥时，要控制好方向加速通过。

答案：7

解析：应当减速慢行，并握稳转向盘，以免受横风影响，因此本题错误。

16. 行车中当机动车突然爆胎时，驾驶人切忌慌乱中急踏制动踏板，尽量采用抢挂低速挡的方法，利用发动机制动使机动车减速。　　答案：3

17. 行车中当突然爆胎时，驾驶人要双手紧握转向盘，尽力控制机动车直线行驶。　　答案：3

18. 机动车遇有急弯路时要在进入弯路后减速。　　答案：7

解析：遇到急弯路应当提前减速慢行，等到进入弯路后减速很容易发生侧滑或侧翻，因此本题错误。

二、单选题

1. 某日早上6时，冉某驾驶一辆大客车出发，连续行驶至上午11时，在宣汉县境内宣南路1公里处，坠于公路一侧垂直高度为8.5米的陡坎下，造成13人死亡、9人受伤。冉某的主要违法行为是什么？

A. 超速行驶

B. 不按交通标线行驶

C. 客车超员

D. 疲劳驾驶

答案：D

解析：连续驾驶机动车4小时不休息或休息时间小于20分钟者为疲劳驾驶。

2. 如图所示的标志的含义是什么？

A. 注意危险

B. 注意横风

C. 注意落石

D. 傍山险路

答案：B

3. 如图所示的标志的含义是什么？

A. 驼峰路

B. 房屋

C. 隧道

D. 村庄

答案：C

4. 驾驶机动车在这种情况下怎样礼让行人？

A. 等行人通过后再起步

B. 起步从行人前方绕过

C. 鸣喇叭告知行人让道

D. 不考虑行人直接起步

答案：A

5. 会车中遇到对方来车行进有困难需借道时怎么办？

A. 不侵占对方道路，正常行驶

B. 示意对方停车让行

C. 靠右侧加速行驶

D. 尽量礼让对方先行

答案：D

6. 行车中发现其他机动车陷入损坏路段而不能行驶时怎么办？

A. 尽快离开　　B. 尽力帮助

C. 改道行驶　　D. 绕行通过

答案：B

7. 行车中遇交通事故受伤者需要抢救时怎么办？

A. 及时将伤者送医院抢救或拨打急救电话

B. 尽量避开，少惹麻烦

C. 绕过现场行驶

D. 借故避开现场

答案：A

8. 驾驶机动车怎样经过公路跨线桥？

A. 加速行驶，尽快通过

B. 车速控制在 15 公里 / 小时以内

C. 按照标志限定速度行驶

D. 尽量靠桥中心行驶

答案：C

9. 驾驶机动车遇到这种情况怎样安全通过？

A. 靠右侧正常通过

B. 鸣喇叭，加速通过隧道

C. 停车礼让对面车先通过

D. 开前照灯告知对面车让行

答案：C

解析：隧道分为两种，单向行驶隧道和双向行驶隧道。

通过单向行驶隧道时，由于隧道内路面窄，无路肩，能见度差，因此，车辆在进入隧道前，应注意观察交通标志标线，严格按照信号灯指示通行，开启前照灯并减速行驶。

要注意观察对向有无来车，如发现有对向来车，应在隧道外靠右让行。

通过双向行驶隧道前，应开启近光灯，靠右侧行驶，会车时注意保持安全横向距离。

①通过隧道 100 米外开始减速，50 米时开启近光灯，尽量靠右侧车道行驶。

②进入隧道后注意隧道内的道路情况，按进入隧道的速度规定行驶，不得超速行驶。

10. 驾驶机动车怎样通过立交桥右转弯？

A. 过桥前向右进入匝道

B. 过桥后向右进入匝道

C. 过桥前左转进入匝道

D. 过桥后左转进入匝道

答案：A

解析：右转弯时在过桥前开启右转向灯进入匝道，因此本题选 A。

11. 驾驶机动车在山区道路怎样超车？

A. 选择较缓的下坡路段超车

B. 选择任意路段超车

C. 选择宽阔缓上坡路段超车

D. 选择较长下坡路段超车

答案：C

解析：在山路上超车时，应选择在宽阔的路段进行，在超车前要提前开启左转向灯，鸣喇叭，确认安全后超车。

12. 下长坡连续使用行车制动会造成什么不良后果？

A. 缩短发动机使用寿命

B. 驾驶人容易疲劳

C. 容易造成机动车倾翻

D. 制动器制动效果下降

答案：D

解析：下陡坡时应断续制动，用发动机的牵阻作用来降低车速，避免长时间使用制动，经常踩制动踏板（俗称刹车），容易导致制动不灵甚至失灵。

13. 驾驶机动车在山区道路遇到这种情况如何处理？

A. 各行其道加速交会

B. 紧靠路中心行驶

C. 保持正常车速行驶

D. 减速行驶

答案：D

解析：在山路会车时，应选择在宽阔的路段进行，靠近山体一侧的车要礼让外侧的车先行，如靠山体的一方车辆不让行，应当提前减速并选择安全的地方避让。在窄路会车时，应减速或停车。

14. 驾驶机动车在这种山区弯路怎样行驶？



A. 占对向车道行驶

B. 靠右侧减速行驶

C. 在道路中心行驶

D. 紧靠路右侧行驶

答案：B

解析：山区道路弯多路窄，经常是一边靠山，另一边临崖或傍河。行驶中要多鸣喇叭，尤其在弯道处，要时刻注意对面来车和路边的情况，主动避让，做到“减速、鸣喇叭、靠右行”。

15. 驾驶机动车在这种山区弯道怎样转弯最安全？

A. 靠弯道外侧行驶

B. 减速、鸣喇叭、靠右行

C. 借用对向车道行驶

D. 靠道路中心行驶

答案：B

解析：与第 14 题解析相同。

16. 发生这起事故的主要原因是什么？

A. 转弯角度太小

B. 转弯角度过大

C. 转弯车速过快

D. 没有把稳方向

答案：C

17. 客车在行驶中遇险时，驾驶人要怎么做？

A. 优先保护乘客人身安全

B. 先抢救财产

C. 根据情况进行抢救

D. 先抢救贵重物品

答案：A

18. 遇紧急情况避险时，要沉着冷静，坚持什么样的处理原则？

A. 先避人后避物

B. 先避物后避车

C. 先避车后避人

D. 先避物后避人

答案：A

解析：紧急情况下的避险原则：先避人后避物和控制方向。

19. 在高速公路上遇到紧急情况避险时需注意什么？

A. 采取制动措施减速

B. 向左侧转向避让

C. 迅速转动转向盘躲避

D. 向右侧转向避让

答案：A

解析：车辆在高速行驶状态下的紧急避险，应先制动减速，后转向避让。因为在高速时急转向，极易造成车辆侧滑或在离心力作用下的侧翻事故。

20. 轮胎气压过低时，高速行驶可能导致什么结果？

A. 气压不稳　　B. 气压增高

C. 行驶阻力减小　D. 爆胎

答案：D

解析：如果汽车在轮胎气压较低的状态下行驶，则随着胎压的下降，轮胎与地面的摩擦成倍增加，胎温急剧升高，轮胎变软，强度急剧下降。在这种情况下，如果车辆高速行驶，轮胎就会出现波浪变形而导致爆胎。

21. 轮胎气压过低时，高速行驶轮胎会出现波浪变形温度升高而导致什么情况发生？

A. 气压不稳　　B. 气压更低

C. 行驶阻力增大　D. 爆胎

答案：D

22. 避免爆胎的错误做法是什么？

A. 降低轮胎气压

B. 定期检查轮胎

C. 及时清理轮胎沟槽里的异物

D. 更换有裂纹或有很深损伤的轮胎

答案：A

解析：用降低轮胎气压的方法是不能避免爆胎的。正确的做法是定期检查轮胎，及时清理轮胎沟槽里的异物，更换有裂纹或有很深损伤的轮胎。

23. 伤员众多时，最后送往医院的是哪一类伤员？

A. 上肢骨折　　B. 大出血

C. 呼吸困难　　D. 肠管脱出

答案：A

解析：现场急救的基本要求：先救命后治伤，如处于昏迷状态、大出血、呼吸困难、脏器脱出的伤员，后救护轻伤者（上肢骨折或颈椎损伤）。同一伤者，先救治生命，再处理局部伤口。

24. 在事故现场抢救伤员的基本要求是什么？

A. 先治伤，后救命

B. 先救命，后治伤

C. 先帮助轻伤员

D. 后救助重伤员

答案：B

25. 抢救失血伤员时，要先采取什么措施？

A. 观察　　B. 包扎

C. 止血　　D. 询问

答案：C

26. 在没有绷带急救伤员的情况下，以下救护行为中错误的是什么？

A. 用手帕包扎

B. 用毛巾包扎

C. 用棉质衣服包扎

D. 用细绳缠绕包扎

答案：D

解析：包扎止血常用的物品有绷带、三角巾、止血带等。为伤员用绷带包扎打结时，不要在伤口上方，也不要在身体背后，以免睡觉时压住不舒服。在没有绷带急救伤员的情况下，可用毛巾、手帕、床单、长筒尼龙袜子等代替绷带包扎。止血带止血是用弹性的橡皮管、橡皮带，上肢结扎于伤员上臂上三分之一处，下肢结扎于大腿的中部。用止血带为伤员止血，一定要扎紧，如果扎得不紧，深部动脉仍有血液流出。

三、多选题

1. 如图所示的大货车如上路行驶，存在什么交通违法行为？

A. 不按规定安装后下部防护装置

B. 不按规定安装车身反光标识

C. 不按规定喷涂放大号

D. 不按规定安装机动车号牌

答案：ABCD

解析：大货车共有四项违法行为：不按规定安装机动车号牌、没有按规定安装后下部防护装置；不按规定安装车身反光标识；在车厢后部没有喷涂放大本车牌号。

2. 林某驾车以 110 公里 / 小时的速度在城市道路行驶，与一辆机动车追尾后弃车逃离被群众拦下。经鉴定，事

发时林某血液中的酒精浓度为 135.8 毫克 / 百毫升。林某的主要违法行为是什么？

A. 醉酒驾驶　　B. 超速驾驶

C. 疲劳驾驶　　D. 肇事逃逸

答案：ABD

解析：两条或两条以上的城市道路最高车速 70 公里 / 小时；醉酒肇事标准是每 100 毫升血液中乙醇含量 ≥ 80 毫克，林某已经达到 135.8 毫克 / 百毫升，属于醉酒驾车；更为恶劣的是肇事逃逸。

3. 周某夜间驾驶大货车在没有路灯的城市道路上以 90 公里 / 小时的速度行驶，一直开启远光灯，在通过一窄路时，因加速抢道，导致对面驶来的一辆小客车撞上右侧护栏。周某的主要违法行为是什么？

A. 超速行驶

B. 不按规定会车

C. 疲劳驾驶

D. 不按规定使用灯光

答案：ABD

解析：超速行驶，两条或两条以上的城市道路最高车速为 70 公里 / 小时；不按规定使用灯光，夜间会车须在距离对面来车 150 米以外互闭远光灯改用近光灯；窄路会车不遵守避让原则。

4. 机动车通过隧道时，禁止以下哪些行为？

A. 超车　　B. 停车

C. 掉头　　D. 变更车道

答案：ABCD

解析：严禁在隧道内变更车道、超车、掉头和随意停车，不宜在隧道内鸣喇叭，双向行驶的隧道内禁止使用远光灯。

5. 机动车行驶至转弯路段时，易引发事故的驾驶行为有什么？

A. 机动车占对向道行驶

B. 在弯道内急转转向盘

C. 在驶入弯道前不减速

D. 机动车靠路右侧行驶

答案：ABC

6. 行车中发动机突然熄火后，要采取什么措施？

A. 立即停车检修

B. 立即开启危险报警闪光灯

C. 将机动车移到不妨碍交通的地点停车

D. 放置故障车警告标志

答案：BCD

解析：行车中发动机突然熄火后，应立即开启危险报警闪光灯，将车辆移到不妨碍交通的地点停车，放置故障车警告标志牌后，再检查熄火原因。

科目四（安全文明驾驶常识）考试模拟题（二）

一、判断题

1. 如图所示，白色实线是车道边缘线，用来指示机动车道的边缘。

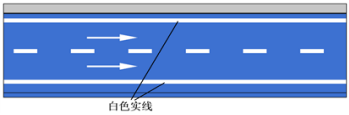

答案：3

2. 如图所示，白色标线框内的区域表示禁止车辆停放位置。

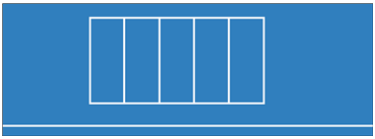

答案：7

解析：表示的应该是垂直式停车位。

3. 如图所示，白色左转导向虚线表示左转的机动车在导向线的右侧行驶。

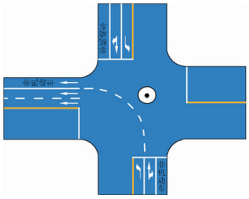

答案：7

解析：白色左转导向虚线，表示左转的机动车在导向线的左侧行驶。

4. 如图所示，路面上施划的导向箭头线表示车辆应该行驶的方向。

答案：3

5. 行车中遇儿童在路边玩耍，要提前减速，谨慎驾车通过。　答案：3

6. 在正常行车中，尽量靠近中心线或轧线行驶，不给对方机动车留有侵占行驶路线的机会。

答案：7

7. 驾驶人在行车中吐痰时，可通过车窗吐到道路或街道上。　答案：7

8. 行车中遇到盲人和其他行动不便的行人，应该减速慢行，必要时停车。　答案：3

9. 天气炎热，驾驶人可以赤背、光脚、穿拖鞋驾驶机动车。　答案：7

10. 行车中遇缺乏交通经验的行人时，应提高警惕，控制好车速，做好随时停车或让行的准备。

答案：3

11. 夜间行车，驾驶人的视野受限，很难观察到灯光照射区域以外的交通情况，因此要减速行驶。

答案：3

12. 夜间会车时，对面来车的灯光会造成眩目，驾驶人要减速行驶或者停车。　答案：3

13. 夜间会车时，若对向来车不关闭远光灯，交替使用远、近光灯提示对方。　答案：3

14. 夜间会车时，若对向来车不关闭远光灯，可开启远光灯以便于看清路面情况。　答案：7

解析：夜间驾驶机动车，在没有路灯照明不良的道路上，同向行驶且两车距离较近时，后车不得开启远光灯。对面有来车时，关闭远光灯。

15. 夜间跟车行驶时，后车可以使用远光灯。　答案：7

16. 夜间驾驶机动车在照明条件良好

的路段可以不使用灯光。　　答案：7

17. 车辆行至急转弯处时，应减速并靠右侧行驶，防止与越过弯道中心线的对方车辆相撞。　　答案：3

18. 在道路上跟车行驶时，跟车距离不是主要的，只须保持与前车相等的速度，即可防止发生追尾事故。

答案：7

解析：跟车原则是与前车保持紧急制动措施下的安全距离。

二、单选题

1. 某日 13 时 10 分，罗某驾驶一辆中型客车从高速公路 0 公里处出发，下午 14 时 10 分行至该高速公路 125 公里加 200 米处时，发生追尾碰撞，机动车驶出西南侧路外边坡，造成 11 人死亡、2 人受伤。罗某的主要违法行为是什么？

A. 超速行驶　B. 不按交通标线行驶

C. 客车超员　D. 疲劳驾驶

答案：A

解析：罗某在一小时内行驶了 125 公里 +200 米属于超速行驶。

2. 如图所示，车道分界线的作用是什么？

A. 用来分隔同方向行驶的车辆

B. 用来分隔反方向行驶的车辆

C. 用来分隔机动车、非机动车和行人

D. 用来分隔机动车和非机动车

答案：A

3. 如图所示的标线的含义是什么？

A. 行人横穿街道的标线

B. 行人横穿车行道的标线

C. 行人横穿铁路道口的标线

D. 行人横穿高速公路的标线

答案：B

4. 如图所示（后车开启左转向灯），前车遇到这种情况要如何处置？

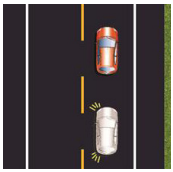

A. 迅速减速或紧急制动

B. 让出适当空间加速行驶

C. 主动减速并示意后车超越

D. 靠道路右侧加速行驶

答案：C

5. 驾驶机动车在这种情况下怎样做？

A. 从前车左侧超越

B. 占对向车道超越

C. 从前车右侧超越

D. 跟在前车后行驶

答案：D

6. 驾驶机动车遇到这种情况怎样行驶？

A. 减速让非机动车先行
B. 连续鸣喇叭告知让道
C. 从非机动车左侧绕过
D. 占对向车道加速超越

答案：A

7. 在这种情况下，被超机动车驾驶人怎样应对？

A. 鸣喇叭进行警告
B. 冷静减速或停车
C. 开远光灯抗议
D. 加速反超后告诫

答案：B

8. 驾驶机动车在路口遇到这种情况的行人怎么办？

A. 及时减速或停车让行
B. 鸣喇叭示意其让道
C. 加速从行人前通过
D. 开前照灯示意其让道

答案：A

9. 驾驶机动车在路口直行遇到这种情况怎么办？

A. 鸣喇叭示意其让行
B. 加速从车前通过
C. 开前照灯示意其让行
D. 减速或停车让行

答案：D

10. 在山区道路上行驶的大货车进入弯道前，要注意什么？

A. “减速、鸣喇叭、靠右行”
B. 靠弯道外侧行驶
C. 短时间借用对方的车道
D. 加速沿弯道切线方向通过

答案：A

解析：山区道路弯多路窄，经常是一边靠山，另一边临崖或傍河。行驶中要多鸣喇叭，尤其在弯道处，要时刻注意对面来车和路边的情况，主动避让，做到“减速、鸣喇叭、靠右行”

11. 在较窄的山路上会车时，如果靠山体的一方不让行，临崖一方要注意什么？

A. 向左占道，谨慎驶过
B. 选择安全的地方避让
C. 保持正常车速行驶
D. 鸣喇叭催其让行

答案：B

解析：在山路会车时，应选择在宽阔的路段进行，靠近山体一侧的

车要礼让外侧的车先行，如靠山体的一方车辆不让行，应当提前减速并选择安全的地方避让。在窄路会车时，应减速或停车。

12. 下长坡时，控制车速的正确方法是什么？

A. 空挡滑行

B. 挂低速挡

C. 踏下离合器踏板滑行

D. 使用驻车制动器

答案：B

解析：下坡时，汽车重心前移，惯性力变成下坡的驱动力，汽车行驶速度自行加快。坡越陡、越长，车越重，车速就越快，所以下长坡要尽量利用发动机的牵阻作用控制车速。

13. 遇下图情况机动车要注意什么？

A. 减速靠右行驶

B. 鸣喇叭加速

C. 挂空挡滑行

D. 靠左停车让行

答案：A

14. 抢救昏迷失去知觉的伤员需注意什么？

A. 马上实施心肺复苏

B. 使劲掐伤员的人中

C. 连续拍打伤员面部

D. 抢救前先检查呼吸

答案：D

解析：昏迷不醒伤员的急救：抢救前先检查呼吸。非专业医生不要随便搬动。处于昏迷状态的伤员，应首先送往医院。搬运昏迷或有窒息危险的伤员时，应采取侧俯卧的方式。救助休克伤员时，应采取保暖措施，防止热损耗。如遇伤员无呼吸时，应立刻对伤员进行口对口人工呼吸。

15. 对没有骨折或关节损伤的上肢或小腿出血伤员采用哪类止血法？

A. 止血带止血法

B. 屈肢加垫止血法

C. 加压包扎止血法

D. 压迫止血法

答案：B

解析：伤员上肢或小腿出血，且没有骨折和关节损伤时，可采用屈肢加垫止血法止血（在腋窝或肘窝加垫屈肢固定）。

16. 包扎止血不能用的物品是什么？

A. 绷带　　B. 三角巾

C. 止血带　　D. 麻绳

答案：D

17. 止血带止血是用弹性的橡皮管、橡皮带，上肢结扎于伤员上臂什么位置？

A. 上三分之一　　B. 上二分之一

C. 上三分之二　　D. 上四分之三

答案：A

解析：止血带止血是用弹性的橡皮管、橡皮带，上肢结扎于伤员上臂上三分之一处，下肢结扎于大腿的中部。

18. 救助全身燃烧伤员采取哪种应急措施？

A. 用沙土覆盖火焰灭火

B. 向身上喷冷水灭火

C. 用灭火器进行灭火

D. 帮助脱掉燃烧的衣服

答案：B

解析：烧伤者的急救：迅速扑灭衣服上的火焰，向身上喷冷水。烧伤伤员口渴时，可喝少量的淡盐水。

19. 救助有害气体中毒伤员，首先采取的措施是什么？

A. 采取保暖措施

B. 将伤员移到有新鲜空气的地方

C. 进行人工呼吸

D. 进行胸外心脏按压

答案：B

解析：救助有害气体中毒伤员的急救措施是迅速将伤员移到有新鲜空气的地方。

20. 行车中发现有需要援助的机动车时怎么办？

A. 减速停车，给对方以帮助

B. 加速通过

C. 不予理睬

D. 找理由拒绝

答案：A

21. 行车中遇其他驾驶人向自己询问路线时怎么办？

A. 不予理睬　　B. 耐心回答

C. 找理由拒绝　　D. 有偿回答

答案：B

22. 行车中遇有前方发生交通事故，需要帮助时怎么办？

A. 尽量绕道躲避

B. 立即报警，停车观望

C. 协助保护现场，并立即报警

D. 加速通过，不予理睬

答案：C

23. 行车中发现其他机动车有安全隐患时怎么办？

A. 尽快离开

B. 随其车后观察

C. 不予理睬

D. 及时提醒对方

答案：D

24. 如图所示，驾驶机动车遇到这种特殊情况怎样行驶？

A. 靠左侧减速让行

B. 靠右侧减速让行

C. 加速靠左侧让行

D. 保持原行驶路线

答案：A

25. 行车中遇抢救伤员的救护车从本车道逆向驶来时，要怎样做？

A. 靠边减速或停车让行

B. 占用其他车道行驶

C. 加速变更车道避让

D. 在原车道内继续行驶

答案：A

26. 在交叉路口有优先通行权的机动车，遇有其他机动车抢行时怎么办？

A. 抢行通过
B. 提前加速通过
C. 按优先权规定正常行驶不予避让
D. 减速避让，必要时停车让行

答案：D

三、多选题

1. 叶某驾驶中型厢式货车，行至陂头镇上汶线 3 公里加 600 米弯道路段时，以 40 公里 / 小时的速度与王某驾驶的乘载 19 人正三轮载货摩托车发生正面相撞，造成 10 人死亡、9 人受伤。双方驾驶人的主要违法行为是什么？

A. 叶某驾驶与准驾车型不符的机动车
B. 王某驾驶摩托车非法载客
C. 叶某超速行驶
D. 王某不按信号灯指示行驶

答案：BC

解析：弯道行驶速度不能超过 30 公里 / 小时，所以叶某超速；王某驾驶的是摩托车，属于非法载客。

2. 某日 19 时，杨某驾驶大客车，乘载 57 人（核载 55 人），连续行驶至次日凌晨 1 时，在金城江区境内 050 国道 3008 公里加 110 米处，因机动车左前胎爆裂，造成 12 人死亡、22 人受伤的特大交通事故。杨某的主要违法行为是什么？

A. 疲劳驾驶　　B. 客车超员
C. 超速行驶　　D. 操作不当

答案：AB

解析：题目提到连续行驶到次日凌晨 1 时，属疲劳驾驶。题目提到核载 55 人，却乘载了 57 人，属客车超员。

3. 唐某驾驶一辆大客车，乘载 74 人（核载 30 人），以 38 公里 / 小时的速度行至一连续下陡坡转弯路段时，机动车翻入路侧溪水内，造成 17 人死亡、57 人受伤。唐某的主要违法行为是什么？

A. 酒后驾驶　　B. 客车超员
C. 疲劳驾驶　　D. 超速行驶

答案：BD

解析：严重超员；连续下陡坡转弯路段，速度不能超过 20 公里 / 小时，所以超速。

4. 李某驾驶一辆大客车，乘载 21 人（核载 35 人），行驶途中察觉制动装置有异常但未处理，行至双岛海湾大桥时速度为 50 公里 / 小时（该路段限速为 40 公里 / 小时），因制动失灵坠入海中，造成 13 人死亡、8 人受伤。李某的主要违法行为是什么？

A. 超速行驶
B. 疲劳驾驶
C. 客车超员
D. 驾驶故障机动车

答案：AD

解析：（1）察觉制动装置有异常但未处理，所以为驾驶故障机动车。（2）行至双岛海湾大桥时速度为 50 公里 / 小时（该路段限速为 40 公里 / 小时），所以为超速行驶。此题注意

核载35人就是规定可以乘坐35个人，实际乘坐21人所以没有客车超员。

5. 在山区道路行驶时，驾驶人要注意什么？

A. 保持与前车的安全距离

B. 避免转弯时占道行驶

C. 上陡坡提前换低速挡

D. 下长坡时，充分利用发动机制动

答案：ABCD

6. 机动车避免爆胎的正确做法是什么？

A. 降低轮胎气压

B. 定期检查轮胎

C. 及时清理轮胎沟槽内的异物

D. 更换有裂纹或损伤的轮胎

答案：BCD

科目四（安全文明驾驶常识）考试模拟题（三）

一、判断题

1. 如图所示是两侧通行标志。

解析：表示的是右侧通行。

答案：7

2. 如图所示的标志的含义是确定主标志规定的时间范围。

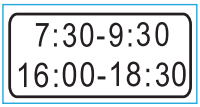

答案：3

3. 如图所示标志的含义是确定主标志规定车辆的种类。

答案：3

4. 如图所示的标志的含义是确定主标志规定区间距离为前方200米以外的路段。

答案：7

解析：表示距离某地200米。

5. 行车中对出现如图所示这种行为的人不能礼让。　答案：7

解析：虽然路人的行为是错误的，但是还是要以人的生命安全为第一。

6. 行车中遇到这种行人需要保持较大的安全距离。

答案：3

7. 驾驶机动车遇到这种情况时，要快速向左绕过。

答案：7

8. 突然出现这种情况，驾驶人要及

时减速或停车避让。　　答案：3

9. 驾驶机动车遇到这种情况的行人可连续鸣喇叭催其让道。　　答案：7

10. 驾驶机动车遇到行动不便的行人在路边准备过马路时，要提前加速通过。　　答案：7

11. 驾驶机动车遇到盲人横过道路时，要停车礼让。　　答案：3

12. 驾驶机动车在隧道内跟随前车行驶时要使用远光灯。　　答案：7

解析：在隧道内跟车应当用近光灯，用远光灯会影响其他车辆驾驶人的判断。

13. 严禁在隧道内变更车道、超车和随意停车。　　答案：3

14. 驾驶机动车到达隧道出口时要握稳转向盘，预防出口处的强横向风。　　答案：3

15. 驾驶机动车驶出隧道时切勿在眼睛的适应过程中盲目加速。　　答案：3

16. 车速较高前方发生紧急情况时，要先转方向避让，再采取制动减速，以减小碰撞损坏程度。　　答案：7

解析：应该先制动减速，后转向避让。

17. 机动车在高速行驶时，前面扬起的飞石或是遗撒物将前风窗玻璃击裂，造成视线模糊不清的状况下，驾驶人要逐渐降低车速、开启危险报警闪光灯并将机动车移至不妨碍交通的地点。　　答案：3

18. 紧急情况下避险始终要把人的生命安全放到第一位。　　答案：3

二、单选题

1. 何某驾驶一辆乘载 53 人的大客车（核载 47 人），行至宁合高速公路南京境内 454 公里加 100 米处，被一辆重型半挂牵引车追尾，导致大客车翻出路侧护栏并起火燃烧，造成 17 人死亡、27 人受伤。何某的主要违法行为是什么？

A. 超速行驶

B. 客车超员

C. 驾驶逾期未年检机动车

D. 操作不当

答案：B

解析：核载 47 人，实际乘载 53 人，超载。

2. 如图所示，黄色标线的含义是什么？

A. 车行道边缘线

B. 车行道分界线

C. 双向两车道路面中心线

D. 禁止变换车道线

答案：C

3. 如图所示，白色标线的含义是什么？

A. 车行道边缘线
B. 禁止变换车道线
C. 双向两车道路面中心线
D. 车行道分界线

答案：D

4. 驾驶机动车遇到前方机动车不减速、不让道的情况怎样做到礼让？

A. 加速从右侧超越
B. 连续鸣喇叭超越
C. 减速停止继续超车
D. 紧跟前车伺机再超

答案：C

5. 在交叉路口有优先通行权的机动车，遇有其他机动车抢行时怎么办？

A. 抢行通过
B. 提前加速通过
C. 按优先权规定正常行驶不予避让
D. 减速避让，必要时停车让行

答案：D

6. 驾驶机动车遇到这种情形怎么办？

A. 迅速从车左侧超越
B. 保持较大跟车距离
C. 连续鸣喇叭告知
D. 迅速从车右侧超越

答案：B

7. 驾驶机动车遇到这种情况怎么办？

A. 紧跟前车后方行驶
B. 迅速从车左侧超越
C. 保持较大跟车距离
D. 迅速从车右侧超越

答案：C

解析：左侧路面是黄色双实线，黄色双实线是不允许跨越的标线，加大跟车距离是因为前行货车上的遮挡布飞起来了，怕飞到自己车前影响本车视线。

8. 驾驶机动车看到路边有这种标志时怎样行驶？

A. 采取紧急制动
B. 减速注意观察
C. 断续鸣喇叭
D. 做好绕行准备

答案：B

解析：由图可知，前方道路是学校，要注意儿童，因此通过这样的道路时，要减速慢行，同时注意周围情况，必要时停车让行。

9. 驾驶机动车在交叉路遇到这种情况如何对待？

A. 直接进入路口内等待
B. 在路口停止

线外等待

C. 从右侧非机动车道通过

D. 借对向车道通过路口

答案：B

解析：由图可知，前方出现了堵塞，虽然是绿灯，但仍应在停车线外等候，以免影响其他车道的正常行驶。

10. 这两辆车相撞的主要原因是什么？

A. 小客车占对向车道

B. 小客车处置不当

C. 大客车速度过快

D. 大客车占对方车道

答案：D

解析：由图可知，前方大客车应当在靠山体的一侧行驶，但在中心线处发生的碰撞则可看出大客车是在中间行驶的，因此发生事故主要原因是大客车的责任。

11. 驾驶机动车在山区道路遇到这种情况怎样行驶？

A. 靠路左侧，加速绕行

B. 停车瞭望，缓慢通过

C. 注意观察，尽快通过

D. 勤鸣喇叭，低速通行

答案：C

解析：如图可知，前方是有落石的危险路段，因此要先注意观察，确认安全后尽快通过。

12. 夜间驾驶机动车遇到这种情况怎样使用灯光？

A. 临近时关闭前照灯

B. 使用近光灯

C. 使用远光灯

D. 提前关闭所有灯光

答案：B

解析：在没有中心隔离设施或者没有中心线的道路上，机动车遇相对方向来车时应当遵守下列规定：（1）减速靠右行驶，并与其他车辆、行人保持必要的安全距离。（2）在有障碍的路段，无障碍的一方先行；但有障碍的一方已驶入障碍路段而无障碍的一方未驶入时，有障碍的一方先行。（3）在狭窄的坡路，上坡的一方先行；但下坡的一方已行至中途而上坡的一方未上坡时，下坡的一方先行。（4）在狭窄的山路，不靠山体的一方先行。（5）夜间会车应当在距相对方向来车 150 米以外改用近光灯，在窄路、窄桥与非机动车会车时应当使用近光灯。

13. 驾驶机动车在山区道路怎样跟车行驶？

A. 紧随前车之后

B. 加大安全距离

C. 减小纵向间距

D. 尽快超越前车

答案：B

解析：山区道路复杂多变，因此跟车时也要非常注意。

14. 在普通道路驾车遇暴雨，刮水器无法改善驾驶人视线，此时要采取的措施是：

A. 减速行驶
B. 集中注意力谨慎驾驶
C. 立即减速靠边停驶
D. 以正常速度行驶

答案：C

解析：本题的关键“刮水器无法刮净雨水”，也就是说无法透过前风窗玻璃看清前方情况。在这样的情况下，只能靠边停车，否则很有可能在看不清路况时发生事故。

15. 最容易发生侧滑的路面是：

A. 干燥水泥路面
B. 下雨开始时的路面
C. 潮湿水泥路面
D. 大雨中的路面

答案：B

解析：这是需要认真理解的题目，对未来行车有重要作用。因为下雨开始的时候雨水和泥土混合成泥水，路面的摩擦力是最小的，大雨时已将路面泥土冲刷干净所以摩擦力比小雨时的路面大。

16. 后轮胎爆裂时，驾驶人要如何处置？

A. 迅速转动转向盘调整
B. 控制行驶方向并慢慢减速
C. 迅速向相反方向转动转向盘
D. 迅速采取制动措施

答案：B

解析：若是在行驶中突然打方向，车辆会飘或者翻侧的。用紧急制动有可能会发生侧滑或侧翻。

17. 前轮爆胎时，驾驶人控制住行驶方向后，要采取什么措施减速停车？

A. 抢挂高速挡　　B. 抢挂低速挡
C. 抢挂空挡　　D. 紧急制动

答案：B

18. 行车中发动机突然熄火怎样处置？

A. 紧急制动停车
B. 缓慢减速停车
C. 挂空挡滑行
D. 关闭点火开关

答案：B

解析：当发现发动机突然熄火后，立刻开启右转向车灯，缓慢减速停车到路边，取出停车警示牌安放在车后 50 米外。打电话等待救援。

19. 机动车不慎落水，车门无法开启时，可选择的自救方法是是什么？

A. 敲碎侧窗玻璃
B. 关闭车窗
C. 打电话求救
D. 用工具撬开车门

答案：A

20. 机动车行驶过程中起火，驾驶人错误的做法是什么？

A. 跳车逃离
B. 使用灭火器灭火
C. 将车停至空旷路段
D. 驾车远离加油站

答案：A

解析：跳车逃离很有可能会造成更大的危险，而且根据有关规定，这种情况下跳车是不允许的。

21. 雨天机动车在高速公路行驶发生“水滑”现象时怎样处置？

A. 急踏制动踏板减速
B. 缓抬加速踏板减速
C. 迅速转向进行调整
D. 提速增大车轮排水量

答案：B

解析："水滑"现象就是雨天汽车在积水路面上高速行驶时，轮胎与路面间的存水不能排除，水的压力使轮胎上浮，形成汽车在积水路面上滑行的现象。 选项A、C、D都有可能造成车辆侧滑等事故的发生，而通过缓抬加速踏板的方式减速才能真正让车渐渐减慢，因此本题选B。

22. 采用指压止血法为动脉出血伤员止血时，拇指压住伤口的什么位置？

A. 近心端动脉
B. 血管下方动脉
C. 远心端动脉
D. 血管中部

答案：A

解析：近心端就是靠近心脏方向的一端。动脉血管中血液的流动依靠心脏搏动来完成，如果动脉血管出血，压迫近心端血管就可以降低心脏对血液的传递，达到减少出血的目的。

23. 火药、炸药和起爆药属于哪类危险化学品？

A. 氧化性物质　　B. 易燃固体
C. 爆炸品　　D. 自燃物品

答案：C

解析：氧化性物质是指在有氧气的环境下会被氧化，发生化学反应，很明显这三类物质在空气中不会自己变化，所以不选A。 自燃物品肯定不准确，三类物质都是不会无缘无故自己燃烧的，所以不选D。 虽然这三类都很危险，但是并不易燃，都需要明火，只要需要明火点燃的都不是易燃物品，所以不选B。

24. 火柴、硫黄和赤磷属于哪类危险化学品？

A. 爆炸品　　B. 氧化性物质
C. 自燃物品　　D. 易燃固体

答案：D

解析：易燃固体是指在常温下以固态形式存在，燃点较低，遇火受热、撞击、摩擦或接触氧化剂能引起燃烧的物质。这三类物质正好符合，因此选D。

25. 下列属于危险化学品易燃固体的是什么？

A. 火柴　　B. 烟花
C. 电石　　D. 炸药

答案：A

解析：易燃固体是指在常温下以固态形式存在，燃点较低，遇火受热、撞击、摩擦或接触氧化剂能引起燃烧的物质。根据本题的四个选项，只有选项A火柴是符合的，因此选A。而B、C、D则是爆炸物，爆炸物泛指能够引起爆炸现象的物质，例如炸药、雷管、黑火药等。粉尘、可燃气体、燃油、锯末等在特定条件下引起爆炸的物质，广义上也属于爆炸物。

26. 液化石油气罐车在运输途中发生大量泄漏时，下列措施错误的是什么？

A. 切断一切电源
B. 戴好防护面具和手套
C. 关闭阀门制止渗漏
D. 组织人员向下风方向疏散

答案：D

解析：为了防止泄漏事件造成更大的伤害和损失，采取的措施应该是戴好防护面具和手套、切断一切电源、关闭阀门制止渗漏，并组织人员向上风方向疏散。 而本题考的是错误的措施，如此一来，只有选项D是错误的。不是往下风方向，而是应当往上风方向疏散。

三、多选题

1. 吴某驾驶一辆大客车，乘载33人（核载22人），行至163县道7公里加300米处时，机动车失控坠入山沟，造成10人死亡、21人受伤。事后经酒精检测，吴某血液酒精含量为26毫克/百毫升。吴某的主要违法行为是什么？

A. 超速行驶　　B. 客车超员

C. 疲劳驾驶　　D. 酒后驾驶

答案：BD

解析：乘载33人（核载22人），所以客车超员。吴某血液酒精含量为26毫克/百毫升，所以酒后驾驶。

2. 钱某驾驶大型卧铺客车，乘载45人（核载40人），保持40公里/小时以上的车速行至八宿县境内连续下坡急转弯路段处，翻下100米深的山崖，造成17人死亡、20人受伤。钱某的主要违法行为是什么？

A. 驾驶时接听手持电话

B. 超速行驶

C. 客车超员

D. 疲劳驾驶

答案：BC

解析：连续下陡坡转弯路段，速度不能超过20公里/小时，钱某的行为属超速，而且超员了5人。

3. 某日3时40分，孙某驾驶大客车（乘载54人、核载55人）行至随岳高速公路229公里加300米处，在停车下客过程中，被后方驶来李某驾驶的重型半挂机动车追尾，造成26人死亡，29人受伤。事后查明，李某从昨日18时许出发，途中一直未休息。双方驾驶人的主要违法行为是什么？

A. 孙某违法停车下客

B. 孙某客车超员

C. 李某超速

D. 李某疲劳驾驶

答案：AD

解析：（1）高速公路上不允许停车下客。（2）李某从昨日18时许出发，途中一直未休息，故属于疲劳驾驶。

4. 陶某驾驶中型客车（乘载33人），行至许平南高速公路163公里处时，以120公里/小时的速度与停在最内侧车道上安某驾驶的因事故无法移动的小客车（未设置警示标志）相撞，中型客车撞开右侧护栏侧翻，造成16死亡、15人受伤。双方驾驶人的主要违法行为是什么？

A. 陶某客车超员

B. 陶某超速行驶

C. 安某未按规定设置警示标志

D. 安某违法停车

答案：ABC

解析：中型客车最多载19人，所以超载选A。车速≥120公里/小

时就是超速，选 B。题目中提及未设置警示标志，选 C。

5. 机动车在夜间发生故障时，驾驶人要做什么以确保安全？

A. 选择安全区域停车

B. 开启危险报警闪光灯

C. 开启示廓灯和后位灯

D. 按规定设置警告标志

答案：ABCD

解析：《中华人民共和国道路交通安全法实施条例》第六十条：机动车在道路上发生故障或者发生交通事故，妨碍交通又难以移动的，应当按照规定开启危险报警闪光灯并在车后 50 米至 100 米处设置警告标志，夜间还应当同时开启示廓灯和后位灯。

6. 机动车在高速行驶中，突然爆胎要采取的安全措施是什么？

A. 紧急制动，靠边停车

B. 牢牢地握住转向盘，保持直行

C. 立即松开加速踏板

D. 轻踩制动踏板

答案：BCD

解析：如果采取紧急制动的方法，很容易出现侧翻事故，因此正确的做法应该是握紧方向，同时控制车速，慢慢停车。在此过程中，可以采取的措施则是 B、C、D。

科目四（安全文明驾驶常识）考试模拟题（四）

一、判断题

1. 如图所示，中心黄色虚实线表示实线一侧禁止车辆越线超车或向左转弯，虚线一侧不准许车越线超车或向左转弯。

答案：7

解析：虚线一侧可以左转弯，实线一侧不能越线超车或左转弯，因此本题错误。

2. 如图所示，中心圈是用以区分车辆大、小转弯，及交叉路口车辆左右转弯的指示，车辆不得压线行驶。

答案：3

3. 如图所示，路口中心黄色网状线用于告示驾驶人禁止在该区域内临时停车，防止交通阻塞。

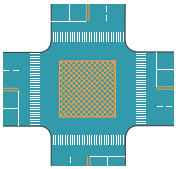

答案：3

4. 如图所示，路口中心黄色标线内为非机动车禁驶区，用于告示驾驶人禁止在该区域内临时停车。

答案：7

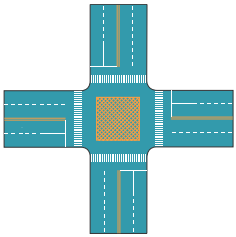

解析：此题前半句是对的，后半句错了。图中所示标线是“非机动车禁驶区标线”，用于告示驾驶人禁止在该区域内行驶。

5. 驾驶机动车遇到接听手机或注意力高度集中的行人，要在临近时鸣喇叭警示。　答案：7

解析：此题要注意遇到的是注意力高度集中的人，也就是说，此类人对于周围情况的变化来不及在第一时间做出反应，若等到临近时才鸣喇叭，那么就有可能行人还没反应过来就撞上了。　另外，要本着安全第一的原则，所以在遇到此类行人时，应当降低车速，并提前提醒。　因此本题错误。

6. 当行人出现交通违法行为时，机动车可以不给行人让行。　答案：7

7. 行车中遇故意不避让车辆的行人时，可连续鸣喇叭加速通过。　答案：7

8. 遇有注意儿童标志时，应加速通过，以防儿童突然横穿道路。　答案：7

9. 遇儿童在公路嬉戏打闹时，应连续鸣喇叭，快速通过。　答案：7

10. 驾驶机动车遇到牲畜跑向路中，要预防赶牲畜的人突然跑向路中。　答案：3

11. 在泥泞路段遇车后轮向右侧滑时应向右转向。　答案：3

12. 冰雪道路行车，由于积雪对光线的反射，极易造成驾驶人眩目。　答案：3

13. 在冰雪道路上行车时，机动车的稳定性降低，加速过急时车轮易空转或溜滑。　答案：3

14. 在冰雪路面上行车，必须降低车速、加大安全距离。　答案：3

15. 雪天行车中，在有车辙的路段要循车辙行驶。　答案：3

16. 装有转向助力装置的机动车，驾驶人突然发现转向困难，操作费力，要紧握转向盘保持低速行驶。　答案：7

解析：应该缓慢减速，安全停车。

17. 高速行驶的机动车，在转向失控的情况下使用紧急制动，不会造成翻车。　答案：7

解析：注意“高速行驶”，也就是说是车速过快的情况下，若是转向失控时使用紧急制动，很容易造成翻车，因此本题错误。

18. 机动车转向突然失控后，若前方道路条件能够保持直线行驶，不要使用紧急制动。　答案：3

二、单选题

1. 罗某驾驶大型卧铺客车（乘载 44 人，核载 44 人）行至沿河县境内 540 县道 58 公里加 500 米处时，在结冰路面以 44 公里 / 小时速度行驶，导致机动车侧滑翻下公路，造成 15 人死亡、27 人受伤。罗某的主要违法行为是什么？

A. 客车超员　　B. 超速行驶

C. 疲劳驾驶　　D. 操作不当

答案：B

解析：机动车行驶中遇有下列情

形之一的，最高行驶速度不得超过30公里／小时，其中拖拉机、电动车、轮式专用机械车不得超过15公里／小时：（1）进出非机动车道，通过铁路道口、急弯路、窄路、窄桥时；（2）掉头、转弯、下陡坡时；（3）遇雾、雨、雪、沙尘、冰雹，能见度在50米以内时；（4）在冰雪、泥泞的道路上行驶时；（5）牵引发生故障的机动车时。

2. 如图所示，白色菱形图案的含义是什么？

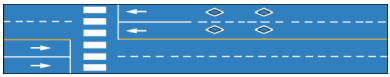

A. 减速让行线
B. 人行横道预告标示
C. 车距确认线
D. 禁驶区标线

答案：B

3. 如图所示，港湾式停靠站标线的含义是什么？

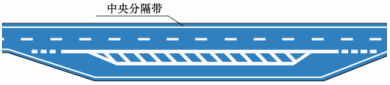

A. 公共电车、汽车（长途客车）长时间停车位
B. 公共电车、汽车（长途客车）靠边减速让行路段
C. 公共电车、汽车（长途客车）分离引道和停靠位置
D. 公共电车、汽车（长途客车）超车让行路段

答案：C

4. 驾驶机动车在拥堵的路口遇到这种情况怎样处置？

A. 逼其回原车道
B. 紧跟前车不让行
C. 礼让通行
D. 鸣喇叭开前照灯

答案：C

5. 驾驶机动车通过积水路面，且道路两侧有行人和非机动车通行时，正确的做法是什么？

A. 减速慢行，避免积水打湿两侧行人和非机动车
B. 保持正常速度行驶
C. 加速通过
D. 连续鸣喇叭提醒两侧行人和非机动车注意

答案：A

解析：通过积水路面要减速慢行。

6. 发现前方道路堵塞，正确的做法是什么？

A. 继续穿插绕行
B. 选择空当逐车超越
C. 鸣喇叭示意前方车辆快速行驶
D. 按顺序停车等候

答案：D

7. 驾驶机动车在这种情况下正确的做法是什么？

A. 低速跟在后面行驶
B. 连续鸣喇叭提醒

C. 保持安全距离超越

D. 鸣喇叭加速超越

答案：C

解析：如图所示，前方有来车，且同向前方有非机动车，因此在超车时要注意一定的安全距离。

8. 驾驶机动车遇到这种行人应该注意什么？

A. 在路中心行驶

B. 持续鸣喇叭

C. 加速超越

D. 注意观察动态

答案：D

解析：遇到这种情况，要注意行人的动向，避免行人突然改变行走方向。

9. 驾驶机动车突然遇到这种情况怎样做？

A. 减速或停车让行

B. 从行人前方绕行

C. 持续鸣喇叭提醒

D. 从行人后方绕行

答案：A

解析：遇到有行人横穿马路，还是跑动着的，必须要减速慢行，必要时停车，确保安全。

10. 驾驶机动车在山区道路因故障停车需要注意什么？

A. 选择下坡路段停放

B. 选择上坡路段停放

C. 选择平缓路段停放

D. 选择坡顶位置停放

答案：C

解析：停车时要尽可能选择安全的地点停车，而不管是上坡路、下坡路或是坡顶都有可能让所停车辆发生溜车。

11. 驾驶机动车在下坡路段停车怎样使用行车制动？

A. 比在平路时提前

B. 比在平路时推迟

C. 和平路时一样

D. 要轻踏制动踏板

答案：A

解析：下坡行驶时，在重力的作用下速度会逐渐提高，比平缓路段需要的距离长。

12. 上坡路段停车怎样使用行车制动？

A. 比在平路时提前

B. 比在平路时推迟

C. 和平路时一样

D. 要重踏制动踏板

答案：B

解析：汽车上坡行驶时，由于坡度阻力车速自然会降下来，与平缓路段相比较只需轻轻制动。

13. 下长坡控制车速最安全的方法是什么？

A. 挂入空挡滑行

B. 踏下离合器滑行

C. 利用发动机制动

D. 持续踏制动踏板

答案：C

解析：发动机制动有三个显著特点：一是由于差速器的作用，可将制动力矩平均地分配在左右车轮上，减少侧滑、甩尾的可能性；二是有效地减少行车制动的使用频率，避免因长时间使用制动器，导致制动器摩擦片的温度升高，使制动力下降，甚至失去作用；三是车速始终被限定在一定范围内，有利于及时降速或停车，确保行车安全。

14. 下长坡连续使用行车制动会造成什么不良后果？

A. 缩短发动机使用寿命

B. 驾驶人容易疲劳

C. 容易造成机动车倾翻

D. 制动器制动效果下降

答案：D

解析：持续用行车制动，会造成制动片发热，从而制动力减小，严重的会丧失制动，所以长下坡要用低挡，用发动机制动。

15. 驾驶机动车上坡行驶如何保持充足动力？

A. 在车速下降前减挡

B. 在车速下降后减挡

C. 在车速过低时减挡

D. 尽量使用越级减挡

答案：A

解析：车速慢了再换挡不容易前进甚至会熄火，造成溜车。

16. 行车中发现左侧轮胎漏气时怎样处置？

A. 慢慢制动减速

B. 迅速制动减速

C. 迅速向右转向

D. 采取紧急制动

答案：A

解析：当车辆漏气时，引起轮胎不正常工作，此时就应该减速并找安全的地方停车。迅速向右转向或是紧急制动都有可能造成爆胎等状况的发生，因此不可行。 选项 A 和 B 的差别在于是快还是要慢，若是动作过快也有可能造成爆胎，因此本题要选 A。

17. 机动车行驶中遇施工路段要注意什么？

A. 靠路右侧缓速通过

B. 按照路标和指示牌通行

C. 靠道路左侧缓慢通过

D. 左右均可，快速通过

答案：B

解析：《中华人民共和国道路交通安全法实施条例》第八十四条：机动车通过施工作业路段时，应当注意警示标志，减速行驶。

18. 行车中左后轮胎爆裂时怎样处置？

A. 使用驻车制动减速

B. 迅速向右转向

C. 控制方向减速停车

D. 采取紧急制动措施

答案：C

解析：若是在行驶中突然打方向，车子会飘或者侧翻的。用紧急制动或是驻车制动减速的方式也都有可能会发生侧滑或侧翻，因此本题要选 C。

19. 行车中轮胎突然爆裂时的应急措施是什么？

A. 迅速制动减速

B. 紧握转向盘，尽快平稳停车

C. 迅速转动转向盘调整方向

D. 低速行驶，寻找换轮胎地点

答案：B

解析：绝对不可以制动减速，此时车子重心偏向爆胎一边，制动会加剧重心偏移，造成翻车。 爆胎时要注意把握好方向，做适度修正。一般高速爆胎时，车子会急速偏向爆胎方向，此时若不能冷静处理，给予合适的方向修正力度，车子将无法保证行驶方向，在公路上来回摇动，这是非常危险的。

20. 当机动车转向失控行驶方向偏离，事故已经无可避免时，要采取什么措施？

A. 紧急制动

B. 迅速转向进行调整

C. 迅速向无障碍一侧转向躲避

D. 迅速向有障碍一侧转向躲避

答案：A

解析：除了选项A之外，三个选项都有可能因躲避或转向而造成另外的事故，比如与其他车辆擦碰或是撞到障碍物等。另外注意本题中“事故已经无可避免”这一句，也就是说事故是肯定会发生的，那么接下来要做的就是如何不让事故造成的损伤和损害变大，因此只有选项A是唯一的选择。

21. 驾驶装有动力转向的机动车发现转向困难怎样处置？

A. 停车查明原因

B. 控制转向缓慢行驶

C. 降低车速行驶

D. 保持机动车直线行驶

答案：A

解析：出现转向困难的情况，就说明有问题产生了，因此要停车检查是什么原因造成转向困难。

22. 抢救骨折伤员时注意什么？

A. 迅速抬上担架送往医院

B. 适当调整损伤时的姿势

C. 用绷带对骨折部位进行包扎

D. 不要移动身体骨折部位

答案：D

解析：面对骨折伤员，抢救时一定要确保不会造成二次伤害，即不能让骨折情况变严重或恶化，因此除了选项D之外，A、B、C都有可能造成二次伤害。

23. 怎样抢救脊柱骨折的伤员？

A. 采取保暖措施

B. 用软板担架运送

C. 用三角巾固定

D. 扶持伤者移动

答案：C

解析：应该是原地固定等待专业救护人员，脊柱骨折被移动很有可能导致高位截瘫。

24. 机动车发生撞击的位置不在驾驶人一侧或撞击力量较小时，驾驶人不正确的做法是什么？

A. 紧握转向盘

B. 两腿向前蹬

C. 从一侧跳车

D. 身体向后紧靠座椅

答案：C

解析：题目中说了，撞击位置不在驾驶人一侧或撞击力量较小时，

说明没有跳车的必要。不是万不得已都不要选择跳车。

25. 在车速较高可能与前方机动车发生碰撞时，驾驶人要采取什么措施？

A. 先制动减速，后转向避让

B. 急转方向向左避让

C. 急转方向，向右避让

D. 先转向避让，后制动减速

答案：A

解析：注意是车速较高的情况下，因此若是直接转向，就很有可能发生侧翻。

26. 行车中与其他机动车发生正面碰撞已不可避免时怎样处置？

A. 变正面碰撞为侧面碰撞

B. 向右急转转向盘躲避

C. 迅速采取紧急制动

D. 向左急转转向盘躲避

答案：C

解析：题中的前提已经明确说到不可避免正面碰撞，所以单纯地转动转向盘不能达到躲避的效果。 并且虽然通过转向由纵向转为侧向移动会有一定的减少碰撞力的效果，但是肯定是不会有 C 选项的效果好。所谓紧急制动，是指汽车在行驶过程中遇到紧急情况时，驾驶人迅速、正确地使用制动器，在最短距离内将车停住。若是盲目躲避，车速过快的话，容易发生更大伤害。

三、多选题

1. 邹某驾驶大型卧铺客车（核载 35 人，实载 47 人），行至京港澳高速公路 938 公里时，因乘车人携带的大量危险化学品在车厢内突然发生爆燃，造成 41 人死亡，6 人受伤。此事故中的主要违法行为是什么？

A. 客车超员

B. 携带危险物品

C. 超速行驶

D. 不按规定停车

答案：AB

解析：要点一：核载 35 人，实载 47 人；要点二：乘车人携带的大量危险化学品。

2. 杨某驾驶改装小型客车（核载 9 人，实载 64 人，其中 62 人为幼儿园学生），行至榆林子镇马槽沟村处，占用对向车道逆行时与一辆重型自卸货车正面碰撞，造成 22 人死亡、44 人受伤。该起事故中的主要违法行为是什么？

A. 货车超速行驶

B. 非法改装机动车

C. 客车超员

D. 客车逆向行驶

答案：BCD

解析："改装小型客车"，所以为非法改装机动车；"核载 9 人，实载 64 人"，所以为客车超员；"占用对向车道逆行时"，所以为客车逆向行驶。

3. 戚某驾驶大客车，乘载 28 人（核载 55 人），由南向北行至一无交通信号控制的交叉路口，以 50 公里 / 小时的速度与由东向西行至该路口李某驾驶的重型半挂牵引车（核载 40 吨，实载 55.2 吨）侧面相撞，造成 12 人死亡、17 人受伤。此事故中的主要违法行为是什么？

A. 客车超员

B. 客车超速行驶

C. 货车超载

D. 货车驾驶人经验不足

答案：BC

解析：乘载 28 人（核载 55 人），说明客车并未超员；行至一无交通信号控制的交叉路口，以 50 公里 / 小时的速度行驶，超速；核载 40 吨，实载 55.2 吨，说明货车超载；题目中并无与货车驾驶人经验相关的内容，因此正确答案为 BC。

4. 彭某驾驶一辆重型半挂牵引车，载运 37.7 吨货物（核载 25 吨），行至大广高速公路一下坡路段，追尾碰撞一辆由李某驾驶在应急车道内行驶的重型自卸货车（货箱内装载 3.17 立方黄土并搭乘 24 人），造成 16 人死亡、13 人受伤。此事故中的主要违法行为是什么？

A. 彭某超速行驶

B. 彭某超载

C. 李某在应急车道内行驶

D. 李某货车车厢内违法载人

答案：BCD

解析：载运 37.7 吨货物（核载 25 吨），故超载；货箱内装载 3.17 立方黄土并搭乘 24 人，故李某货车车厢内违法载人；“在应急车道内行驶的重型自卸货车”，故李某在应急车道内行驶。

5. 机动车高速行驶中出现转向失控时，驾驶人要如何处置？

A. 紧急制动

B. 抢挂低速挡

C. 合理使用行车制动和驻车制动，避免紧急制动

D. 开启危险报警闪光灯

答案：BCD

解析：车辆在高速行驶状态下，使用紧急制动，是容易翻车的。因此发生转向失控时，应当要减速，并开启危险报警闪光灯，并注意制动的使用。

6. 雨天安全行车的注意事项是什么？

A. 避免紧急制动、紧急转向

B. 保持足够的安全距离

C. 注意非机动车和行人动态

D. 选择安全车速行驶

答案：ABCD

解析：雨天行车，受视线及路面的影响，要减速慢行，同时要注意行车和非机动车的动态，并与其他车辆保持较大的安全距离，也不能采取紧急制动或是急转向的方法，因为容易造成侧滑或横滑状况。

科目四（安全文明驾驶常识）考试模拟题（五）

一、判断题

1. 如图所示，斑马状导流线表示车辆应按规定的路线行驶，但可以压线或越线。



答案：7

解析：导流线的形式主要为一个或几个根据路口地形设置的白色V形线或斜纹线区域，表示车辆必须按规定的路线行驶，不得压线或越线行驶，主要用于过宽、不规则或行驶条件比较复杂的交叉路口，立体交叉的匝道口或其他特殊地点。

2. 如图所示，黄色虚线内的专用车道用以指示仅限于某车种行驶，其他车种可借道超车或长距离行驶。

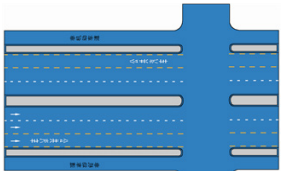

答案：7

解析：既然是专用车道，其他车辆当然不能借道超车或是长距离行驶。

3. 如图所示的地面标识表示出租车专用上下客车位，其他车辆可临时停车。

答案：7

解析：此标志表示仅允许出租车短时停车上下客，因此其他车辆不能临时停车。

4. 如图所示的路面标识为速度限制标记，用于限制车辆最高行驶速度或最低行驶速度。

答案：3

5. 驾驶机动车在这样的路段要注意观察，随时避让横过道路的野生动物。

答案：3

6. 驾驶机动车遇到牲畜横穿抢道的情况，要及时鸣喇叭进行驱赶。

答案：7

解析：连续鸣喇叭，会让牲畜们慌乱，会造成更大的交通问题。正确的做法应该是要低速让行，必要时停车让行。

7. 驾驶机动车在这种情况下要尽快加速通过。 答案：7

解析：由图可知，应该是刚下过雨的路面，湿滑路面行驶要注意减速慢行，而且在超越非机动车时要注意不要溅水，因此本题错误。

8. 驾驶机动车遇到成群的青少年骑自行车时，可连续鸣喇叭迅速超越。

答案：7

9. 驾驶机动车通过十字立交桥左转弯，要在过桥前开启右转向灯进入右侧匝道。 答案：7

解析：车辆行经立交桥左转弯时，应驶过桥后向右转弯进入匝道，再右转弯完成。

10. 驾驶机动车通过立交桥转弯时，要距出口 50 ～ 100 米降低车速，开启右转向灯。 答案：3

11. 驾驶机动车通过简易桥梁前要下

车进行观察。　答案：3

12. 驾驶机动车通过山区跨涧公路大桥不会受到强横向风影响。　答案：7

解析：注意是“山区跨涧公路大桥”，涧是有空隙的，因此还是会受到横风的影响。

13. 驾驶人发现轮胎漏气，将机动车驶离主车道时，不要采用紧急制动，以免造成翻车或后车采取制动不及时导致追尾事故。　答案：3

14. 行车中发现轮胎漏气要及时采取紧急制动。　答案：7

解析：当车辆漏气时，引起轮胎不正常工作，若是采取紧急制动的方式，很有可能会造成爆胎，甚至是车辆倾翻，因此本题错误。

15. 驾驶人发现轮胎漏气时，应迅速制动减速，将车辆尽快驶离行车道，停放在路边安全地点。　答案：7

解析：当车辆漏气时，引起轮胎不正常工作，“采取制动减速，将车辆尽快驶离行车道，停放在路边安全地点”的方式是可行的，但本题却用“迅速”两个字，而这样做很有可能造成爆胎，甚至是侧翻，因此本题错误。

16. 机动车在高速公路意外撞击护栏时，有效的保护措施是向相反方向大幅度转向。　答案：7

解析：这样做容易造成车子侧翻或倾翻，因此正确的做法是握紧转向盘，适当修正。

17. 机动车在高速公路意外撞击护栏时，要稳住方向，适当修正，切忌猛转转向盘。　答案：3

18. 行车中遇到无法避免的与来车正面相撞时，要迅速向有利于自己的一侧转向躲避。　答案：7

解析：不能盲目躲避，而是应该握紧转向盘，紧急制动。

二、单选题

1. 徐某驾驶一辆中型客车，乘载27人，行至四都镇前岭村壶南头路段，在上坡过程中，机动车发生后溜驶出路外坠入落差约80米的山崖，造成11人死亡、7人受伤。徐某的主要违法行为是什么？

A. 疲劳驾驶　　B. 酒后驾驶

C. 客车超员　　D. 超速行驶

答案：C

解析：中型客车核载10人以上19人以下。

2. 驾驶机动车遇到这种情况要如何行驶？

A. 低速缓慢通过

B. 加速通过

C. 连续鸣喇叭通过

D. 保持正常车速通过

答案：A

解析：遇到这样的情况要低速慢行，以免水花溅到周围的行人。

3. 驾驶机动车遇到这样的情景怎样行驶？

A. 连续鸣喇叭

B. 快速通过

C. 减速慢行

D. 从一侧绕行

答案：C

解析：遇到这样的情况要减速慢行，必要时停车避让，以免孩子们突然跑动被撞伤。

4. 驾驶机动车看到这样的儿童怎样行驶？

A. 紧跟在后面行驶

B. 从左侧加速让过

C. 鸣喇叭示意让道

D. 减速或停车避让

答案：D

解析：遇到这样的情况要减速慢行，必要时停车避让，以免孩子从滑板上掉下来或是移动位置。

5. 驾驶机动车遇到这样的行人怎样礼让？

A. 加速从前方绕过

B. 加速从身后绕行

C. 减速或停车让行

D. 连续鸣喇叭提醒

答案：C

解析：遇到这种情况要减速慢行，必要时停车让行。

6. 驾驶机动车遇到这样的行人怎样行驶？

A. 从其前方绕过

B. 从其身后绕行

C. 鸣喇叭提醒

D. 主动停车礼让

答案：D

解析：遇到这种情况要减速慢行，必要时停车，让其先通过。

7. 如图所示，限制速度标记的含义是什么？

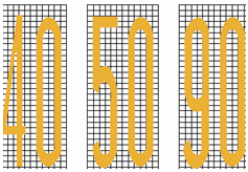

A. 平均行驶速度标准

B. 最低行驶速度，不得低于标记所示规定

C. 最高行驶速度，不得 超过标记所示规定

D. 设计时速标准

答案：C

解析：既然是限制速度标记，当然是提醒驾驶人不能超过标出的车速。

8. 如图所示，白色双实线的含义是什么？

A. 禁止停车

B. 停车

C. 非机动车停车

D. 停车让行

答案：D

解析：单直线是停止线，双直线是停车让行。

9. 夜间驾驶机动车遇到这种情况时怎样处理？

A. 保持正常车速行驶

B. 高速行驶避开灯光

C. 减速或停车让行

D. 开启远光灯对射

答案：C

解析：由图可知，对向来车开着远光灯，此时不要意气用事，而是为了安全考虑，要减速或停车让行，避免会车时发生意外。

10. 夜间行车中，机动车前方出现急转弯或大坑，灯光照射如何变化？

A. 由远及近　　B. 离开路面

C. 距离不变　　D. 由高变低

答案：B

11. 夜间行车中，前方出现弯道时，灯光照射如何变化？

A. 距离不变

B. 由高变低

C. 离开路面

D. 由路中移到路侧

答案：D

解析：在平直的路面时，灯光距离不变；出现一般的弯道时，灯光也跟着转弯，从路中移至路侧；当上坡时，灯光随着车的上行由高变低；当出现急弯或大坑时，灯光随着车的颠簸离开路面。

12. 夜间驾驶机动车遇到这种情况怎样超车？

A. 开远光灯

B. 交替使用远近光灯

C. 开近光灯

D. 开危险报警闪光灯

答案：B

解析：《中华人民共和国道路交通安全法实施条例》第四十七条：机动车超车时，应当提前开启左转向灯，变换使用远、近光灯或者鸣喇叭。

13. 夜间会车要在距对方来车多少米以外改用近光灯？

A. 30　　B. 50

C. 100　　D. 150

答案：D

解析：中华人民共和国道路交通安全法实施条例》第四十八条：在

没有中心隔离设施或者没有中心线的道路上，机动车遇相对方向来车时应当遵守下列规定：夜间会车应当在距相对方向来车150米以外改用近光灯，在窄路、窄桥与非机动车会车时应当使用近光灯。

14. 夜间驾驶机动车超车遇前车不让路时怎样处置？

A. 连续鸣喇叭提示

B. 开远光灯尾随行驶

C. 保持距离等待让行

D. 连续变换前照灯远、近光

答案：C

解析：遇到前车不让路时，只能等到前车让路了才能超车，否则容易发生危险，因此本题选C。

15. 夜间机动车灯光照射离开路面是什么原因？

A. 进入一侧有山体的弯道

B. 前方到达坡道的低谷

C. 前方出现急转弯或大坑

D. 由缓下坡道进入陡坡

答案：C

16. 夜间机动车灯光照射由路中移到路侧是什么原因？

A. 进入下坡道

B. 上坡驶到坡顶

C. 驶上上坡道

D. 前方出现弯道

答案：D

17. 行车中遇到转向失控，行驶方向偏离时怎样处置？

A. 迅速转向调整

B. 尽快减速停车

C. 向无障碍一侧躲避

D. 向有障碍一侧躲避

答案：B

解析：除了选项B之外，都有可能在躲避或转向过程中发生事故，比如与其他车辆或者障碍物发生碰撞等。

18. 驾驶人发现转向不灵活时，错误的做法是什么？

A. 应尽快减速停车

B. 在安全地点停车

C. 继续驾驶

D. 停车查明原因

答案：C

解析：发现转向不灵活时若是继续驾驶，而不是停车找原因的话，很有可能会发生状况。

19. 转向失控后，若车辆偏离直线行驶方向，应怎样使车辆尽快减速停车？

A. 轻踏制动踏板

B. 拉紧驻车制动器操纵杆

C. 迅速抢挡减速

D. 果断地连续踩踏、放松制动踏板

答案：D

解析：果断地连续踩踏、放松制动踏板，也就是连续地点制动。如果直接踩死的话，轮胎抱死，还不是直线行驶，车就会旋转，高速的话就会翻车，很危险的，所以要点制动。

20. 高速行驶的车辆，在转向失控的情况下使用紧急制动，很容易造成什么后果？

A. 侧滑　　B. 翻车

C. 车向前移　　D. 爆胎

答案：B

解析：侧滑是翻车的基础。按题所说，高速行驶，使用紧急制动，车先侧滑，然后翻车。所以说，车的最终还是翻车，而不是侧滑。

21. 高速行车中制动突然失灵时，驾驶人要如何制动？

A. 连续踩踏制动踏板

B. 抢挂低速挡，使用驻车制动

C. 迅速踏下离合器踏板

D. 迅速拉紧驻车制动器操纵杆

答案：B

解析：没有制动时首先做的是减挡，这是一个需要练习才可以完成的动作，第一，减到 2 挡或者是 3 挡，第二，慢慢拉起驻车制动器操纵杆，不可拉死，后轮拉死会甩尾，事故更大。第三，抓好方向，抓住一切可以减速的机会，减挡成功后不可踩离合器。

22. 下坡路行车中制动突然失效怎样处置？

A. 可利用避险车道减速停车

B. 越二级挡位减挡

C. 挂倒挡迫使停车

D. 拉紧驻车制动器减速

答案：A

解析：制动突然失灵时，摩擦力特别能显神奇功效。可用车前保险杠、车厢等钢性部位与路边岩石、大树或土坡摩擦、碰撞，在不威胁乘车人安全的情况下强行停车。这样，虽对车会造成损害，但可减少交通事故发生率。

23. 驾驶机动车遇到这种情况怎样进入行车道？

A. 控制速度随尾车后进入

B. 加速从第二辆车前进入

C. 加速从第一辆车前进入

D. 可从任意两车之间插入

答案：A

解析：根据图来看，三辆车之间的距离是安全距离，首先排除穿插在车之间进入行车道，因为插入的话容易发生擦碰等事故。如此一来就只有选项 A 是正确的。

24. 下坡路制动突然失效后，不可采用的办法是什么？

A. 将车辆向上坡道方向行驶

B. 用车身靠向路旁的岩石或树林碰擦

C. 利用道路边专设的避险车道停车

D. 拉紧驻车制动器操纵杆或越二级挡位减挡

答案：D

解析：利用重力作用增大汽车前进阻力，就是上坡时停止动力供应后车速逐渐下降，也可以使用发动机制动，但使用驻车制动器作用很小，是不正确的。

25. 大雾天在高速公路遇事故不能继续行驶时怎样处置？

A. 车上人员要迅速从左侧车门离开

B. 在来车方向 100　米处设置警告标志

C. 开启危险报警闪光灯和远光灯

D. 车上人员站到护栏以外安全的地方

答案：D

解析：当车辆发生故障时，打开危险报警闪光灯，应将车辆停放在最右侧的应急车道或紧急停车带内，夜间打开尾灯、示宽灯，驾乘人员应立即下车，在路沿下护坡内等候（尽量远离高速公路路面、护栏）救援车辆、人员，由一个人在车辆尾部 150 米左右放置三角警示牌或警示物（最好隔十米左右放置一个警示物），切记不能在高速公路内走动、追逐、等候。不能在故障车辆内等候。一般情况禁止在高速公路上修理车辆。

26. 驾驶机动车遇到这种情形应该注意什么？

A. 预防机动车侧滑

B. 预防行人横穿

C. 尽快加速通过

D. 持续鸣喇叭

答案：B

三、多选题

1. 驾驶机动车通过学校时要注意什么？

A. 观察标志标线　B. 减速慢行

C. 不要鸣喇叭　D. 快速通过

答案：ABC

解析：在有学校的路段一般都会设置提醒有学校或是禁止鸣喇叭的交通标志，因此在经过学校时不仅要观察交通标志，还要记住不得鸣喇叭。另外，由于学校周围会有学生走动，因此在途经时车速一定要慢，避免撞到人或其他。

2. 为确保机动车在高速公路行驶的安全，不得有下列哪些行为？

A. 倒车逆行，穿越中央分隔带掉头，或在车道 内停车

B. 骑轧车行道分界线或者在路肩上行驶

C. 在匝道、加速车道或者在减速车道上超车

D. 试车或者学习驾驶机动车

答案：ABCD

解析：根据《中华人民共和国道路交通安全法实施条例》第八十二条，机动车在高速公路上行驶，不得有下列行为：（1）倒车、逆行、穿越中央分隔带掉头或者在车道内停车；（2）在匝道、加速车道或者减速车道上超车；（3）骑、轧车行道分界线或者在路肩上行驶；（4）非紧急情况时在应急车道行驶或者停车；（5）试车或者学习驾驶机动车。

3. 机动车在高速公路上行驶，遇有雾、雨、雪且能见度在 100 米至 200 米之间时，应该怎么做？

A. 开启雾灯、近光灯、示廓灯、前后位灯

B. 车速不超过 60 公里 / 小时

C. 与同车道前车保持 100 米以上的距离

D. 从最近的出口尽快驶离高速公路

答案：ABC

解析：根据《中华人民共和国道路交通安全法实施条例》第八十一条，机动车在高速公路上行驶，遇有雾、雨、雪、沙尘、冰雹等低能见度气象条件时，应当遵守下列规定：能见度小于200米时，开启雾灯、近光灯、示廓灯和前后位灯，车速不得超过60公里/小时，与同车道前车保持100米以上的距离。

4. 机动车因故障必须在高速公路上停车时，要采取的正确做法是什么？

A. 在车后150米处设置故障警告标志

B. 在车后100米处设置故障警告标志

C. 夜间要开启示廓灯和后位灯

D. 要开启危险报警闪光灯

答案：ACD

解析：在高速公路上因故障停车，首先要开启危险报警闪光灯，若是夜间的话，还要开启示廓灯和后位灯让其他驾驶人知道车子的轮廓及位置情况。此外，还要在车后150米处设置警示标志。

5. 有效预防机动车发生制动失效的措施是什么？

A. 定期维护制动系统

B. 行车前检查制动踏板的自由行程

C. 正确使用制动，防止热衰退

D. 行车前检查制动液是否有滴漏

答案：ABCD

解析：四个选项都是对制动系统等的检查，通过检查，可预防机动车制动失效的发生。

6. 机动车在行驶中突遇制动失灵时，驾驶人要采取什么措施？

A. 握稳方向

B. 使用驻车制动器减速

C. 抢挂低速挡减速

D. 开启危险报警闪光灯

答案：ABCD

解析：机动车在行驶中突遇制动失灵时，应当握稳方向并开启危险报警闪光灯，抢挂低速挡减速，停车后使用驻车制动器，以防车子出现后溜的情况。使用驻车制动器减速，是说慢慢使用制动器减速，而不是一下拉紧。

参 考 文 献

【1】本书编写组．新驾考·笔试考点+解析[M]．北京：机械工业出版社，2013.
【2】庞永华．新驾考·笔试题库+精讲[M]．北京：机械工业出版社，2013.
【3】张发明．轻轻松松考驾照[M]．北京：机械工业出版社，2013.
【4】范立．怎样轻松考取驾驶证[M]．北京：机械工业出版社，2013.
【5】王淑君．轻松学车考证[M]．北京：化学工业出版社，2013.
【6】本书编写组．机动车驾驶人考试[M]．北京：中国人民公安大学出版社，2013.
【7】孙晋华．机动车驾驶人考试必读与试题精炼[M]．北京：机械工业出版社，2013.



地址：北京市百万庄大街22号
邮政编码：100037
电话服务
服务咨询热线：010-88361066
读者购书热线：010-68326294
010-88379203
网络服务
机工官网：www.cmpbook.com
机工官博：weibo.com/cmp1952
金书网：www.golden-book.com
教育服务网：www.cmpedu.com
封面无防伪标均为盗版

扫一扫，
机械工业出版社微信公众号 更多汽车精品图书供你选！

上架指导 交通运输／学车考证

ISBN 978-7-111-53859-2
策划编辑◎连景岩 杜凡如／封面设计◎马精明 定价：39.90元

ISBN 978-7-111-53859-2
9 787111 538592 >